الوحدةُ 9

الْقِياسُ

مِثالٌ: أُحَوِّطُ الْوَحْدَةَ الْأَنْسَبَ لِقِياسِ الطّولِ في كُلٍّ مِمّا يَأْتي:

a)

cm m

b)

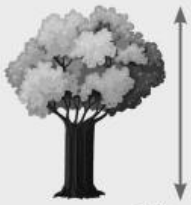

cm m

• الْمُحيطُ (الدَّرْسُ 4)

أَجِدُ مُحيطَ الشَّكْلِ الْمُظَلَّلِ في كُلٍّ مِمّا يَأْتي:

11

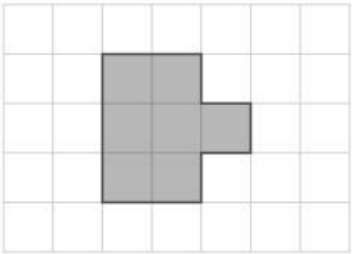

مُحيطُ الشَّكْلِ يُساوي _____ وَحْدَةً.

12

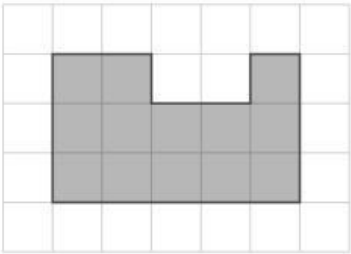

مُحيطُ الشَّكْلِ يُساوي _____ وَحْدَةً.

أَجِدُ مُحيطَ الشَّكْلِ في كُلٍّ مِمّا يَأْتي:

13

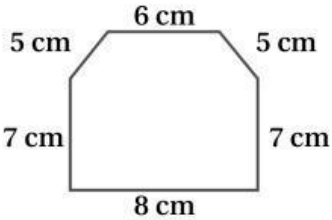

مُحيطُ الشَّكْلِ يُساوي _____ سَنْتيمِتْرًا.

14

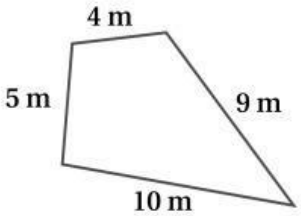

مُحيطُ الشَّكْلِ يُساوي _____ مِتْرًا.

LIVEWORKSHEETS

الْقِياسُ

مِثالٌ:

a) أَجِدُ مُحيطَ الشَّكْلِ الْمُظَلَّلِ الآتي:

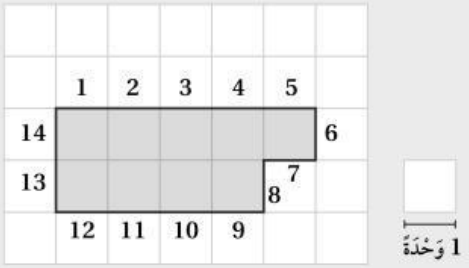

أَخْتارُ وَحْدَةً أَبْدَأُ الْعَدَّ مِنْها، ثُمَّ أَعُدُّ كُلَّ وَحْدَةٍ حَوْلَ الشَّكْلِ.

إِذَنْ، مُحيطُ الشَّكْلِ يُساوي 14 وَحْدَةً.

b) أَجِدُ مُحيطَ الشَّكْلِ الْمُجاوِرِ.

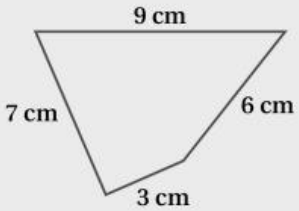

لِإيجادِ مُحيطِ الشَّكْلِ أَجْمَعُ أَطْوالَ أَضْلاعِهِ.

$$9 + 6 + 3 + 7 = 25$$

إِذَنْ، مُحيطُ الشَّكْلِ يُساوي 25 cm

LIVEWORKSHEETS

• **الْمِساحَةِ** (الدَّرْسُ 4)

أَجِدُ مِساحَةَ الشَّكْلِ الْمُظَلَّلِ في كُلٍّ مِمّا يَأْتي:

15
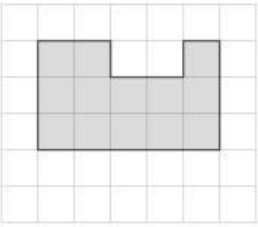

مِساحَةُ الشَّكْلِ تُساوي _____ وَحْدَةً مُرَبَّعَةً.

16
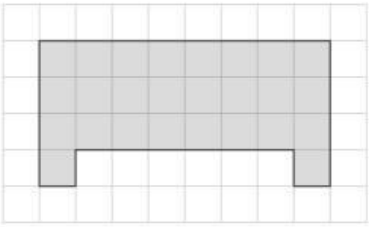

مِساحَةُ الشَّكْلِ تُساوي _____ وَحْدَةً مُرَبَّعَةً.

17
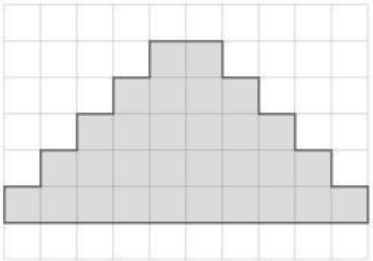

مِساحَةُ الشَّكْلِ تُساوي _____ وَحْدَةً مُرَبَّعَةً.

18
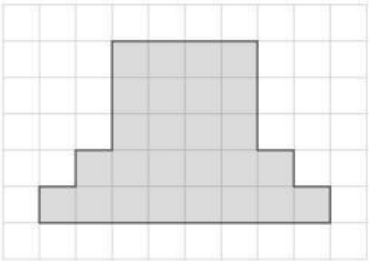

مِساحَةُ الشَّكْلِ تُساوي _____ وَحْدَةً مُرَبَّعَةً.

مِثالٌ:

أَجِدُ مِساحَةَ الشَّكْلِ الْمُظَلَّلِ الْمُجاوِرِ.

أَخْتارُ مُرَبَّعًا مُظَلَّلًا أَبْدَأُ الْعَدَّ مِنْهُ، ثُمَّ أَعُدُّ الْمُرَبَّعاتِ الْمُظَلَّلَةَ.

إِذَنْ، مِساحَةُ الشَّكْلِ تُساوي 13 وَحْدَةً مُرَبَّعَةً.

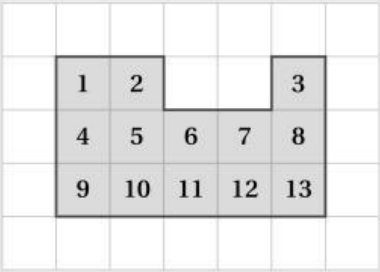

LIVEWORKSHEETS