Самостоятельная работа про геометрии

Класс _____

Ф.И.О._____

Задание 1. ***Соедините название свойства с четырехугольником, которому оно присуще.***

Диагонали равны



Диагонали перпендикулярны и являются биссектрисами углов

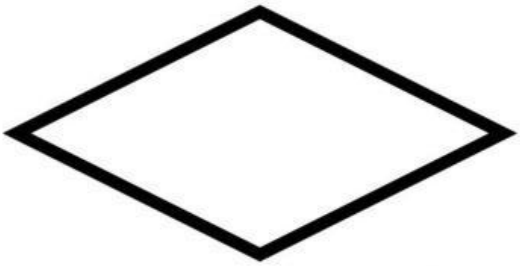

Диагонали точкой пересечения делятся пополам

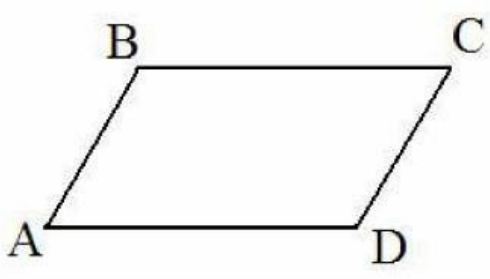

Противоположные углы равны
Диагонали равны, перпендикулярны и являются биссектрисами

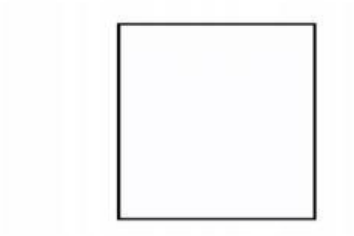

Задание 2. ***Отметьте верные утверждения***.

- Любой ромб является квадратом.
- Любой квадрат является прямоугольником.
- У трапеции диагонали всегда равны.
- У параллелограмма противолежащие углы равны.
- Прямоугольник — это частный случай ромба.

LIVEWORKSHEETS