LKPD
MATEMATIKA

Kelas 6 Sekolah Dasar

Nama:

kelas :

LIVEWORKSHEETS

BANGUN DATAR

Lengkapilah tabel bangun datar berikut!

Bangun Datar	Nama Bangun Datar	Banyak Sisi	Banyak Sudut
			
			
			
			

LIVEWORKSHEETS

Ciri-ciri Bangun Datar

Tariklah garis untuk menghubungkan bangun datar dengan ciri-cirinya dengan tepat dan benar!

Memiliki 5 sisi

Memiliki 3 sisi

Memiliki satu kurva atau garis lengkung

Memiliki 4 sisi

Memiliki 6 sisi

LIVEWORKSHEETS

BANGUN DATAR

Berikan tanda centang pada jawaban di bawah ini!

1 Bangun datar yang memiliki 4 sisi sama panjang adalah ...

a Persegi panjang
b Persegi
c Segitiga
d Lingkaran

2 Bangun datar yang memiliki 3 sisi adalah ...

a Segitiga
b Persegi
c Trapesium
d Lingkaran

3 Di bawah ini manakah yang termasuk rumus luas persegi?

a $s \times s$
b $p \times l$
c $\frac{1}{2} \times a \times t$
d $\pi \times r^2$

4 Bangun datar yang berbentuk bulat disebut ...

a Layang-layang
b Persegi
c Segitiga
d Lingkaran

LIVEWORKSHEETS