Nama : .....

Nomor Induk : .....

**PEMERINTAH KABUPATEN BANTUL**
**DINAS PENDIDIKAN KEPEMUDAAN DAN OLAHRAGA**
**KORWIL KAPANEWON PIYUNGAN**

# SUMATIF TENGAH SEMESTER (STS) GENAP SD/MI

**TAHUN PELAJARAN 2025/2026**

| | | | |
|---|---|---|---|
| **Kelas** | **: V (Lima)** | **Hari/Tanggal** | **:** |
| **Mata Pelajaran** | **: MATEMATIKA** | **Waktu** | **:** |

**Berilah tanda silang (x) pada huruf A, B, C, atau D pada jawaban yang paling tepat!**

1. Sudut yang besarnya kurang dari $90^0$ disebut dengan…
   a. sudut lancip
   b. sudut tumpul
   c. sudut siku-siku
   d. sudut lurus
2. Sebuah alat yang berguna untuk mengukur besarnya sudut disebut dengan…
   a. Mikroskop
   b. Termometer
   c. Busur derajat
   d. Jangka
3. Perhatikan gambar berikut !

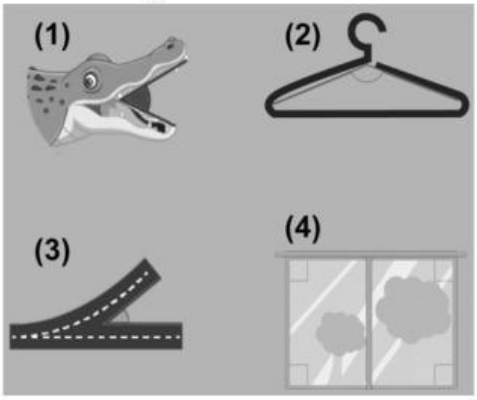


   Benda yang membentuk sudut tumpul ditunjukkan oleh gambar nomor. . .
   a. 1
   b. 2
   c. 3
   d. 4
4. Perhatikan gambar berikut !

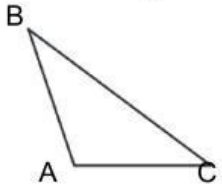


   Sudut BAC di samping termasuk sudut ....
   a. lancip
   b. siku – siku
   c. tumpul
   d. lurus
5. Berikut yang termasuk bagian sudut adalah….
   a. Ujung sudut
   b. Titik sudut
   c. Cabang sudut
   d. Tepi sudut

LIVEWORKSHEETS

6. Perhatikan gambar dibawah ini!

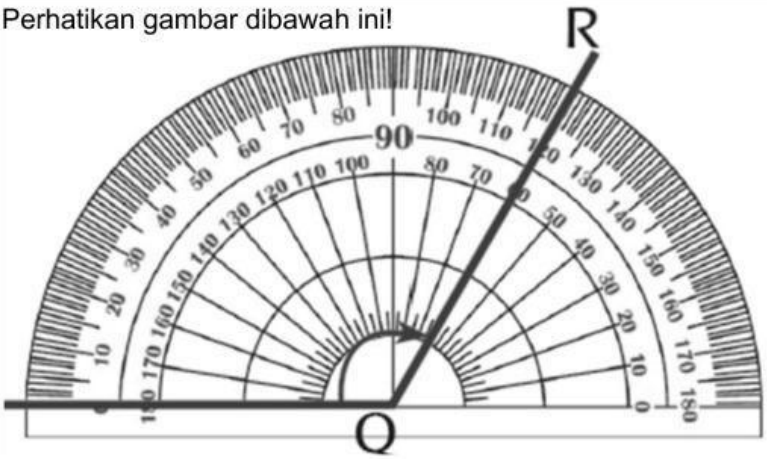


Besar sudut yang ditunjukan pada gambar di atas adalah…

a. $20^0$
b. $120^0$
c. $90^0$
d. $60^0$

7. Perhatikan gambar berikut!

Besar sudut terkecil yang dibentuk oleh jarum jam pendek dan jarum jam panjang pada gambar jam tersebut adalah ….

a. $10^o$
b. $20^o$
c. $30^o$
d. $40^o$

8. Perhatikan gambar berikut ini!

Besar sudut terkecil yang dibentuk oleh jarum pendek dan jarum panjang pada jam tersebut adalah ….

a. 100°
b. 105°
c. 110°
d. 115°

9. Besar sudut terkecil yang terbentuk pada pukul 10.00 adalah ....

a. 30°
b. 40°
c. 50°
d. 60°

10. Sudut terkecil yang dibentuk oleh jarum jam pendek dan jarum jam panjang pada pukul 20.30 adalah ….

a. 105°
b. 90°
c. 75°
d. 60°

LIVEWORKSHEETS

11. Besar sudut **refleks** ABC pada gambar di bawah ini adalah ….

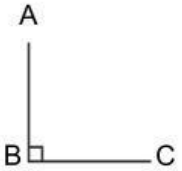


a. 90°
b. 150°
c. 210°
d. 270°

12. Hari ini Hilsa akan pergi ke kebun binatang. Hilsa berangkat dari rumahnya pada pukul 09.30. sesampainya disana, Hilsa berjumpa dengan teman – temannya yang sudah tiba terlebih dahulu. Mereka pun bermain bersama dengan riang gembira. Setelah selesai bermain, Hilsa dan teman – temannya bersiap untuk pulang. Mereka pulang pada pukul 14.00.

    Besar sudut terbesar yang dibentuk oleh jarum menit dan jarum jam pada pukul pulangnya Hilsa adalah ….

    a. 300°
    b. 285°
    c. 315°
    d. 330°

13. Bima berjalan mengelilingi lapangan. Mula – mula Bima berjalan lurus kea rah timur sejauh 50 m. kemudian, Bima berjalan lurus kea rah selatan sejauh 30 m. Bima melanjutkannya dengan berjalan lurus kea rah barat sejauh 50 m. Lalu, Bima berjalan lurus ke titik awal jalannya. Banyak sudut siku – siku pada lapangan ini adalah ….

    a. 1
    b. 2
    c. 3
    d. 4

14. Jika sudut KLM merupakan sudut siku-siku, maka ....

    a. Sudut KLM lebih dari 90°
    b. Sudut KLM sama dengan 90°
    c. Sudut KLM lebih dari 90°
    d. Sudut KLM lebih dari 180°

15. Berapakah jumlah total sudut lancip yang terdapat pada sebuah segitiga sama sisi?

    a. 1 sudut
    b. 2 sudut
    c. 3 sudut
    d. 4 sudut

16. Berapakah jumlah total sudut siku-siku yang terdapat pada sebuah segi empat?

    a. 1 sudut
    b. 2 sudut
    c. 3 sudut
    d. 4 sudut

17. Besar ketiga sudut dalam segitiga adalah …

    a. 90°
    b. 180°
    c. 240°
    d. 360°

18. Bangun datar mempunyai sifat:

    - Mempunyai 4 sisi sama panjang
    - Mempunyai 4 sudut sama besar
    - Kedua diagonal sama panjang dan berpotongan tegak lurus

    Bangun tersebut adalah…

    a. Persegi panjang
    b. Persegi
    c. Belah ketupat
    d. Jajargenjang

19. Trapesium sama kaki memiliki sebanyak … sudut siku – siku.

    a. 0
    b. 1
    c. 2
    d. 3

LIVEWORKSHEETS

20. Amati gambar berikut!

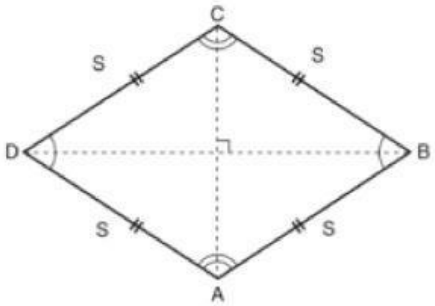


Gambar tersebut adalah bangun ….

a. Persegi panjang
b. Jajar genjang
c. Layang – layang
d. Belah ketupat

21. Layang – layang yang seluruh sisinya pasti sama panjang dapat disebut ….

a. Belah ketupat
b. Trapesium sama kaki
c. Jajar genjang
d. Persegi panjang

22. Panjang ruas garis yang dapat membentuk segitiga adalah ….

a. 5cm, 3cm, dan 3cm
b. 4cm, 4cm, dan 10cm
c. 6cm, 7cm, dan 14cm
d. 3cm, 6cm, dan 9cm

23. Jajar genjang yang seluruh sudutnya sama besar dapat disebut….

a. Trapesium siku – siku
b. Trapesium sama kaki
c. Persegi panjang
d. Segitiga sama sisi

24. Bangun yang memiliki dua pasang sisi sejajar adalah ….

a. 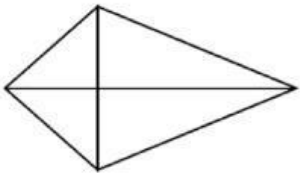

c.

b.

d. 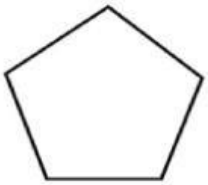

25. Bangun datar yang tidak memiliki simetri lipat adalah ….

a. Jajar genjang
b. Persegi panjang
c. Segitiga sama sisi
d. Persegi

26. Jenis sudut yang besarnya lebih dari 180° adalah …

a. Sudut siku – siku
b. Sudut lurus
c. Sudut lancip
d. Sudut refleks

LIVEWORKSHEETS

27. segitiga yang memiliki ciri – ciri tiga sisi sama panjang adalah ….
    a. Segitiga sama sisi
    b. Segitiga sembarang
    c. Segitiga sama kaki
    d. Segitiga siku – siku
28. Adam menggambar sebuah segi empat. Salah satu ciri – ciri segi empat yang digambar adalah memiliki sepasang sudut lancip.
    Kemungkinan segi empat yang digambar Adam adalah ….
    a. Persegi
    b. Persegi panjang
    c. Jajar genjang
    d. Trapesium
29. Jika salah satu sudut segitiga besarnya 45° , kemungkinan besar dua sudut yang lain adalah ….
    a. 90° dan 55°
    b. 85° dan 60°
    c. 30° dan 75°
    d. 65° dan 70°
30. Bangun yang memiliki lebih dari 3 simetri putar adalah ….

a. 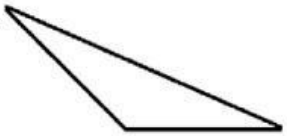

c. 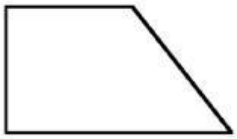

b.

d. 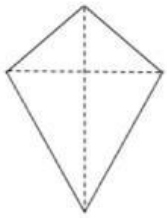

LIVEWORKSHEETS