Kurikulum Merdeka

KEGIATAN INTERAKTIF

Nama : .....

Kelas : .....

LIVEWORKSHEETS

Penjumlahan dengan Cerita Sederhana

Arahan! **Bacalah soal cerita berikut ini dengan teliti. Tuliskan jawaban soal tersebut dengan benar!**

Sebuah alat gambelan bali gendang berbentuk tabung memiliki:
jari-jari = 4 cm dan tinggi = 10 cm (π = 22/7)
Hitunglah volume tabung tersebut!

Jawab:

Sebuah pucuk pelinggih/sanggah berbentuk kerucut dengan jari-jari = 3 cm dan tinggi = 4 cm (π = 22/7)
Berapa volume kerucut tersebut?

Jawab: _____

ebuah wadah tirta berbentuk bola memiliki:
jari-jari = 3 cm (π = 22/7)
Hitunglah volume bola tersebut!

Jawab: _____

LIVEWORKSHEETS

Soal Mencocokan Gambar

Bangun Ruang Sederhana dalam Budaya Bali

Petunjuk Pasangkan bangun ruang di bawah ini dengan tepat.

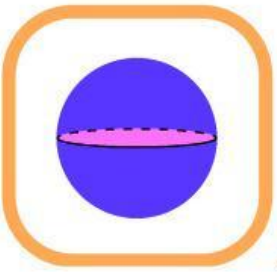

LIVEWORKSHEETS

Mengenal bangun ruang sederhana

Petunjuk Amati gambar bangun ruang , tuliskan nama bangun ruang, lalu isi jumlah sisi, rusuk, dan titik sudutnya dengan benar!

No	Gambar Bangun Ruang	Nama Bangun Ruang	Bagian Bangun Ruang
1			• Sisi: • Rusuk: • Titik sudut:
2			• Sisi: • Rusuk: • Titik sudut:
3	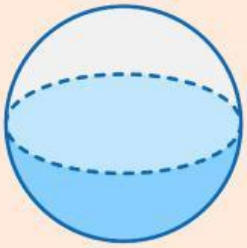		• Sisi: • Rusuk: • Titik sudut:

LIVEWORKSHEETS