Lembar Kerja Peserta Didik

LKPD

Ilmu Pengetahuan Alam dan Sosial (IPAS)

Untuk Kelas 5 SD/MI

Mengenal Indonesia Melalui Peta

Nama: .....

Kelas: .....



LIVEWORKSHEETS

Mengidentifikasi Komponen-Komponen Peta

CP: Murid menggunakan peta konvensional/digital untuk mengenal letak dan kondisi geografi negara Indonesia.

Tujuan Pembelajaran :

1. Menjelaskan bagan-bagan peta dan fungsinya
2. Menunjukkan letak dan kondisi geografis wilayah Indonesia

Petunjuk Kerja :

1. Tulislah Nama dan Kelas pada halaman Pertama dengan mengklik kotak Nama dan Kelas.
2. Ikuti alur kerja LKPD ini sesuai arahan dan petunjuk yang ada.
3. Jika kamu diminta menonton video, klik pada tombol yang sudah disediakan.
4. Jika kamu diminta mengerjakan kuis, kerjakan dengan baik dan benar sesuai petunjuk.
5. Untuk melakukan Tes Evaluasi, Klik sesua arahan.

LIVEWORKSHEETS

Agar kamu lebih tahu tentang komponen-komponen peta, silahkan tonton Video dibawah ini!

LIVEWORKSHEETS

Mengidentifikasi Komponen-Komponen Peta

Perhatikanlah gambar peta di bawah ini, kemudian sebutkan komponen-komponen utama yang kamu lihat pada peta tersebut!

LIVEWORKSHEETS

Mengidentifikasi Komponen-Komponen Peta

Perhatikanlah gambar peta di bawah ini, kemudian sebutkan komponen-komponen utama yang kamu lihat pada peta tersebut!

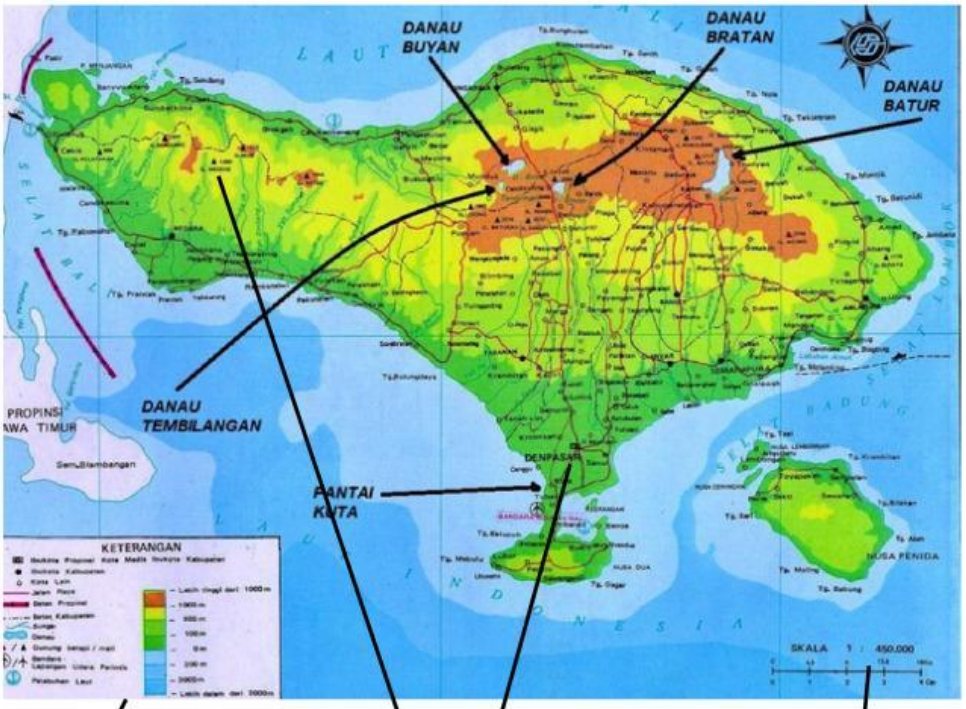

LIVEWORKSHEETS

Menulis Arah Mata Angin Pada Kompas

Perhatikanlah gambar komponen di bawah ini, dan isilah jawaban pada titik-titik di bawah soal sesuai arah pada kompas.

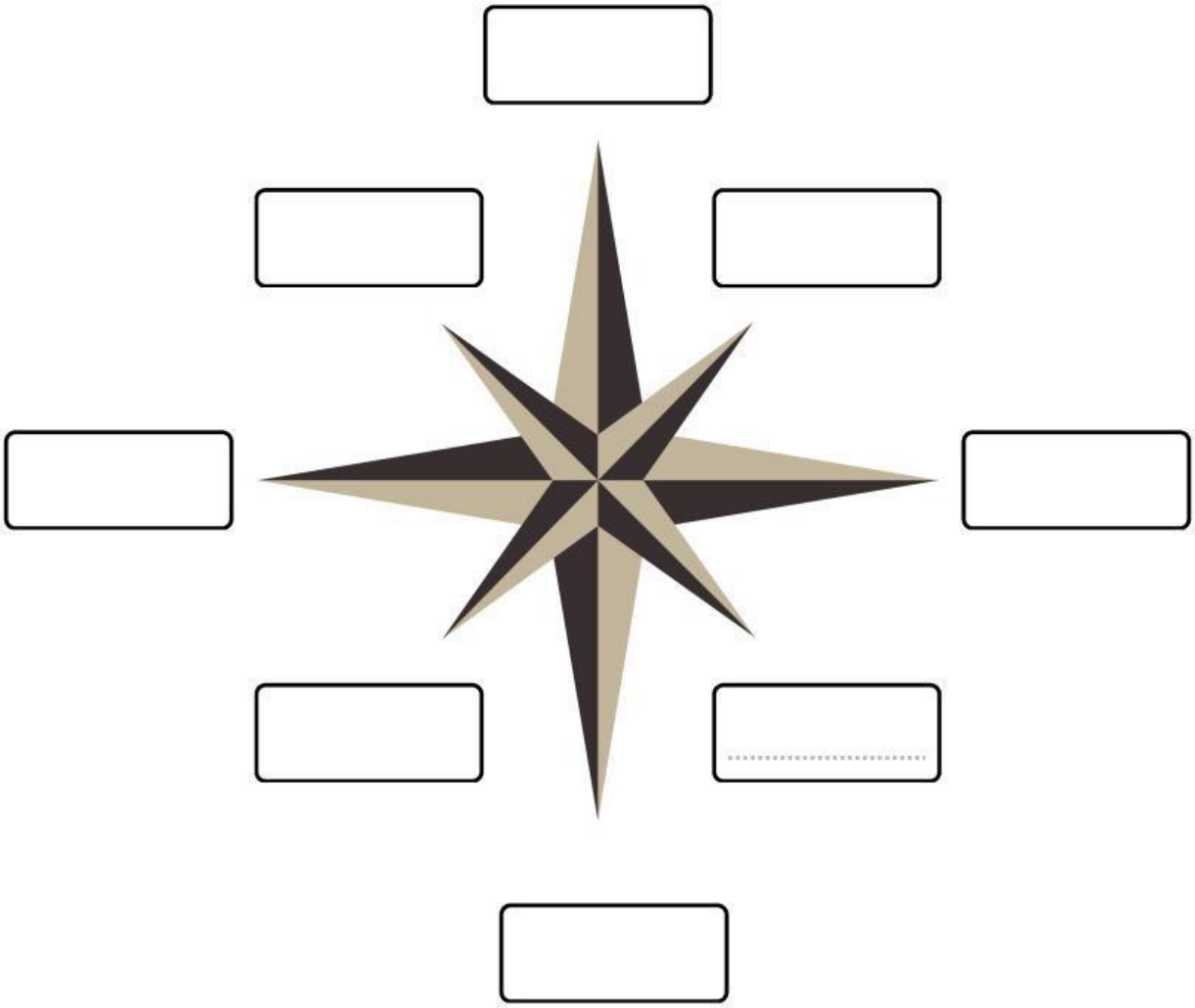

LIVEWORKSHEETS

Mengidentifikasi Fungsi Komponen Pada Peta

Perhatikanlah gambar komponen di bawah ini, dan isilah jawaban pada titik-titik di bawah soal dengan benar.

Dapatkah kamu menjelaskan komponen apa yang ada pada gambar di atas, apakah fungsi dari komponen tersebut?

.....

.....

.....

.....

.....

.....

LIVEWORKSHEETS

Mengidentifikasi Fungsi Komponen Pada Peta

Perhatikanlah gambar komponen di bawah ini, dan isilah jawaban pada titik-titik di bawah soal dengan benar.

Dari gambar diatas, kita bisa melihat titik koordinat Indonesia. Jelaskan titik koordinat Indonesia!

.....

.....

.....

.....

.....

.....

LIVEWORKSHEETS

Mengidentifikasi Fungsi Komponen Pada Peta

Perhatikanlah gambar komponen di bawah ini, dan isilah jawaban pada titik-titik di bawah soal dengan benar.

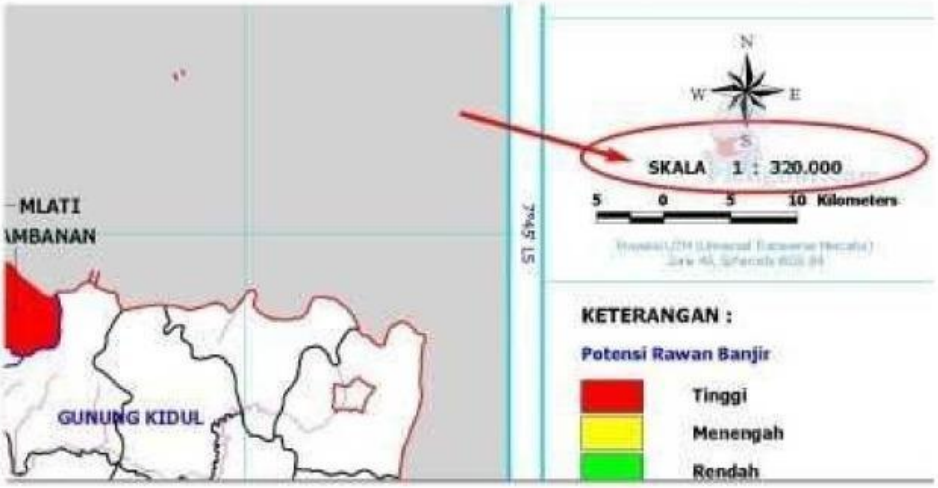

- Jelaskan apa yang dimaksud dengan Skala !
- Lihat kembali gambar diatas ! Skala Peta tersebut adalah 1 : 320.000 Bagaimana cara membaca skala tersebut !

.....

.....

.....

.....

.....

.....

LIVEWORKSHEETS

Menemukan Letak Provinsi Di Suatu Pulau

Dapatkah kamu menyebutkan provinsi-provinsi pada pulau di bawah ini sesuai huruf abjad, apa nama dari provinsi tersebut?

Sebutkan nama Provinsi yang ditunjukkan oleh nomer 1, 12, dan 17.

.....

.....

.....

.....

.....

LIVEWORKSHEETS

Menemukan Letak Geografis Indonesia

Temukan letak geografis negara Indonesia berdasarkan posisi terhadap benua dan samudra yang mengelilinginya.

.....

.....

.....

.....

.....

LIVEWORKSHEETS

EVALUASI

LIVEWORKSHEETS