KINGDOM OF BAHRAIN
Ministry of Education
مملكة البحرين
وزارة التربية والتعليم

الاسم:
الصف:

مادة الرياضيات: درس الثلث والربع

نشاط تقييمي

☆ أَصِلُ الكسر بالصورة التي تمثله لها:

$\frac{١}{٣}$

$\frac{١}{٤}$

☆☆ أكتب الكسر الذي يمثل الجزء الملون أو المأكول:

١) 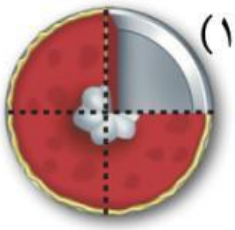 ــــــ

٢) 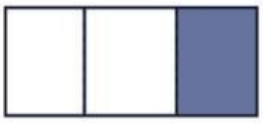 ــــــ

٣) ــــــ

☆☆☆ ألون الجزء الأول من الشكل، وأختار الكسر الذي يمثله:

١) 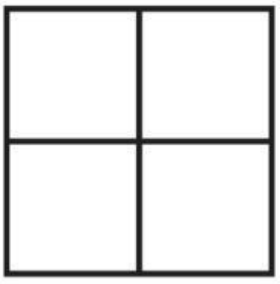

$\frac{١}{٢}$ $\frac{١}{٣}$ $\frac{١}{٤}$

٢)

$\frac{١}{٢}$ $\frac{١}{٣}$ $\frac{١}{٤}$

٣)

$\frac{١}{٢}$ $\frac{١}{٣}$ $\frac{١}{٤}$

إعداد: أ. فاطمة فائق المعلمة المتعاونة: أ. فاطمة الصحاف

LIVEWORKSHEETS