MATEMÁTICAS

- Unir con una línea la hora con el reloj que le corresponde.

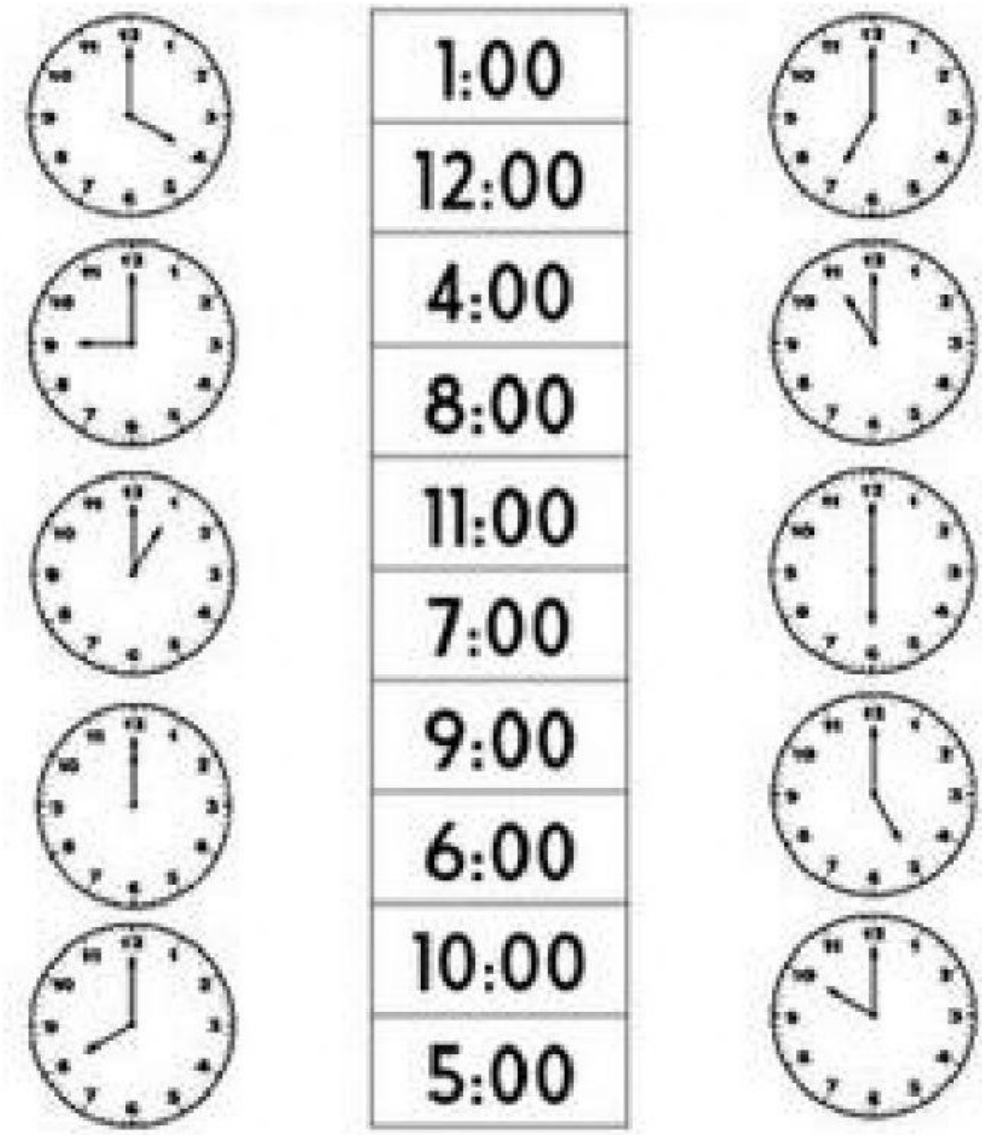

LIVEWORKSHEETS

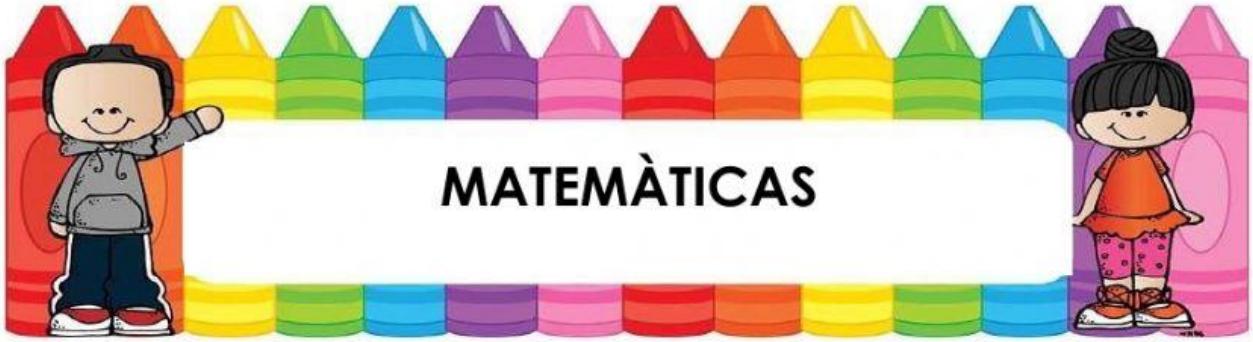

- Observar la tabla y responder lo siguiente.

Producto \ Marca	Pop	Son	Tan
Sacapuntas	$ 4.00	$ 3.00	$ 3.50
Lápiz	$ 3.00	$ 3.50	$ 4.00
Pluma	$ 5.00	$ 6.00	$ 5.50

1. ¿Qué marca de sacapuntas es más caro?

2. ¿Qué marca de pluma es más barato?

3. ¿Cuánto gastaría si comprara 1 sacapuntas pop, 1 lápiz son, y 2 plumas tan?

4. ¿Cuánto seria en 5 sacapuntas marca son?

5. ¿Cuánto seria en comprar 10 plumas marca pop?

LIVEWORKSHEETS

- Observar las imágenes y escribir como está el agua en cada caso, **S** si esté sólido, **G** gaseoso y **L** si se encuentra en estado líquido.

LIVEWORKSHEETS

MATEMÁTICAS

- Escribe en los recuadros la fracción que representa la parte sombreada de cada figura.

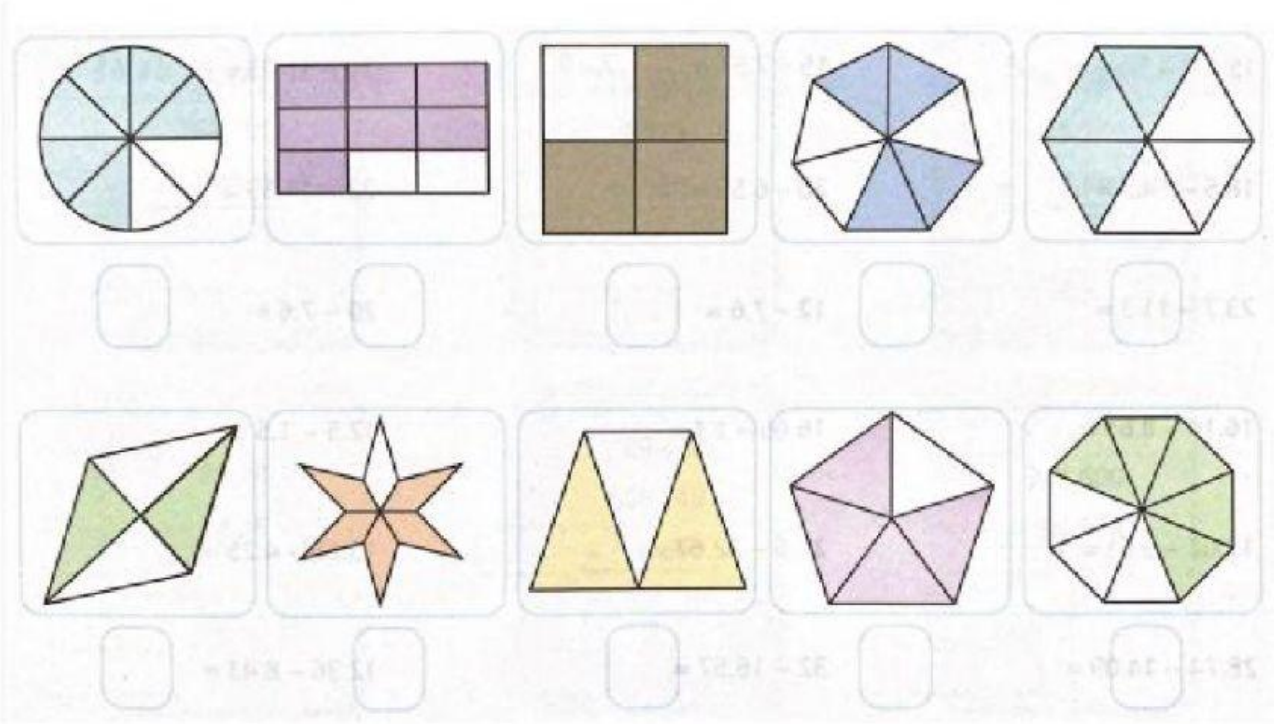

LIVEWORKSHEETS

- Observa las imágenes y lee las situaciones. Después marca con una palomita si las emociones que representan son constructivas.

Pepe le pega a un niño con una pelota y le da mucha risa.

Laura vio que Marisol estaba triste porque su cuaderno estaba extraviado, así que la ayudó a encontrarlo y Marisol se sintió mejor.

Lorenzo quiere subirse a un árbol, pero se da cuenta de que una de las ramas se puede romper, así que prefiere jugar futbol con su amigo Daniel.

A Lorena le dijo su papá que terminara la tarea para que pudiera ver su programa favorito en la televisión, y Lorena se molestó.

LIVEWORKSHEETS