عنوان الدرس :حجم الأسطوانة
نواتج التعلم : إيجاد حجم الأسطوانة
إيجاد حجم الاشكال المركبة

تمارين ذاتية

4. لفة مناشف ورقية غير مستخدمة موضحة. ما حجم اللفة غير المستخدمة؟

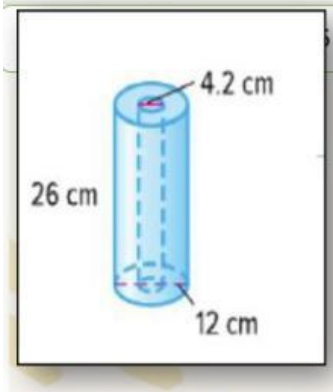

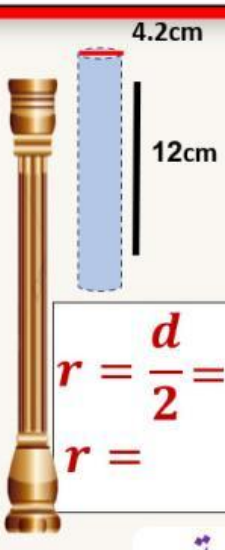

حجم الاسطوانة1

$V1 = \pi \cdot r^2 \cdot h$

$V1 \approx \quad \times \quad \times$

$V1 \approx \quad cm^3$

$r = \frac{d}{2} = \frac{\square}{2}$

$r =$

حجم الاسطوانة2

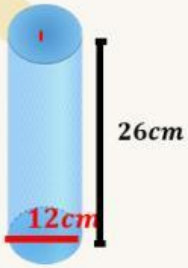

$V2 = \pi \cdot r^2 \cdot h$

$V2 \approx \quad \times \quad \times$

$V2 \approx \quad cm^3$

$r = \frac{d}{2} = \frac{\square}{2}$

$r =$

حجم اللفة غير المستخدمة

$= \quad - \quad = \quad cm^3$

LIVEWORKSHEETS