LKPD

MATEMATIKA KELAS 5

SEMESTER 2

BAB - PENGOLAHAN DATA

Nama : _____

Kelas : _____

LIVEWORKSHEETS

MEMBACA DATA

Nama:

Kelas:

Data Buah Favorit

Buah	Turus	Jumlah
	𝍸 𝍸 𝍸 𝍸 𝍸	25
	𝍸 𝍸 𝍸 𝍸 𝍸 𝍸	30
	𝍸 𝍸 𝍸 |||	18
	𝍸 𝍸 𝍸 𝍸 ||	22
	𝍸 𝍸 𝍸 𝍸 𝍸 |	26

MISS ANI

Jawablah pertanyaan berikut berdasarkan tabel data!

Buah apa yang paling banyak diminati siswa?

_____

Buah apa yang paling sedikit diminati siswa?

_____

Berapa jumlah peminat buah pisang?

_____

Hitunglah seluruh buah yang diminati siswa?

_____

Adakah buah dengan jumlah peminat yang sama?

_____

Berapakah jumlah peminat buah jeruk dan apel??

_____

LIVEWORKSHEETS

MEMBACA DIAGRAM

Nama: **Kelas:**

Data Kegemaran Siswa Kelas 5 SD Negeri Sukamaju

Kegemaran	Banyak Siswa
Berenang	
Sepak Bola	
Membaca	
Menggambar	
Bersepeda	

Keterangan = mewakili 2 siswa

MISS ANI

Jawablah pertanyaan di bawah ini dengan benar!

1. Jumlah siswa yang gemar berenang adalah . . .
2. Jumlah siswa yang gemar sepakbola adalah . . .
3. Jumlah siswa yang gemar membaca adalah . . .
4. Jumlah siswa yang gemar menggambar adalah . . .
5. Kegemaran yang paling banyak disukai siswa kelas 5 adalah . . .
6. Kegemaran yang paling sedikit disukai siswa kelas 5 adalah . . .
7. Selisih anak yang gemar bersepeda dan berenang adalah . . .
8. Selisih anak yang gemar membaca dan sepakbola adalah . . .
9. Jumlah anak yang gemar menggambar dan bersepeda adalah . . .
10. Jumlah seluruh siswa kelas 5 berdasarkan gambar diagram di atas adalah . . .

LIVEWORKSHEETS

MEMBACA DIAGRAM

Nama:

Kelas:

Data Buah Kesukaan Siswa Kelas 5 SD Negeri Maju Jaya

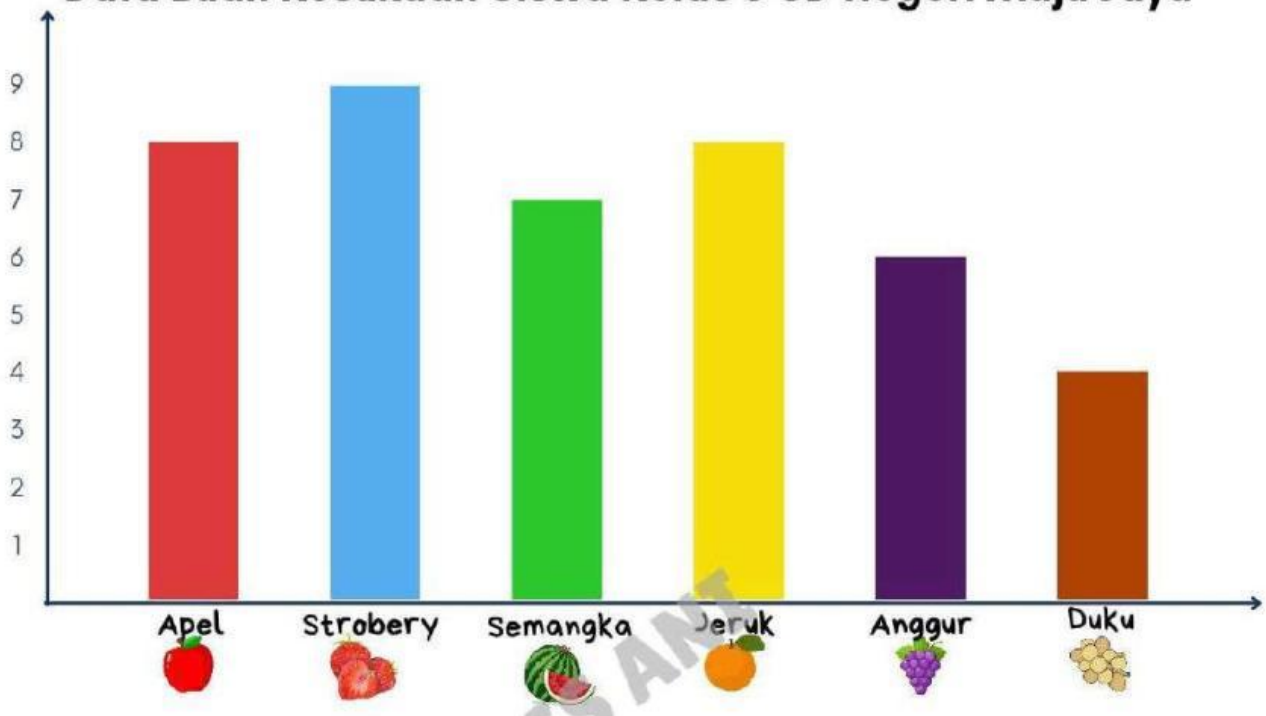

MISS ANI

Jawablah pertanyaan di bawah ini dengan benar!

1. Jumlah anak yang menyukai apel adalah . . .
2. Jumlah anak yang menyukai semangka adalah . . .
3. Jumlah anak yang menyukai jeruk adalah . . .
4. Jumlah anak yang menyukai anggur adalah . . .
5. Buah yang paling banyak disukai siswa kelas 5 adalah . . .
6. Buah yang paling sedikit disukai siswa kelas 5 adalah . . .
7. Selisih anak yang menyukai apel dan duku adalah . . .
8. Selisih anak yang menyukai strobery dan anggur adalah . . .
9. Jumlah anak yang menyukai semangka dan jeruk adalah . . .
10. Jumlah seluruh siswa kelas 5 berdasarkan gambar diagram di atas adalah . . .

LIVEWORKSHEETS

MENGUMPULKAN DATA

Nama:

Kelas:

Data Tinggi Badan Kelas 5 SD Negeri Makmur

No.	Nama	Tinggi Badan (cm)	No.	Nama	Tinggi Badan (cm)
1	Sultan	138	11	Farhan	138
2	Nani	142	12	Rama	139
3	Dini	139	13	Nabila	142
4	Dika	138	14	Syifa	139
5	Mella	137	15	Mauren	137
6	Aisyah	139	16	Sita	142
7	Kayla	137	17	Naya	139
8	Wisnu	142	18	Mikaila	137
9	Joshua	137	19	Sohwa	139
10	Maya	137	20	Bima	137

MISS ANI

Sajikan data di atas dalam bentuk tabel!

Tinggi Badan Kelas 5 SD Negeri Makmur

Tinggi Badan (cm)	Turus	Jumlah Siswa

LIVEWORKSHEETS

MEMBUAT DIAGRAM GAMBAR

Nama:

Kelas:

Data Buah Kesukaan dari 40 Siswa Kelas 5 SD Negeri Sukamaju



Buatlah tabel dari data buah kesukaan siswa kelas 5 di atas!

Buah Kesukaan	Turus	Banyak Siswa
Jeruk		
Semangka		
Nanas		
Anggur		
Manggis		

MISS ANI

Buatlah piktogram atau diagram gambar dari data di atas!

Data Buah Kesukaan Kelas 5 SD Negeri Sukamaju

Buah Kesukaan	Banyak Siswa

LIVEWORKSHEETS

MEMBUAT DIAGRAM BATANG

Nama:

Kelas:

Data Makanan Kesukaan dari 30 Siswa Kelas 5 SD Negeri Sukamaju

= bakso = mie ayam = nasi goreng = seblak = soto

Buatlah tabel dari data buah kesukaan siswa kelas 5 di atas!

Tabel Makanan Kesukaan Siswa Kelas 5 SD Negeri Sukamaju

Makanan Kesukaan	Turus	Banyak Siswa
Bakso		
Mie Ayam		
Nasi Goreng		
Seblak		
Soto		

MISS ANI

Buatlah diagram batang dari tabel makanan kesukaan siswa kelas 5 di atas!

Data Makanan Kesukaan Siswa Kelas 5 SD Negeri Sukamaju

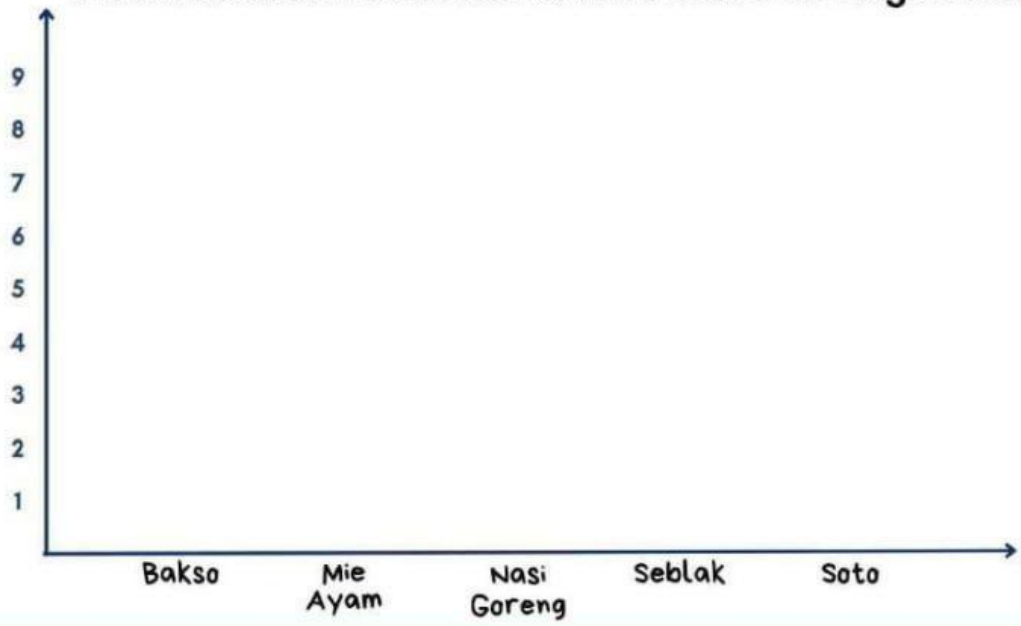

LIVEWORKSHEETS