تربية وتعليم

أنطلق! تمرين على الاختبار

21. صِل كل عدد من الوجوه والحواف والرؤوس بالشكل المجسم الصحيح.

الشكل 1
الشكل 2
الشكل 3

الشكل 1

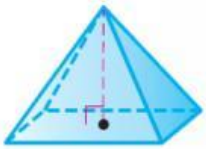

الشكل 2

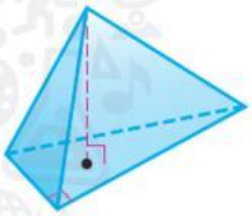

الشكل 3

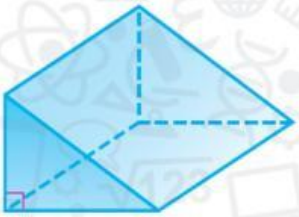

a. 4 وجوه، و 6 حواف، و 4 رؤوس

b. 5 وجوه، و 8 حواف، و 5 رؤوس

c. 5 وجوه، و 9 حواف، و 6 رؤوس

LIVEWORKSHEETS