AL RABEEH ACADEMY
أكاديمية الربيع

هـويتـي
MY IDENTITY

الإمارات وأمريكا الشمالية

الهدف التعليمي

أن أحلل الخصائص الجغرافية لأمركيا الشمالية

LIVEWORKSHEETS

تقييم قبلي

2:00

مهارة قراءة الخريطة

رتب قارات العالم والمحيطات من الأكبر إلى الأصغر .

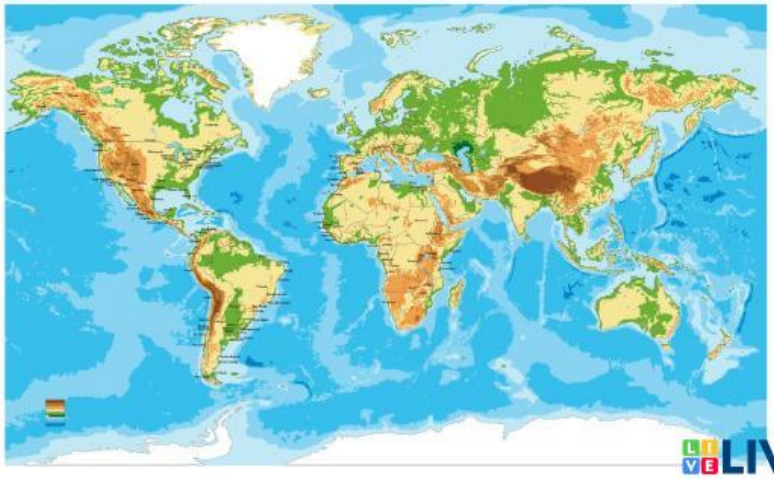

LIVEWORKSHEETS

LIVEWORKSHEETS

أقوال مأثورة

تراثنا هويتنا

LIVEWORKSHEETS

LIVEWORKSHEETS

الموقعُ الجغرافيُّ لقارّةِ أمريكا الشّماليّة

تقعُ قارّةُ أمريكا الشّماليّةِ في نصفِ الكُرةِ الشّماليّ.

حدودُ أمريكا الشّماليّة

يحدُّها مِنَ الشّمالِ المُحيطُ المُتجمّدُ الشّماليُّ، وَ مِنَ الغربِ والجنوبِ الغربيّ المحيطُ الهادي، وَ مِن الشّرقِ المُحيطُ الأطلنطيُّ، ومنَ الجنوبِ تتّصلُ مع دولِ أمريكا اللاتينيّةِ.

تفكير ناقد : ما أهمية موقع أمريكا الشّماليّة؟

تتمتّعُ أمريكا الشّماليّةُ بموقعٍ جغرافيٍّ هامٍّ، فموقعها بينَ محيطينِ واسعينِ ضمنَ لها الحمايةَ من أطماعِ وصراعاتِ الدُّولِ القويّةِ في العالمِ القديمِ.

LIVEWORKSHEETS

الموقِعُ الفلكيُّ لقارّة أمريكا الشّماليّة

تمتدّ قارّةُ أمريكا الشماليةِ بين دائرتي عَرض 25° و 83° شمالًا، وخَطَّي طول 51° و 170° غربًا.

تفكير ناقد: ما الّذي يترتّبُ على الموقع الفلكيّ لقارّة أمريكا الشمالية؟

- وقوعُ أمريكا الشماليةِ بأكملِها في نصفِ الكُرةِ الشَّماليّ.
- مرورُ مدارِ السَّرطان جنوبَها، والدائرةِ القُطبيّةِ الشّماليّةِ شمالَها.

LIVEWORKSHEETS

مظاهرُ السّطح

المرتفعاتُ والسّهولُ السّاحليّةُ في الشّرقِ

هضبةُ لبرادور

هيَ هضبةٌ قليلةُ الارتفاعِ، وتكثرُ فيها البحيراتُ.

مرتفعاتُ الأبلاش

جبالٌ قديمةُ النَّشأةِ قليلةُ الارتفاعِ في الجنوبِ، تنحصرُ بينَها وبينَ سواحلِ المحيطِ الأطلنطيِّ سهولٌ رسوبيّةٌ خصبةٌ.

LIVEWORKSHEETS

مظاهرُ السّطح

المرتفعاتُ والسَّواحلُ الغربيّةُ والسّهول الوسطى

المرتفعاتُ والسَّواحلُ الغربيّةُ

تتكونُ مِن جبالٍ عاليةٍ حديثةِ التَّكوينِ، تقعُ في غربِ القارّةِ وتمتدُّ منْ أَقصى الشّمالِ إلى أَقصى الجنوبِ. تنحصرُ بينَها وبينَ المحيطِ الهادي سهولٌ ساحليّةٌ ضيّقةٌ.

تُعرفُ السّلسلةُ الدّاخليّةُ منها باسمِ (جبالُ روكي)، والسّلسلةُ الأُخرى بمحاذاةِ السّاحلِ تُعرفُ بأسماءٍ مختلفةٍ مثلَ (جبالِ كسكيد، سييرانيفادا).

LIVEWORKSHEETS

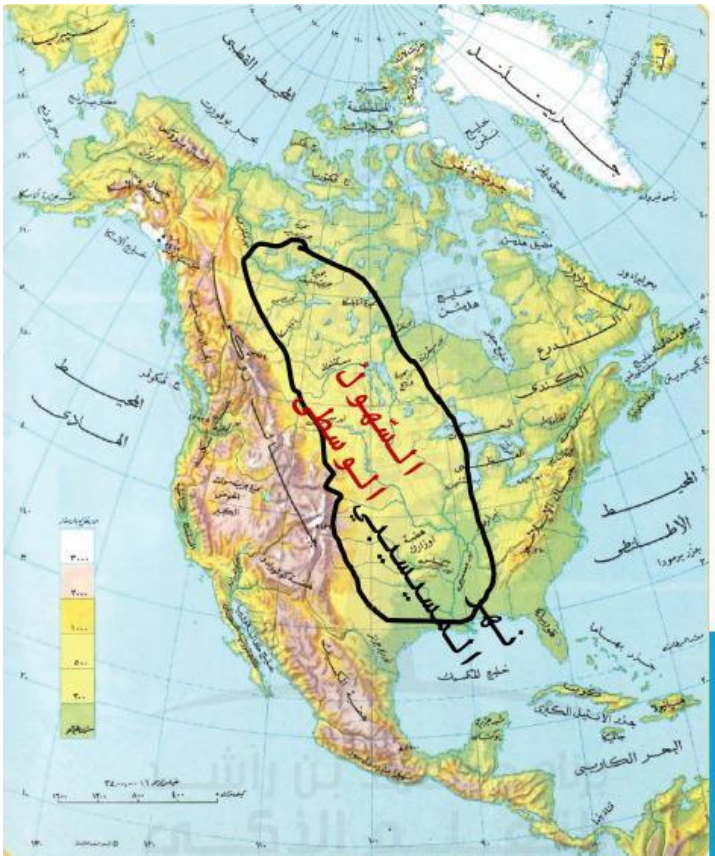

مظاهرُ السّطح

المرتفعاتُ والسَّواحلُ الغربيّةُ والسّهول الوسطى

السّهولُ الوسطى

تقعُ بينَ المُرتفعاتِ الشَّرقيةِ والمُرتفعاتِ الغربيّةِ، وهي مُتّسعةٌ.

يجري بها نهرُ (المسيسيبي).

LIVEWORKSHEETS

المُناخ

تقعُ قارَّةُ أمريكا الشّماليّـةِ بمعظمِها في المنطقةِ المعتدلةِ ما عدا الأجزاءَ الشَّماليَّـةَ.

تقعُ الأجزاءُ الشَّماليّـةُ لقارّةِ أمريكا الشّماليّـةِ في المنطقةِ الباردةِ لِمُرورِ الدّائرةِ القطبيّـةِ بها.

تقعُ الأجزاءُ الجنوبيّـةُ لقارّةِ أمريكا الشّماليّـةِ في المنطقةِ الحارّةِ لِـمُرورِ مدارِ السَّرطانِ بها.

العوامل المؤثرة في المناخ

- الامتداد بحسب دوائر العرض
- تنوع التضاريس
- الموقع بالنسبة للمسطحات المائية

LIVEWORKSHEETS

المُناخ

تتّجهُ الجبالُ الرّئيسةُ في أمريكا الشّماليّةِ منَ الشّمالِ إلى الجنوبِ.

تفكير ناقد : ما الّذي يترتّبُ على اتجاه التضاريس في أمريكا الشمالية من الشمال للجنوب ؟

أدّى اتّجاهُ تضاريسِ أمريكا الشّماليّةِ جنوبيًّا إلى توغّلِ المؤثّراتِ المناخيّةِ إلى الجزءِ الأوسطِ منَ القارّةِ، وإيجادِ أقاليمَ مناخيّةٍ متنوّعةٍ.

إنَّ اتّجاهَ الجبالِ الرّئيسةِ في أمريكا الشّماليّةِ منَ الشّمالِ إلى الجنوبِ أدّى إلى جعلِ الجزءِ الأوسطِ منها مفتوحًا أمامَ المؤثّراتِ القطبيّةِ الشّماليّةِ، والمؤثّراتِ البحريّةِ الجنوبيّةِ.

أواسطُ أمريكا الشّماليّةِ

أواسطُ آسيا

أواسِطُ أمريكا الشّماليّةِ ليسَتْ قاحلةً كأواسطِ قارّةِ آسيا

LIVEWORKSHEETS

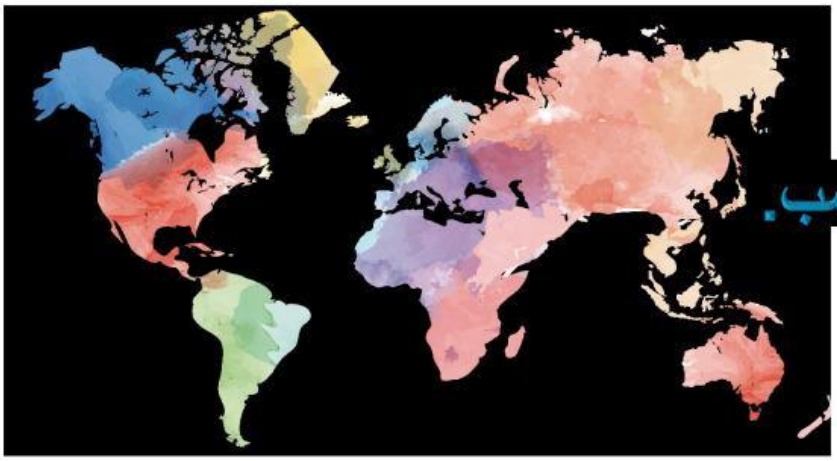

تقييم ختامي

أكمل العبارات التالية بما يناسب.

2:00

•يحدُّ قارّةَ أمريكا الشّماليّـةِ منَ الشّرقِ : .....

•يحدُّ قارّةَ أمريكا الشّماليّـةِ منَ الغربِ والجنوبِ الغربيّ :.....

•تتّصلُ قارّةُ أمريكا الشّماليّـةِ من جهةِ الجنوبِ معَ دولِ: .....

•يحدُّ قارّةَ أمريكا الشّماليّـةَ منَ الشّمالِ: .....

•موقعُ أمريكا الشّماليّـةِ بين المحيط ..... و ..... ضمنَ لها الحمايةَ منْ أطماعِ وصراعاتِ الدّولِ القويّـةِ في العالَمِ القديمِ.

LIVEWORKSHEETS

لنكتشف أسئلة البطاقات ونسجل الإجابة في البطاقة

هـويتـي
MY IDENTITY

5:00
Stop

LIVEWORKSHEETS