DOKUMEN MADRASAH		Nama :
SANGAT RAHASIA		No :

SUMATIF AKHIR SEMESTER GENAP

MI HIDAYATUL MUBTADIIN DEMPEL

TAHUN PELAJARAN 2025/2026

Mata Pelajaran : MATEMATIKA	Waktu : 90
Kelas : II (Dua)	Hari tanggal :

I. Ayo, memilih salah satu jawaban yang tepat dengan memberi tanda silang (x) pada huruf a, b, atau c!

1. Perhatikan gambar berikut!



Bagian yang diarsir di samping bernilai …

a. Setengah b. sepertiga c. seperempat

2. Perhatikan potongan lingkarang berikut!



Potongan lingkarang di samping bernilai …

a. Setengah
b. Seperempet
c. Seperlima

3. Perhatikan gambar pensil berikut!

Setengah dari banyak pensil di samping adalah …

a. 3 pensil b. 4 pensil c. 5 pensil

4.

Bagian yang diwarna biru disamping menunjukkan …

a. Sepertiga b. setengah c. seperempat

5. Arista mempunyai 8 permen.

Arista memberikan setengah dari permennya kepada Dika.

Banyak permen yang diterima Dika adalah …

a. 2 permen b. 3 permen c. 4 permen

LIVEWORKSHEETS

6. Perhatikan setengah dari banyak labu milik Halimah berikut!

banyak labu milik Halimah seluruhnya adalah …

a. 4 labu b. 6 labu c. 8 labu

Maya mempunyai 20 rambutan.
Maya memberikan setengah dari rambutannya kepada Adi.
Adi telah memakan setengah dari rambutan yang diterimanya.

7. Sisa rambutanmilik Maya adalah …
   a. 8 rambutan b. 10 rambutan c. 12 rambutan
8. Sisa rambutan milik Adi adalah …
   a. 5 rambutan b. 6 rambutan c. 8 rambutan
9. Bagian diarsir berikut yang menunjukkan seperempet adalah …
   a.  b. 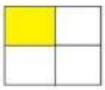 c. 
10. Perhatikan kegiatan berikut!
   (1) Kinan gosok gigi
   (2) Ganes minum jus manga.
   (3) Dayu membaca komik
   Anak yang kegiatannya memerlukan waktu paling lama adalah …
   a. Kinan b. Ganes c. Dayu
11. Kegiatan berikutyang memerlukan waktu sebentar adalah …
   a. Menggosok gigi b. tidur siang c. makan malam
12. Perhatikan kegiatan-kegiatan berikut!
   (1) Jeni mencuci muka
   (2) Tias makan malam.
   (3) Titus bermain sepak bola.
   Urutan anak dari yang melakukan kegiatan paling lama adalah …
   a. Jeni, Tias, dan Titus
   b. Titus, Jeni, dan Tias
   c. Titus, Tias, dan Jeni

(1)Buku
(2)Tas
(3)Penggaris

13. Benda yang paling berat adalah …
   a. Buku b. tas c. penggaris
14. Urutan benda dari yang paling berat adalah …
   a. Buku, tas, dan penggaris
   b. Tas, penggaris, dan buku
   c. Tas, buku dan penggaris
15. Benda di atas yang paling ringgan adalah …
   a. Tas b. penggaris c. buku

LIVEWORKSHEETS

LIVEWORKSHEETS