Pahamilah Materi di Bawah ini

Pengertian Bangun Datar

Bangun datar adalah bentuk dua dimensi yang memiliki panjang dan lebar, tetapi tidak memiliki tinggi.

Jenis-Jenis Bangun Datar

Bangun datar yang sering dipelajari di kelas 1, yaitu:

- Lingkaran
- Persegi
- Segitiga
- Persegi panjang

Contoh dalam Kehidupan Sehari-hari

- Lingkaran → bola, jam
- Persegi → ubin, papan
- Segitiga → atap rumah
- Persegi panjang → buku, pintu

1. Bacalah setiap soal dengan teliti sebelum menjawab.
2. Kerjakan soal sesuai dengan jenisnya (pilihan berganda, mencocokkan, dan menebak nama bangun).
3. Pilihlah jawaban yang paling tepat dengan memberi tanda silang (X) pada huruf A, B, C, atau D untuk soal pilihan berganda.
4. Untuk soal mencocokkan, tarik garis atau pasangkan jawaban yang sesuai antara kolom kiri dan kolom kanan.
5. Untuk soal menebak nama bangun, tuliskan nama bangun datar yang sesuai berdasarkan ciri-ciri atau gambar yang diberikan.
6. Periksa kembali jawaban sebelum dikumpulkan.
7. Kerjakan soal dengan jujur dan mandiri.

A. Kerjakan Soal di Bawah ini!

1. Apakah nama bangun datar di bawah ini?

a.Lingkaran

b.Persegi

c.Segitiga

d.Trapesium

LIVEWORKSHEETS

2. Apakah nama bangun datar di bawah ini?

a.Lingkaran

b.Persegi

c.Segitiga

d.Trapesium

3. Apakah nama bangun datar di bawah ini?

a.Lingkaran

b.Persegi

c.Segitiga

d.Trapesium

B. Cocokkan Gambar di Bawah ini!





Persegi Panjang

Segi Tiga

Persegi

Segi Lima

LIVEWORKSHEETS

C. Tebaklah Nama Bangun Datar di bawah ini!



D. Refleksi

Beri tanda (✔) pada jawaban yang sesuai dengan perasaanmu setelah mengerjakan LKPD ini.

[ ] Saya senang belajar penjumlahan dengan gambar.

[ ] Saya bisa menghitung semua benda dengan teliti.

[ ] Saya masih perlu bantuan guru/orang tua.

LIVEWORKSHEETS