โรงเรียนซับใหญ่วิทยาคม

ข้อสอบเพื่อคัดเลือกนักเรียนเข้าศึกษาต่อ ชั้นมัธยมศึกษาปีที่ 1 ปีการศึกษา 2569

สอบวันพฤหัสบดี ที่ 26 มีนาคม 2569

คำชี้แจง ข้อสอบมี 4 ตอน คะแนนเต็ม 100 คะแนน

ตอนที่ 1 รายวิชาภาษาไทย จำนวน 10 ข้อ	(25 คะแนน)
ตอนที่ 2 รายวิชาคณิตศาสตร์ จำนวน 10 ข้อ	(25 คะแนน)
ตอนที่ 3 รายวิชาวิทยาศาสตร์ จำนวน 10 ข้อ	(25 คะแนน)
ตอนที่ 4 รายวิชาภาษาอังกฤษ จำนวน 10 ข้อ	(25 คะแนน)

ตอนที่ 1 ข้อสอบรายวิชาภาษาไทย จำนวน 10 ข้อ (25 คะแนน)

<u>คำสั่ง</u>ให้นักเรียนทำเครื่องหมาย X ลงในกระดาษคำตอบจากข้อที่ถูกต้องเพียงข้อเดียว

1. ข้อใดใช้คำสุภาพผิด
   - ก. ผักตบ = ผักสามหาว
   - ข. หอยอีรม = หอยนางรม
   - ค. ถั่วงอก = ถั่วเพาะ
   - ง. ปลาสลิด = ปลาหาง
2. คำที่มาจากภาษาต่างประเทศข้อใด <u>ไม่ได้</u>มาจากภาษาเดียวกัน
   - ก. คาราเต้, ซากุระ, สุกี้ยากี้
   - ข. สำราญ, ปัญญา, ศึกษา
   - ค. บุฟเฟต์, ครัวซองต์, กงสุล
   - ง. กงสี, โต๊ะ, หวย
3. ข้อใดมีคำตายน้อยที่สุด
   - ก. เมื่อทำการสิ่งใดใจจดจ่อ
   - ข. คอยเติมต่อตั้งจิตไม่คิดขาม
   - ค. ทำด้วยใจเป็นชีวิตคอยติดตาม
   - ง. บังเกิดผลงอกงามตามต้องการ
4. ข้อใดมีสระประสม
   - ก. ลูกไม้หล่นไม่ไกลต้น
   - ข. ขี่ช้างจับตั๊กแตน
   - ค. ชี้โพรงให้กระรอก
   - ง. ฝนตกไม่ทั่วฟ้า

LIVEWORKSHEETS

5. ข้อใดมีคำที่มีความหมายต่างจากพวก

ก. ทิวากร, สุริยา, ตะวัน

ข. นาคราช, อสรพิษ, ภุชงค์

ค. มัสยา, สาคร, สินธุ

ง. บุหรง, สกุณา, วิหค

6. ข้อความใดเขียนถูกต้องทุกคำ

ก. โอกาศดีสำหรับนักเรียนมาถึงแล้ว

ข. เขาสังเกตุเห็นความผิดปกติบางอย่าง

ค. คุณพ่อชอบกินข้าวกะเพราหมูสับ

ง. ข้อความนี้มีปรากฏในศิลาจารึก

7. ข้อใดใช้เครื่องหมายวรรคตอนได้ถูกต้อง

ก. หมูเด้งย้ายไปเรียนต่อที่กรุงเทพ ฯ

ข. พระสุนทรโวหาร “ภู่” เป็นกวีเอกของไทย

ค. ลัดดาเป็นแค่เด็กตาดำ-ดำที่น่าสงสาร

ง. คุณป้ารัตนาสบายดีไหมครับ ! ผมถาม

8. ข้อใดใช้ตัวสะกดตรงตามมาตราทั้งหมด

ก. ธนาคารเวลาที่ประเทศสวิตเซอร์แลนด์

ข. โบราณสอนว่าปัญญานั้นเลอค่ากว่าทรัพย์

ค. ทีมแพทย์ผู้เชี่ยวชาญเร่งช่วยชีวิตวาฬที่เกยตื้น

ง. ของสะสมทั้งหลายเป็นของรักของผู้ครอบครอง

9. ข้อใดอ่านถูกต้อง

ก. เดียรัจฉาน อ่านว่า เด-รัด-ฉาน

ข. วชิรญาณ อ่านว่า วะ-ชิ-ระ-ยาน

ค. มหรสพ อ่านว่า มะ-หะ-ระ-สบ

ง. ปราศจาก อ่านว่า ปราด-จาก

10. ข้อใดใช้ภาษาระดับทางการ

ก. วันนี้หนูไม่ค่อยสบายจึงไม่สามารถมาเรียนได้อย่างเคย

ข. ดิฉันขออนุญาตลาหยุดเรียนเนื่องจากมีอาการป่วย

ค. ดิฉันรู้สึกปวดหัวมากและอ้วกด้วยจึงมาเรียนไม่ไหว

ง. วันนี้ดิฉันขออนุญาตไม่ไปโรงเรียนเพราะปวดหัวมากมาย

LIVEWORKSHEETS

ตอนที่ 2 รายวิชาคณิตศาสตร์ จำนวน 10 ข้อ (25 คะแนน)

<u>คำสั่ง</u>ให้นักเรียนทำเครื่องหมาย X ลงในกระดาษคำตอบจากข้อที่ถูกต้องเพียงข้อเดียว

11. 70, 74, 78, ☐, 86, ☐, 94 จำนวนที่หายไปคือข้อใด

ก. 80, 90

ข. 81, 88

ค. 82, 90

ง. 84, 92

12. ส่วนประกอบของรูปสามเหลี่ยมมุมฉากต่อไปนี้ ข้อใดกล่าวได้ถูกต้อง

ก. a คือ ความยาวของฐาน b คือ ความยาวของส่วนสูง

ข. a คือ ขนาดของมุมที่ฐาน b คือ ความยาวของส่วนสูง

ค. a คือ ความยาวของฐาน b คือ ขนาดของมุมยอด

ง. a คือ ขนาดของมุมที่ฐาน b คือ ขนาดของมุมยอด

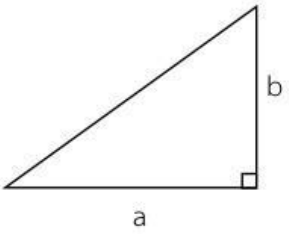

13. จากรูป มีความยาวรอบรูป 20 เซนติเมตร MA ยาวเท่าใด

ก. 6 เซนติเมตร

ข. 6.3 เซนติเมตร

ค. 7.3 เซนติเมตร

ง. 8.5 เซนติเมตร

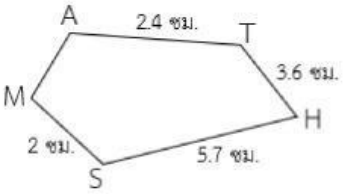

14. สถานีรถไฟแห่งหนึ่ง มีรถไฟธรรมดาออกจากสถานีทุก ๆ 30 นาที รถไฟด่วนออกทุก ๆ 45 นาที และรถไฟด่วนพิเศษออกทุก ๆ 1 ชั่วโมง ถ้ารถไฟทั้งสามประเภทออกพร้อมกันเวลา 7.00 น. ครั้งต่อไปรถไฟทั้งสามประเภทจะออกพร้อมกันเวลาใด

ก. 8.00 น.

ข. 10.00 น.

ค. 12.00 น.

ง. 14.00 น.

15. จากรูป รูปวงกลมมีพื้นที่กี่ตารางเมตร (กำหนด π = 3.14)

ก. 13.19 ตารางเมตร

ข. 14.85 ตารางเมตร

ค. 13.85 ตารางเมตร

ง. 13.88 ตารางเมตร

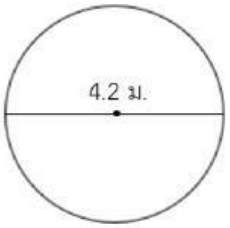

16. รูปคลี่ต่อไปนี้เป็นรูปคลี่ของรูปเรขาคณิตสามมิติชนิดใด

ก. ปริซึม

ข. พีระมิด

ค. ทรงกรวย

ง. ทรงกระบอก

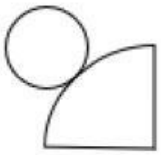

LIVEWORKSHEETS

ใช้ข้อมูลจากแผนภูมิต่อไปนี้ ตอบคำถามข้อ 17

ค่าใช้จ่ายประจำเดือนตุลาคม พ.ศ. 2563 ของนายภัคพงศ์

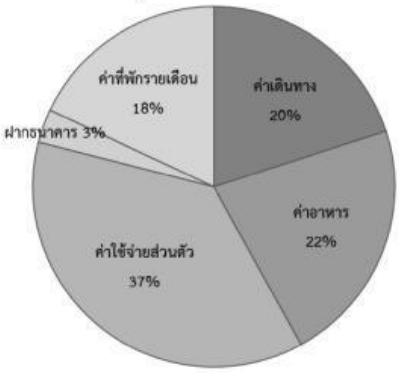

ถ้านายภัคพงศ์มีรายได้เดือนละ 15,000 บาท

17. นายภัคพงศ์ใช้จ่ายเป็นค่าอาหาร ค่าเดินทาง และค่าที่พักรายเดือนรวมเป็นเงินทั้งสิ้นเท่าไร

ก. 9,000 บาท

ข. 8,900 บาท

ค. 8,500 บาท

ง. 7,800 บาท

18. มีเงิน 675 บาท แบ่งใช้วันละเท่า ๆ กันได้ 15 วัน เงินหมดพอดี ถ้าต้องการใช้ให้ได้ถึง 20 วัน ต้องมีเงินกี่บาท

ก. 1,000 บาท

ข. 900 บาท

ค. 890 บาท

ง. 850 บาท

19. ชาวประมงจับสัตว์น้ำได้ 64,000 กิโลกรัม เป็นปลา 54% ของน้ำหนักสัตว์น้ำทั้งหมด เป็นปลาทู 25% ของน้ำหนักปลา ชาวประมงจับปลาทูได้กี่กิโลกรัม

ก. 8,640 กิโลกรัม

ข. 6,000 กิโลกรัม

ค. 4,560 กิโลกรัม

ง. 5,560 กิโลกรัม

20. จากรูปส่วนของเส้นตรงคู่ใดขนานกัน

ก. $\overline{\text{จฉ}}$ // $\overline{\text{ฉช}}$

ข. $\overline{\text{กข}}$ // $\overline{\text{คง}}$

ค. $\overline{\text{กข}}$ // $\overline{\text{จฉ}}$

ง. $\overline{\text{ฉช}}$ // $\overline{\text{คง}}$

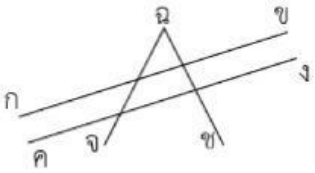

LIVEWORKSHEETS

ตอนที่ 3 ข้อสอบรายวิชาวิทยาศาสตร์และเทคโนโลยี จำนวน 20 ข้อ (20 คะแนน)
คำสั่งให้นักเรียนทำเครื่องหมาย X ลงในกระดาษคำตอบจากข้อที่ถูกต้องเพียงข้อเดียว

21. กระบวนการใดที่ทำให้พืชสามารถสร้างอาหารเองได้จากแก๊สคาร์บอนไดออกไซด์และน้ำ
    ก. การหายใจ
    ข. การคายน้ำ
    ค. การลำเลียงในไซเล็ม
    ง. การสังเคราะห์ด้วยแสง
22. ส่วนประกอบใดของเซลล์พืชที่ทำหน้าที่ให้ความแข็งแรงและช่วยคงรูปทรงของเซลล์ไว้
    ก. เยื่อหุ้มเซลล์
    ข. ผนังเซลล์
    ค. นิวเคลียส
    ง. คลอโรพลาสต์
23. หน่วยที่เล็กที่สุดของสารที่ยังคงแสดงสมบัติของสารนั้นได้คืออะไร
    ก. อะตอม
    ข. โมเลกุล
    ค. โปรตอน
    ง. อิเล็กตรอน
24. ข้อใดเป็นการเปลี่ยนแปลงทางเคมี
    ก. การละลายของน้ำแข็ง
    ข. การเกิดสนิมเหล็ก
    ค. การละลายเกลือในน้ำ
    ง. การฉีกกระดาษ
25. การถ่ายโอนความร้อนวิธีใดที่ไม่ต้องอาศัยตัวกลางในการเคลื่อนที่
    ก. การนำความร้อน
    ข. การพาความร้อน
    ค. การแผ่รังสีความร้อน
    ง. การกลั่นตัว
26. สารอาหารประเภทใดเริ่มถูกย่อยทางเคมีเป็นครั้งแรกที่บริเวณปาก
    ก. โปรตีน
    ข. ไขมัน
    ค. คาร์โบไฮเดรต
    ง. วิตามิน
27. ข้อใดคือความสัมพันธ์ของสิ่งมีชีวิตแบบ "ภาวะพึ่งพากัน" (Mutualism)
    ก. เห็บกับสุนัข
    ข. กล้วยไม้บนต้นไม้ใหญ่
    ค. ไลเคน (รากับสาหร่าย)
    ง. เสือล่ากวาง

LIVEWORKSHEETS

28. ปรากฏการณ์ "น้ำขึ้น-น้ำลง" เกิดจากอิทธิพลของแรงดึงดูดจากเทหวัตถุใดมากที่สุด

ก. ดวงอาทิตย์

ข. ดวงจันทร์

ค. ดาวพฤหัสบดี

ง. ดาวศุกร์

29. แก๊สชนิดใดมีส่วนทำให้เกิดปรากฏการณ์เรือนกระจก (Greenhouse Effect) มากที่สุดจากการทำกิจกรรมของมนุษย์

ก. ไนโตรเจน

ข. ออกซิเจน

ค. คาร์บอนไดออกไซด์

ง. ฮีเลียม

30. ฟิวส์ (Fuse) ในวงจรไฟฟ้าบ้านทำหน้าที่สำคัญอย่างไร

ก. เพิ่มแรงดันไฟฟ้าให้คงที่

ข. เปลี่ยนกระแสสลับเป็นกระแสตรง

ค. ตัดวงจรเมื่อมีกระแสไฟฟ้าไหลเกิน

ง. ลดความต้านทานในวงจร

ตอนที่ 4 ข้อสอบรายวิชาภาษาอังกฤษ จำนวน 10 ข้อ (25 คะแนน)

Choose the best answer.

31. A: Good morning, Miss Ann. _____? (ต1.2)

B: I'm very well, thank you.

a. How do you do

b. What do you do

c. How are you

d. Nice to meet you

32. A: Waiter : _____?

B: Customer : Yes, please! (ต1.2)

a. Can you help me

b. Would you help me

c. May I come in

d. Can I help you

33. A: How many people are there in your family? (ต1.2)

B: _____.

a. There are female

b. There are 3

c. There are people

d. There are nice and great

LIVEWORKSHEETS

34. A: _____?

B: I was born on 25th December 1969. (ต1.2)

a. When is your birthday

b. What is your birthday

c. Where is your birthday

d. Whose birthday is it

35. A: Does Jack make a snowman?

B: _____. (ต1.2)

a. Yes, he do

b. Yes, he does

c. No, he don't

d. No, he isn't

Study the picture and answer the questions. (Items 6-7) (ต1.1)



36. How much is the tallest person taller than the shortest one?

a. 20 cms. b. 15 cms.

c. 10 cms. d. 5 cms.

37. Which one is correct?

a. Joe is taller than Fah but shorter than Kwang.

b. Joe is taller than Kwang but shorter than Golf.

c. Golf is shorter than Joe but taller than Kwang.

d. Golf is taller than Joe but shorter than Fah.

LIVEWORKSHEETS

In the classroom, Joe is crying. His sister has an accident. (ต1.1)



38. What should Sam say to him?

a. It's good.

b. It's good for you.

c. I'm sorry to hear that.

d. I'm glad to know that.

39. On Christmas Day, _____ is on the sleigh with reindeer. He travels to give gifts to children. (ต1.1)

a. Santa Claus

b. b. Santana

c. St. Valentine

d. Jesus Christ

40. Arrange these words to form a correct question. (ต1.1)

my/ dress / pink / is / Where/ ?

a. Where is my pink dress?

b. Where is my dress pink?

c. my Where dress pink is?

d. my dress pink is Where?

LIVEWORKSHEETS