ชื่อ - สกุล _____ เลขที่ ____ ชั้น ม. _____

คะแนน

12

คำชี้แจง : ให้นักเรียนลากองค์ประกอบของแผนที่ใส่ในช่องว่างให้ถูกต้อง

ลำดับชุด	ชุดแผนที่	สารบัญระวางติดต่อ	ระดับความสูง
หมายเลขแผ่นระวาง	ชื่อแผ่นระวาง	สารบัญปกครอง	พิกัดทางภูมิศาสตร์
เส้นชั้นความสูง	ครั้งที่พิมพ์	มาตราส่วนแบบเส้น	คำอธิบายสัญลักษณ์

แผนที่ภูมิประเทศ L7018

จังหวัดสงขลา CHANGWAT SONGKHLA

ประเทศไทย THAILAND 1:50,000 WGS 84

ตั้งตามชื่อที่เด่นชัด ทางภูมิศาสตร์หรือชื่อจังหวัด,อำเภอ ที่เป็นจุดศูนย์กลางของแผ่นระวางนี้

EDITION 1-RTSD SERIES L7018S SHEET 5123 III

1. _____ และมาตราส่วน เช่น ฉบับนี้คือ ไทย 1:50,000 THAILAND แระบอก สาตราส่วนแผนที่ทุกนี้ คือ 1:50,000

5. _____ ครั้งที่จัดพิมพ์ฉบับนี้ เช่น 1-RTSD คือ พิมพ์ ครั้งที่ 1 โอยกรมแผนที่ทหาร

4. _____ รหัสบอก ช่วงพิกัดและมาตราส่วน

5. _____ เป็นเลขอ้างอิงแผ่นระวาง เพื่อการต้นหา เช่น 5123 III

12. _____ เส้นแสดงความสูงที่ เท่ากันของพื้นที่ เช่น บริเวณเหมืองหิน (Quarry)

11. _____ ค่าพิกัดจุดเริ่มต้นระวางที่ 7°00'N 100°3'E 700''N 100°30'E

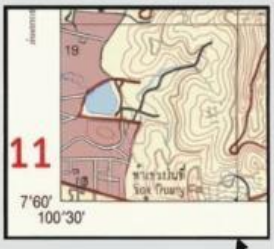

6. _____ แปลความหมาย สัญลักษณ์ต่างๆ ในแผนที่

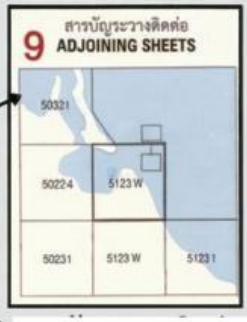

9. _____ (Adjoining Sheets): บอกเลขแผ่นระวาง

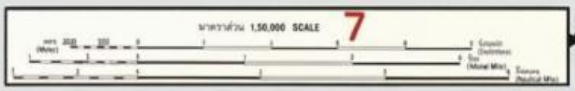

7. _____ อ้างอิงระยะทางจริง

8. _____ บอกเขตอำเภอ เช่น อำเภอเมือง, อำเภอหาดใหญ่

10. _____ (Elevation Guide): แสดงภาพรวมความสูง-ต่ำ

LIVEWORKSHEETS