CHÀO MỪNG
CÁC BẠN HỌC SINH LỚP 3
LIVEWORKSHEETS

Vui học cùng Cony

Kì 7

HỌ VÀ TÊN: ... ...

LỚP: ... ...

LIVEWORKSHEETS

THỬ THÁCH 1

Em hãy giúp Cony tính chu vi hình chữ nhật có chiều dài 9cm và chiều rộng 3cm nhé!



.....

LIVEWORKSHEETS

THỬ THÁCH 2

Em hãy quan sát hình bên cạnh và giúp Cony điền vào chỗ chấm nhé!

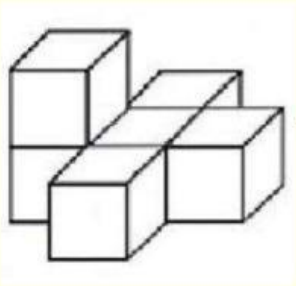

- Có ... khối lập phương.

LIVEWORKSHEETS

THỬ THÁCH 3

Em hãy giúp Cony thực hiện yêu cầu sau:

Số 26 được viết bằng La Mã là

LIVEWORKSHEETS

THỬ THÁCH 4

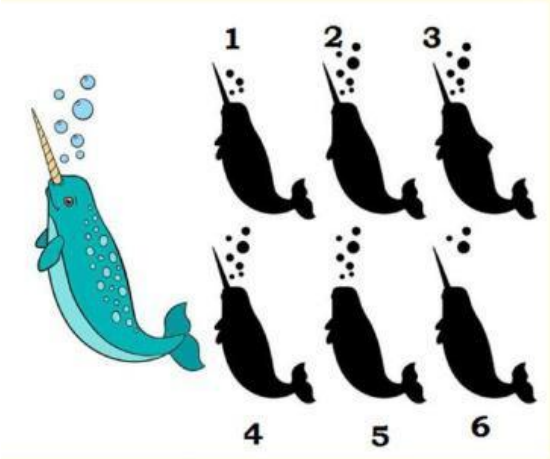

Các bạn giúp Cony tìm bóng của chú cá heo xanh là hình số mấy?

LIVEWORKSHEETS

Cony chúc mừng các bạn
đã hoàn thành tốt
thử thách nhé!
LIVEWORKSHEETS