1 Chọn câu trả lời đúng.

Hình nào dưới đây là hình khai triển của một hình hộp chữ nhật?

A.

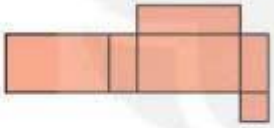

B.

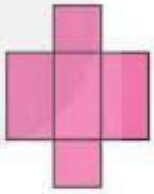

C.

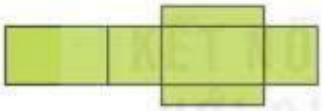

D.

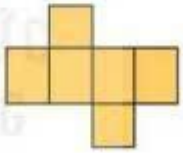

2 Tính thể tích của mỗi hình dưới đây.

a) Hình hộp chữ nhật

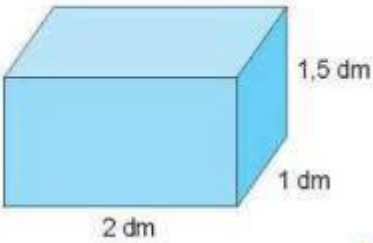

b) Hình lập phương

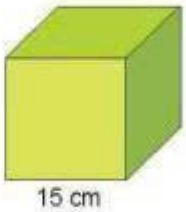

LIVEWORKSHEETS