SKAIČIAI IKI 1 000 000

1. Parašyk, kokie skaičiai užrašyti jų skyrių suma. 3 t.

500000 + 40000 + 8000 + 600 + 40 + 4 =

600000 + 7000 + 100 + 10 =

900000 + 20000 + 300 + 6 =

2. Surašyk kortelėse pateiktus skaičius didėjimo tvarka. 1 t.

287 369	982 994	444 778
444 718	1 000 000	288 369

3. Kiekvienoje kortelėje apibrauk mažesnį skaičių. 3 t.

258 117 208 117	500 288 500 298	100 001 1 000 000

4. Atlik sudėties veiksmus. 3 t.

$$\begin{array}{r} 201891 \\ +\ 359420 \\ \hline \end{array} \qquad \begin{array}{r} 599001 \\ +\ 111999 \\ \hline \end{array} \qquad \begin{array}{r} 176850 \\ +\ 639750 \\ \hline \end{array}$$

LIVEWORKSHEETS

5. **Atlik atimties veiksmus.** **3 t.**

$$-\begin{array}{r}904126\\476807\end{array} \qquad -\begin{array}{r}711222\\546789\end{array} \qquad -\begin{array}{r}850034\\783287\end{array}$$

6. **Kiekvieną skaičių padidink 13 kartų.** **3 t.**

45 012 62 613 71 132

7. **Apskaičiuok, kiek kartų vienas skaičius mažesnis už kitą.** **3 t.**

842 156 | 7 794 312 | 8 506 080 | 5

8. **Pirmąją išankstinio rinkimų balsavimo dieną balsavo 17 450 rinkėjų, antrąją – 19 270 rinkėjų. Kiek daugiau rinkėjų balsavo antrąją dieną negu pirmąją?** **2 t.**

LIVEWORKSHEETS

9. **Apskaičiuok skaitinių reiškinių reikšmes.** **4 t.**

$1000000 - 162341 \cdot 4 =$

$82147 \cdot 12 : 6 =$

10. **Užrašyk figūrų vietą plokštumoje.** **2 t.**

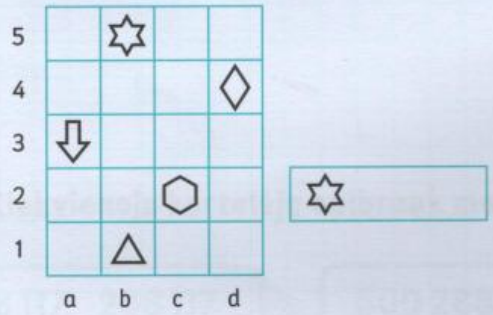

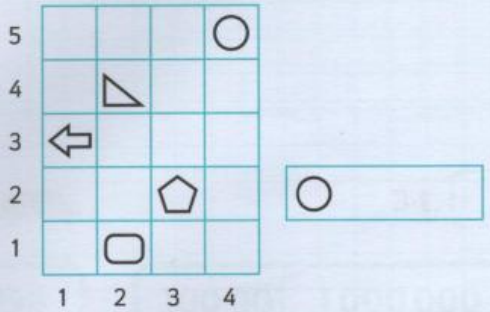

11. **Taškas B_1 yra gautas tašką $B(3; 4)$ du kartus pasukus stačiuoju kampu pagal laikrodžio rodyklę apie tašką A. Plokštumoje pažymėk taškus B ir B_1. Užrašyk taško B_1 padėtį plokštumoje.** **3 t.**

$B_1(...; ...)$

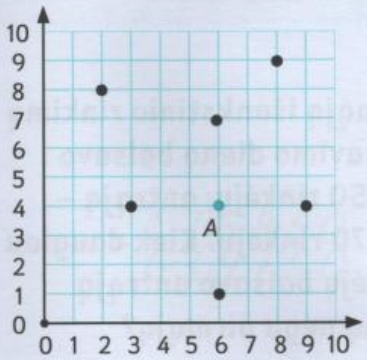

LIVEWORKSHEETS