Cuadernillo de Actividades – Semana 2, Día 1

Curso: Desafíos Matemáticos: Superpoder para un Supermañana

Tema: Juegos de estrategia y pensamiento logico

1. Por el revelado y la impresión de cada rollo de 24 fotografías cobran $53.00. si este mes hace un descuento del 25%, ¿cuánto pagará Gonzalo por 2 rollos que mandó revelar hoy?

A) $24.30 B) $28.00 C) $39.75 D) $79.50

2.En una tienda se reciben 7 cajas de refrescos 3 veces a la semana. Si cada caja contiene 24 refrescos, ¿cuántos refrescos se reciben en un mes?

A) 504 B) 168 C) 2,016 D) 84 E) 2,060

3. Una bicicleta avanza 144 mts en un minuto, a velocidad constante. ¿Qué distancia recorrerá en 5 horas y media?

A) 47, 520 mts B) 45, 720 mts C) 43,200 mts D) 475,200 mts

4. Para confeccionar un vestido se necesitan 3 ½ m de tela, ¿cuántos vestidos se pueden confeccionar con 14 ½ m de tela?

Respuesta:_____

5. Rellena cada escalón con un número siguiendo un patrón lógico (puede ser suma, multiplicación, resta, etc.). Observa los primeros números y deduce la regla que sigue la escalera. Escribe el número que falta en cada peldaño.

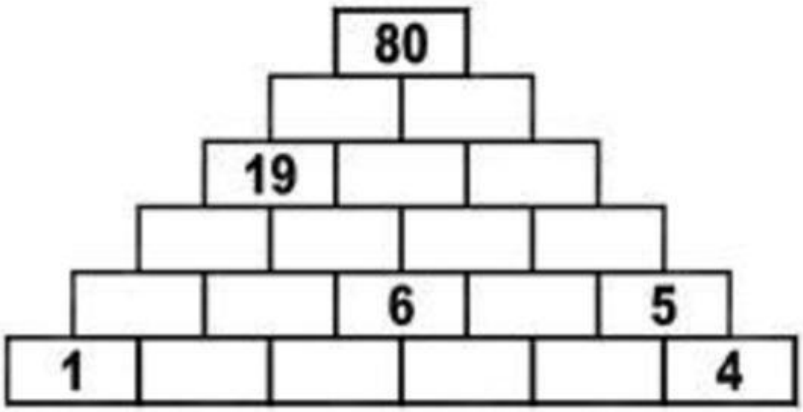

LIVEWORKSHEETS

4. Cuantos cuadros ves

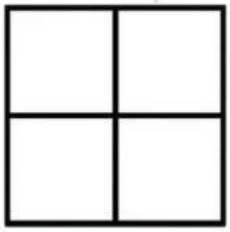

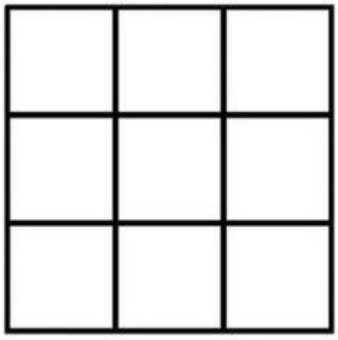

LIVEWORKSHEETS