ورقة عمل عناصر المثلثات المتشابهة

الاسم :

الصف:

اختاري الإجابة الصحيحة :

أوجد قيمة x في الشكل المجاور.

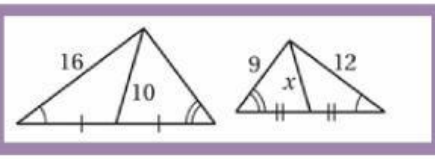

A 5 B 6 C 6.5 D 7.5

أوجد قيمة x في الشكل المجاور.

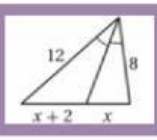

A 4 B 5 C 6 D 8

أيُّ الحقائق الآتية ليست كافيةً لإثبات أن المثلثين ACF و HCG متشابهان؟

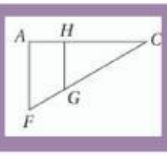

A $\overline{AF} \parallel \overline{HG}$ B $\frac{AC}{HC} = \frac{FC}{GC}$ C $\frac{CG}{CF} = \frac{1}{2}$ D $\angle FAH$ و $\angle CHG$ قائمتان

LIVEWORKSHEETS