Unidad Educativa Bilingüe INTERNATIONAL SCHOOL
Ciclo. La Salba Mz. Q. entre la calle Sexta y la G

ETCL

EXAMEN TERCER TRIMESTRE
ÁREA: MATEMÁTICA
QUINTO BÁSICO

1. **Observa el gráfico escribe la fracción y su escritura.**



Se lee:

2. **Lee y escribe el número decimal.**

Un entero, cuatro centésimos	
Tres milésimos	
Dos enteros, setenta milésimos	
Veinticinco milésimos	

3. **Resuelve la siguiente división.**

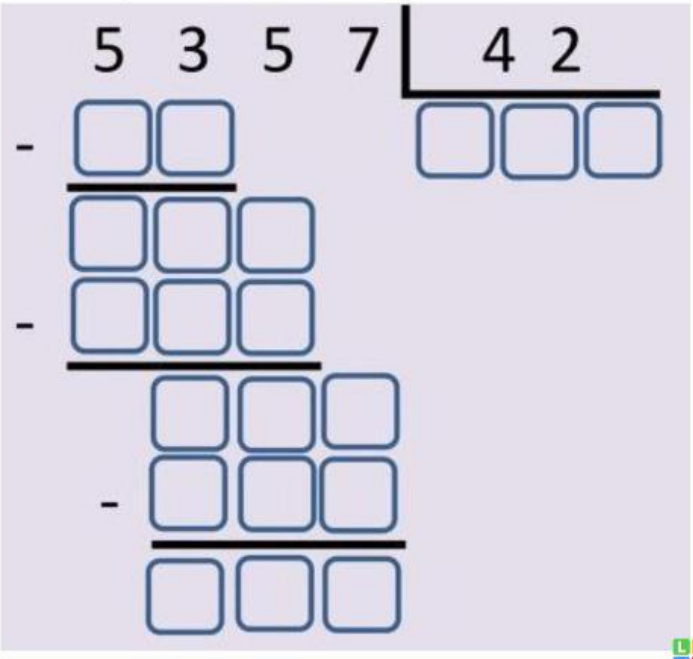

LIVEWORKSHEETS

4. **Lee y escribe la cantidad.**

Setenta mil setecientos: .....

Noventa mil noventa y mueve: .....

Ciento cinco mil trescientos tres: .....

Novecientos mil ochocientos: .....

5. **Resuelve la siguiente resta de fracciones.**

$$\frac{23}{7} - \frac{14}{7} = \frac{\square}{\square}$$

6. **Resuelve la siguiente multiplicación con números decimales.**

		5	8	4	6	0
			×		3	8

7. **Observa la imagen y escribe la medida del ángulo**

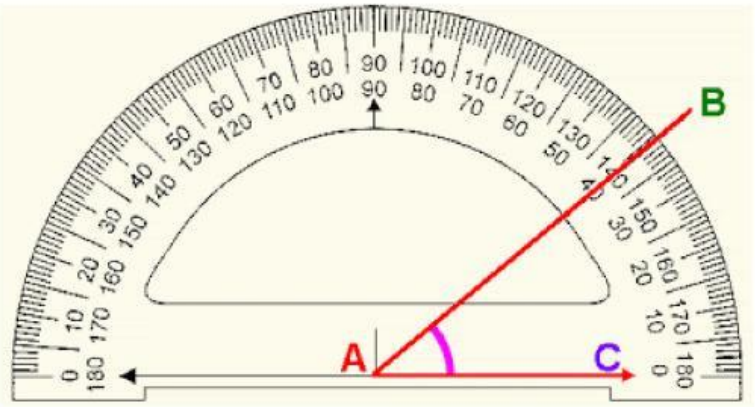

o

LIVEWORKSHEETS

8. **Compara y arrastra el signo donde corresponda.**



9. **Observa el plano cartesiano y completa las coordenadas.**

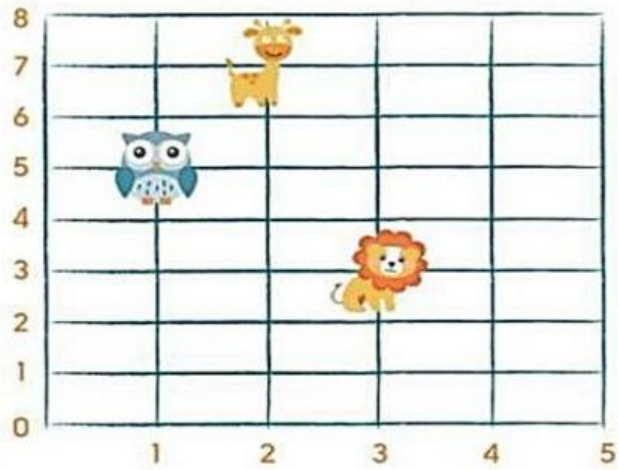

animales	abcisa	ordenada
	(,)	
	(,)	
	(,)	

10. **Observa las medidas de los triángulos, escribe a qué clase de triángulo pertenece.**

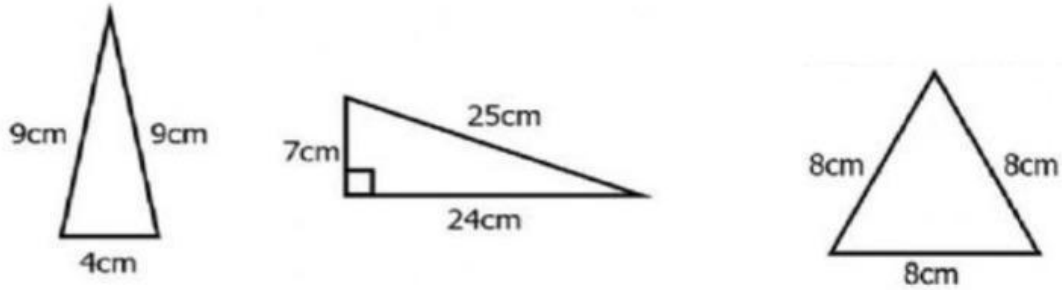

LIVEWORKSHEETS