ACTIVIDAD DE APRENDIZAJE 1

Tema: suma de números enteros

Grado: séptimo

1. Completa las siguientes pirámides, ten en cuenta que el número de la fila superior se obtiene de la suma de los dos números que se encuentran justo en parte inferior.



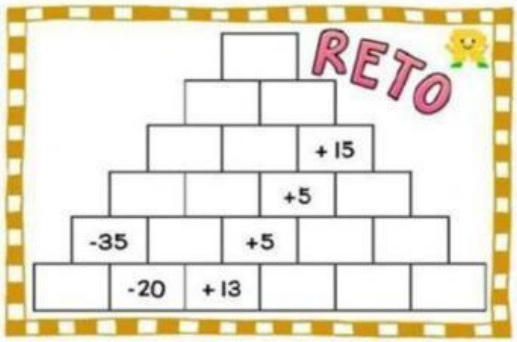

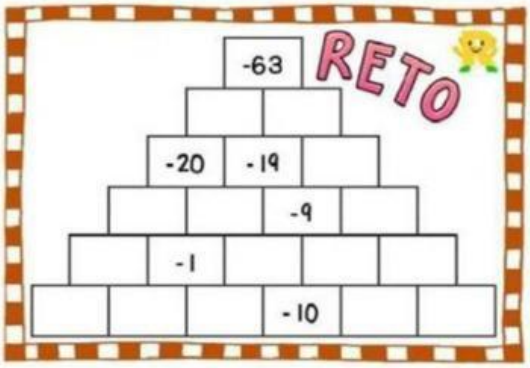

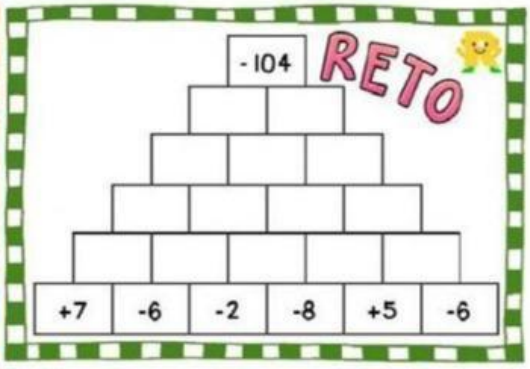

2. Completa el siguiente crucigrama

LIVEWORKSHEETS

3. Resuelve las siguientes adiciones

a) -9 + 12

b) -15 + 11

d) -8 + -9

e) -5 + 6

f) 12 + 16

g) -15 + -15

h) - 4 + 7 + -5

i) 8 + -6 + 3

j) -10 + -5 + 6

k) -2 + 9 + 4 + -12

l) 8 + -13 + 9 + -2

m) -4 + 12 + 15 + 20 + -30

n) 15 + -13 + -17 + 7 + -4

LIVEWORKSHEETS