PROBLEMAK

Peru eta Mirenek hiru sagarrondo ditu. Sagarrondo batean 68 sagar jaso ditu, beste sagarrondoan 88 eta azkenengoan 46 sagar. Zenbat sagar jaso dituzte Peru eta Mirenek guztira?

ESKEMA

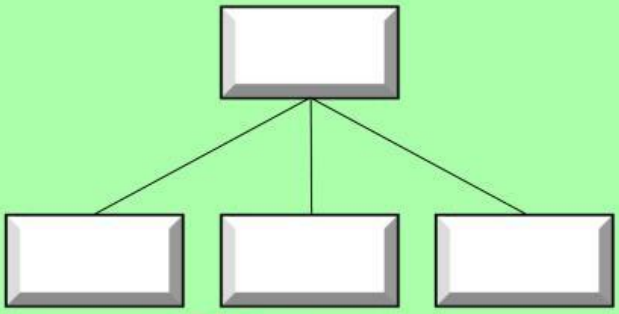

KALKULUA (egin beharreko kalkulua koadernoan egin)



ERANTZUNA

sagar jaso dituzte.

Peru eta Mirenek, 55 sagarreko 6 kaxa osatu ditu. Zenbat sagar behar izan dituzte 6 kaxak osatzeko ?

ESKEMA

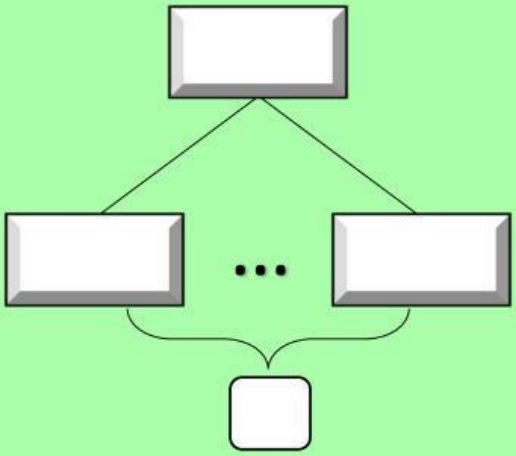

KALKULUA (egin beharreko kalkulua koadernoan egin)

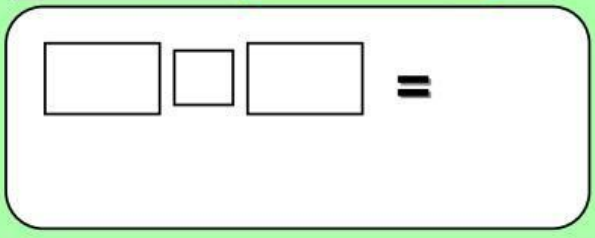

ERANTZUNA

sagar behar izan dituzte.

LIVEWORKSHEETS