1. **Αναλύω σε Δεκάδες (Δ) και Μονάδες (Μ).**

27 = ____ Δ και ____ Μ

5 = ____ Δ και ____ Μ

2. **Λύνω την πρόσθεση οριζόντια και στη συνέχεια κάθετα.**

οριζόντια

ΔΜ Μ ΔΜ

27 + 5 = ____

κάθετα

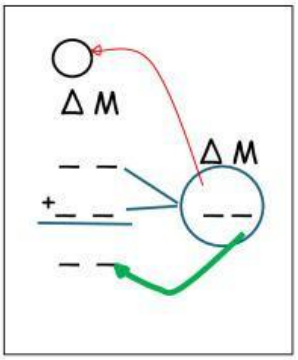

3. **Λύνω την πρόσθεση κάθετα και τη λύνω.**

Δ Μ Δ Μ

3 6 + 1 5 = _____

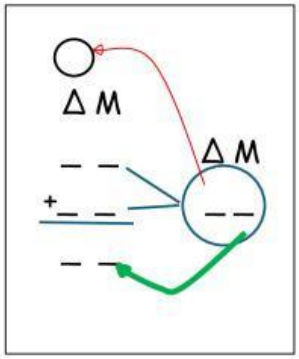

4. **Σε μια βιβλιοθήκη υπάρχουν 48 βιβλία στο ένα ράφι και 7 βιβλία στο άλλο. Πόσα βιβλία υπάρχουν συνολικά;**

Λύση

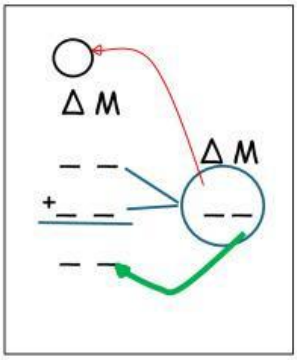

Απάντηση: _____

LIVEWORKSHEETS