Nama :
Kelas :
Hari/Tanggal :

Soal Matematika

I. Berilah tanda silang (x) huruf a, b, atau c pada jawaban yang paling benar!

1. Berikut ini yang merupakan satuan tidak baku adalah....

a.

b.

c.

2. Gambar di bawah ini adalah contoh pengukuran menggunakan.....

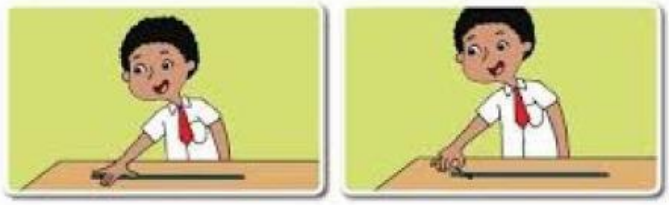

a. Langkah
b. Jengkal
c. Depa

3. Pengukuran dengan menggunakan jarak antara kedua tangan yang direntangkan disebut.....

a. Langkah b. Jengkal c. Depa

4. 

Panjang papan tulis adalah ..... depa

a. 1 depa
b. 2 depa
c. 3 depa

LIVEWORKSHEETS

5. Berikut merupakan hasil pengukuran benda menggunakan jengkal. Coba urutkan panjang ketiga benda tersebut mulai dari yang terpanjang ke yang terpendek!



a. jendela, papan tulis, meja
b. meja, papan tulis, jendela
c.meja, jendela, papan tulis

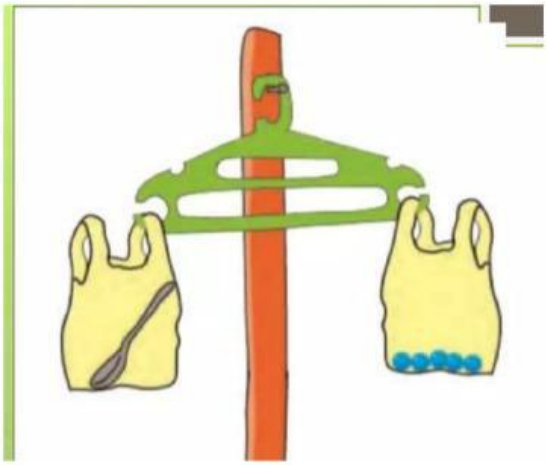

6. Berat sendok dalam kantong plastik adalah..... kelereng
   a. 5 kelereng
   b. 4 kelereng
   c. 3 kelereng

Untuk nomor 8, 9 dan 10 perhatikan tabel berikut!

Nama Benda	Hasil timbangan
boneka	10 butir kelereng
sebuah sandal	9 butir kelereng
buku cerita	7 butir kelereng

8. Berapakah berat sandal?
   a. 10 kelereng b. 9 kelereng c. 7 kelereng

LIVEWORKSHEETS

Nama Benda	Hasil timbangan
boneka	10 butir kelereng
sebuah sandal	9 butir kelereng
buku cerita	7 butir kelereng

9. Manakah benda yang paling ringan?
   a. buku cerita
   b. sandal
   c. boneka
10. Urutkan ketiga benda tersebut dari yang paling ringan ke yang paling berat!
    a. buku cerita, boneka, sandal
    b. boneka, sandal, buku cerita
    c. buku cerita, sandal, boneka
11. Mencuci tangan membutuhkan waktu yang.....
    a. lama b. sebentar c. sangat lama
12. mama menyetrika baju yang menumpuk.
    maka waktu yang dibutuhkan adalah.....
    a. lama b. sebentar c. singkat

Perhatikan gambar-gambar berikut untuk nomor 13 dan 14!

13. kegiatan yang memerlukan waktu sebentar adalah....
    a. memakai sepatu
    b. tidur
    c. belajar
14. Kegiatan yang memerlukan waktu lama adalah...
    a. menggosok gigi
    b. memakai kaos kaki
    c. tidur
15. Paman mencuci motor selama 10 menit, setelah itu ia mencuci sepatu selama 8 menit kemudian paman makan siang selama 15 menit. Kegiatan paman yang manakah yang memerlukan waktu paling singkat?
    a. mencuci motor b. makan siang c. mencuci sepatu

LIVEWORKSHEETS

Pertama, Beni menimbang dengan penggaris.
Beni menimbang alat tulis dengan kelereng.
Inilah hasil timbangannya.

No.	Nama Benda	Hasil timbangan
1.	buku tulis	5 butir kelereng
2.	tempat pensil	8 butir kelereng
3.	buku gambar	7 butir kelereng

Kemudian, jawablah pertanyaan berikut.

1. Benda manakah yang paling berat?

   _____

2. Benda manakah yang paling ringan?

   _____

3. Urutkan benda pada tabel di atas.
   a. Urutkan benda dari yang paling ringan.

   _____, _____, _____

   b. Urutkan benda dari yang paling berat.

   _____, _____, _____

No.	Nama Benda	Hasil timbangan
1.	sendok aluminium	2 buku tulis
2.	gelas plastik	1 buku tulis
3.	piring plastik	4 buku tulis

Kemudian, jawablah pertanyaan berikut.

1. Benda manakah yang paling berat?

   _____

2. Benda manakah yang paling ringan?

   _____

3. Urutkan benda pada tabel di atas.
   a. Urutkan benda dari yang paling ringan.

   _____, _____, _____

   b. Urutkan benda dari yang paling berat.

   _____, _____, _____

Sebutkan 3 kegiatan yang memerlukan waktu sebentar dan 3 kegiatan yang memerlukan waktu lama!

1.

2.

3.

1.

2.

3.

LIVEWORKSHEETS

1. Berapa panjang ikat pinggangmu?

panjang ikat pinggangmu = ... pensil

panjang ikat pinggangmu = ... jengkal

2. Berapa panjang penggaris kayu Bu Guru?


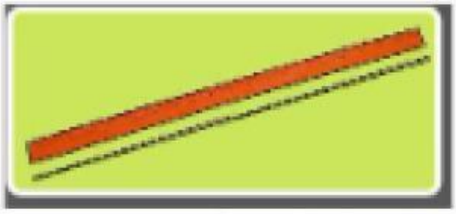

panjang penggaris kayu = ... jengkal

panjang penggaris kayu = ... batang lidi

3. Berapa panjang tongkat pramuka?

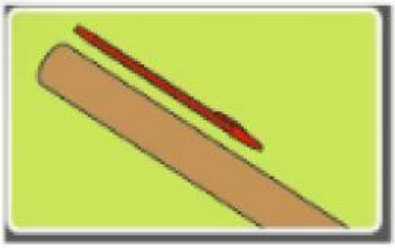

panjang tongkat pramuka = ... pulpen

panjang tongkat pramuka = ... jengkalmu

4. Berapa panjang lengan kirimu?

panjang lengan kirimu = ... jengkalmu

panjang lengan kirimu = ... pulpen

5. Berapa panjang tali sepatu?

panjang tali sepatu = ... jengkalmu

panjang tali sepatu = ... batang korek api

LIVEWORKSHEETS