SMAIT aluswah
Islamic Boarding School

LKPD

Lembar Kerja Peserta Didik

Biologi X

Disusun oleh:
Marjuki, S.Pd

LIVEWORKSHEETS

BaKTeRi

Tugas:
Selesaikan setiap pertanyaan dengan menggunakan diagram yang telah disediakan

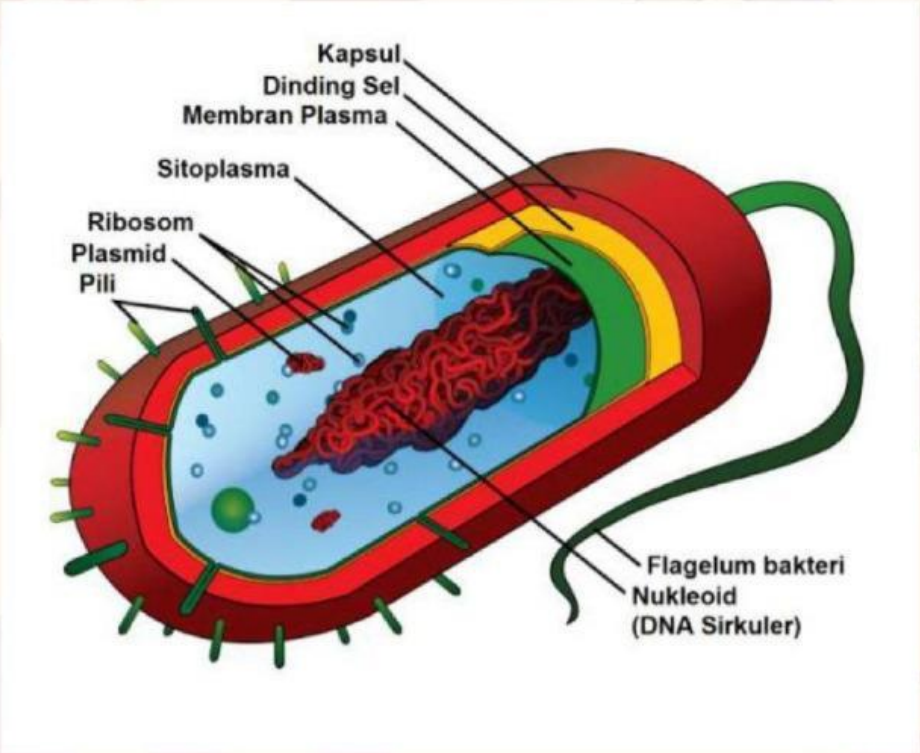

Di manakah ribosom bakteri untuk sintesis protein berada?

LIVEWORKSHEETS

LIVEWORKSHEETS

BaKTeRi

Yuk simak video 1 berikut!

[redacted]

Kemudian, simak lanjutannya dalam video 2 berikut!

[redacted]

LIVEWORKSHEETS

LIVEWORKSHEETS

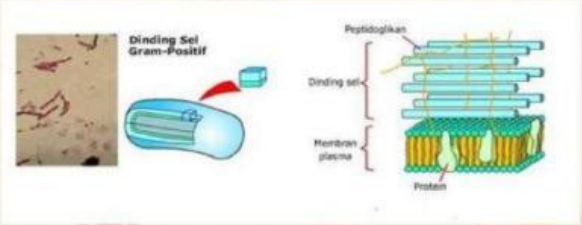

Dinding sel bakteri gram positif diatas, tersusun oleh bahan?

Semua organisme yang termasuk dalam kingdom monera memiliki ciri?

- [ ] Heterotrof
- [ ] Prokariot
- [ ] Eukariot

Bakteri yang hidup dengan cara memanfaatkan sisa-sisa produk buangan organisme disebut?

- [ ] Saprofit
- [ ] Parasit
- [ ] Aerob

Pertanyaan Tantangan

Temukan jalan yang tepat!

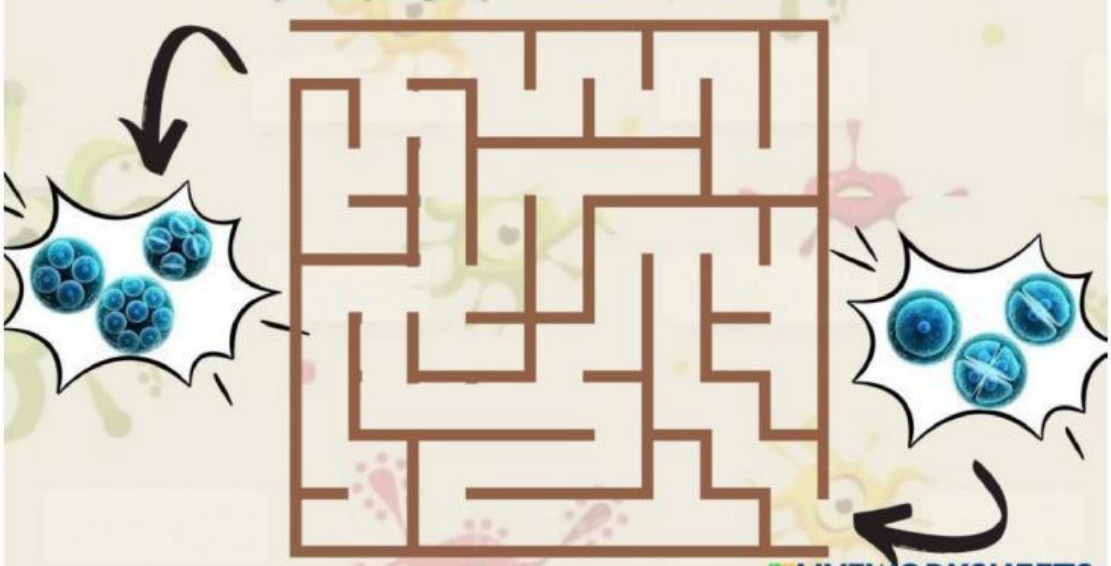

LIVEWORKSHEETS

LIVEWORKSHEETS

Bagaimana cara pencegahan penyakit yang disebabkan oleh bakteri?

Berbicara disini:

Klik ikon untuk mendengarkan,lalu jawab pertanyaannya

Pertanyaan Tantangan

Temukan tiga kata yang berhubungan dengan bakteri!

Q	P	U	C	Z	A	S	L
U	Z	A	M	A	M	A	I
I	T	M	T	K	O	B	S
M	I	K	R	O	B	A	A
A	L	I	M	L	G	A	M
S	A	M	B	O	L	E	L
I	U	M	Z	N	A	W	N
R	U	N	I	I	U	X	Y

LIVEWORKSHEETS

LIVEWORKSHEETS

Drag jawaban ke tempat yang benar!

Berkembang Biak secara ASEKSUAL

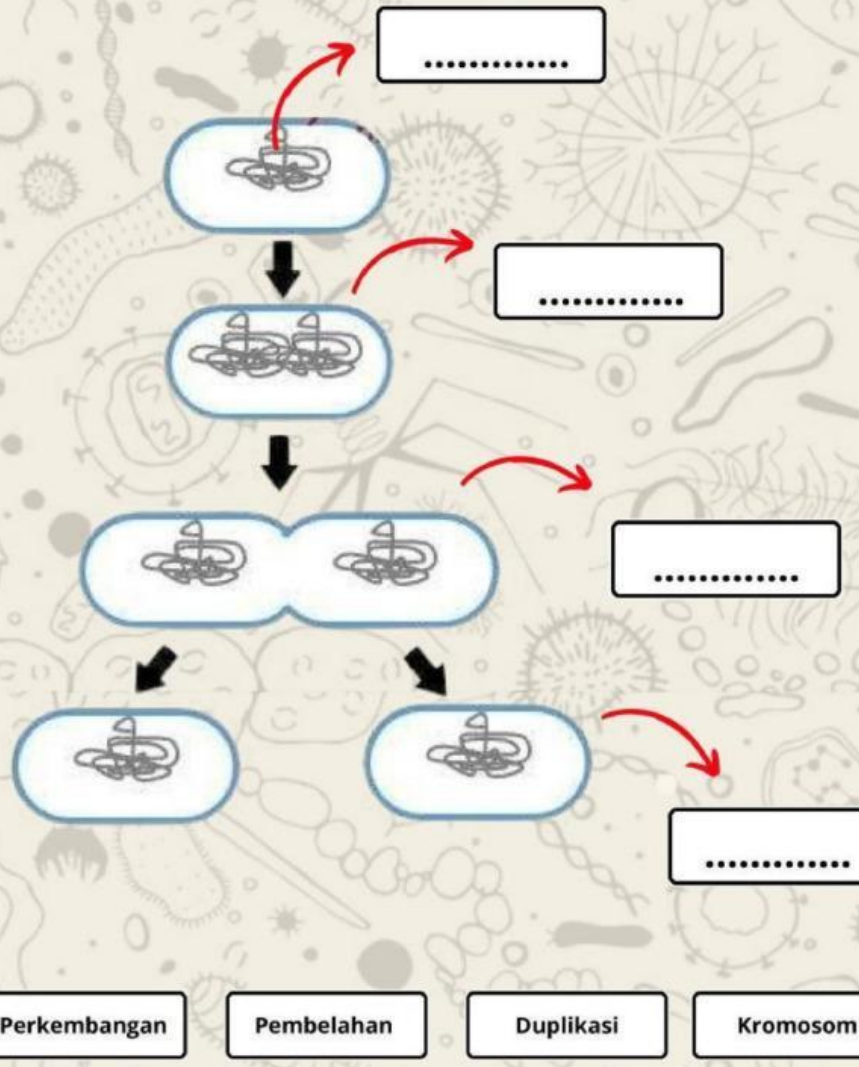

Perkembangan | Pembelahan | Duplikasi | Kromosom

LIVEWORKSHEETS

LIVEWORKSHEETS

BENTUK BAKTERI
(Morfologi Seluler)

Cocokkan kata-kata di sebelah kiri dengan gambar di sebelah kanan

Staphylococci

Bacillus

Diplococci

Coccus

Streptococci

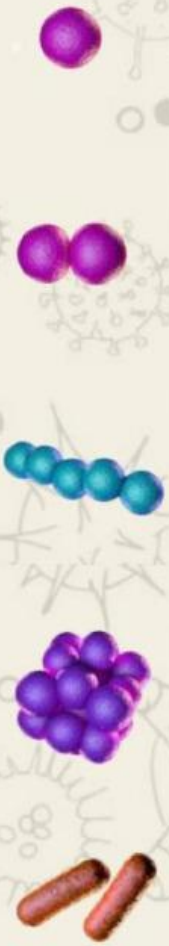

LIVEWORKSHEETS

LIVEWORKSHEETS

LIVEWORKSHEETS