LEMBAR KERJA PESERTA DIDIK

Mengidentifikasi dan Mengamati Perkembangbiakan Vegetatif pada Beberapa Tumbuhan

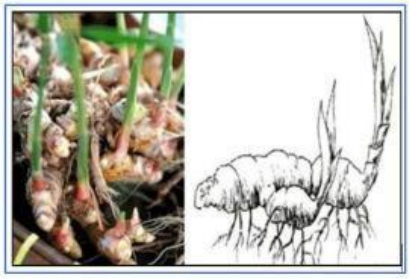

Gambar 1. _____

Gambar 2. _____

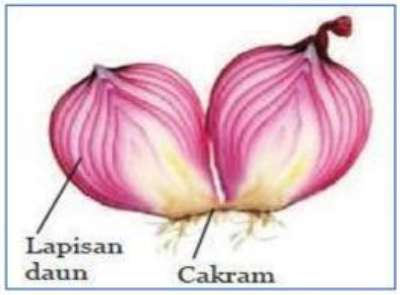

Gambar 3. _____

Gambar 4. _____

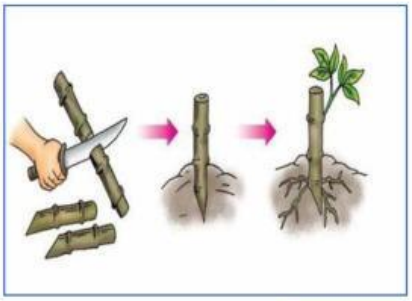

_____

LIVEWORKSHEETS

Gambar 5.

Gambar 6.

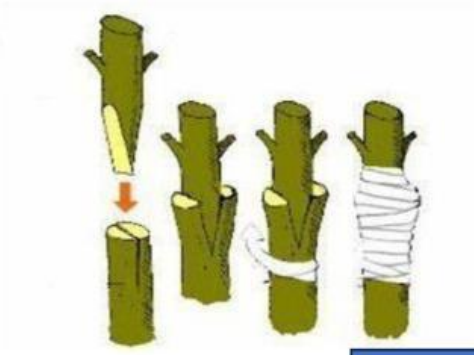

Gambar 7

gambar 8

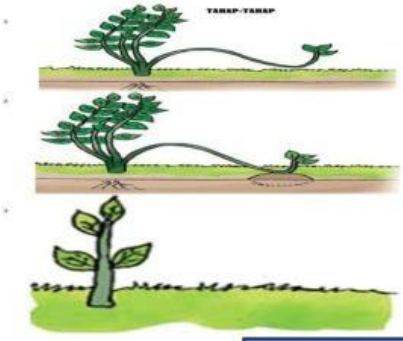

Gambar 9

gambar 10

Gambar 11

LIVEWORKSHEETS

LIVEWORKSHEETS

LKPD 2

Soal Menjodohkan: Sistem Reproduksi Vegetatif Tumbuhan

Petunjuk: Jodohkan istilah pada kolom A dengan contoh tumbuhan yang berkembang biak dengan cara tersebut pada kolom B.

KOLOM A	KOLOM B
STOLON	
STEK	
MERUNDUK	
RHIZOMA	
UMBI AKAR	

LIVEWORKSHEETS

LKPD 3

Petunjuk: isilah kotak teka teki silang dibawah ini dengan jawaban pertanyaan menurun dan mendatar.

TTS PERKEMBANGBIAKAN PADA TUMBUHAN



ACROSS

3. Perkembangbiakan secara generartif adalah perkembangan biakan secara ....
4. Peristiwa jatuhnya serbuk sari di atas kepala putik disebut ....
6. Alat kelamin jantan pada bunga..

DOWN

1. Berikut adalah bagian-bagian yang terdapat pada bunga adalah
2. contoh tumbuhan yang berkembang biak secara genbratif adalah
4. Alat kelamin betina pada tumbuhan adalah....
5. Perkembangbiakan tumbuhan secara generatif terjadi melalui....

LIVEWORKSHEETS

LKPD 4

Nama :

Kelas :

Perkembangbiakan Tumbuhan

Kelompokkan setiap tumbuhan. Potong dan tempel ke dalam kolom sesuai dengan jenis perkembangbiakannya.

Generatif	Vegetatif

@sellaemilani

LIVEWORKSHEETS