Діагностувальна робота 6

з теми «Множення і ділення круглих чисел. Частини»

Тестова робота

Варіант 1

1. Познач стовпчик, у якому записані одиниці вимірювання часу

а) година	***б)*** рік	***в)*** метр
хвилина	доба	кілометр
секунда	кілометр	дециметр

2. На якому малюнку зображена $\frac{1}{4}$ частина кола

а)

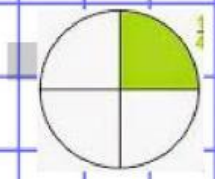

б)

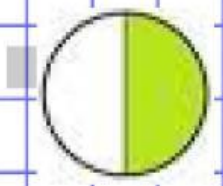

в)

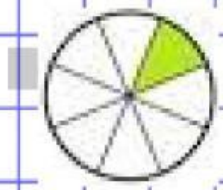



3. Визнач найменший дріб

а) $\frac{1}{8}$ ***б)*** $\frac{1}{3}$ ***в)*** $\frac{1}{10}$

LIVEWORKSHEETS

4. Встанови відповідність між назвою та об'ємною фігурою

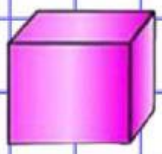

піраміда

куля

куб

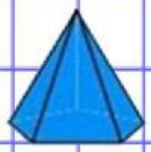

циліндр

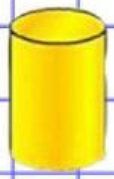

конус

паралелепіпед

LIVEWORKSHEETS

5. ***Виконай обчислення***

820 грн – 340 грн =

6. ***Розв'яжи задачу виразом***

У їдальні на 8 тарілок поклали по 20 тістечок, а на 5 тарілок – по 8 мафінів. У скільки разів більше тістечок, ніж мафінів поклали на тарілки?

( ) ( ) = ( )

Відповідь: тістечок, ніж мафінів поклали на тарілки.

Оціни свою роботу. Постав галочку у відповідній клітинці.

Дію множення позначай зірочкою *

Дію ділення позначай двокрапкою :

LIVEWORKSHEETS