செய்து பார்

முக்கோண வடிவப் படத்தை வட்டமிடுக.

செவ்வக வடிவப் படத்தை வட்டமிடுக.

முயன்று பார்

பொருள்களை அதன் அடிப்படை வடிவங்களுடன் பொருத்துக.



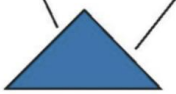

மகிழ்ச்சி நேரம்

சரியானதை (✓) செய்க.

4 பக்கங்களும் சமமாக உள்ள வடிவம் எது?

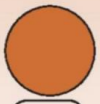

எதிரெதிர் பக்கங்கள் மட்டுமே சமமாக உள்ள வடிவம் எது?



வளைவாக உள்ள வடிவம் எது?

LIVEWORKSHEETS