Lembar Kerja Siswa

LKS 1

Materi: Unsur-unsur, luas, dan keliling lingkaran

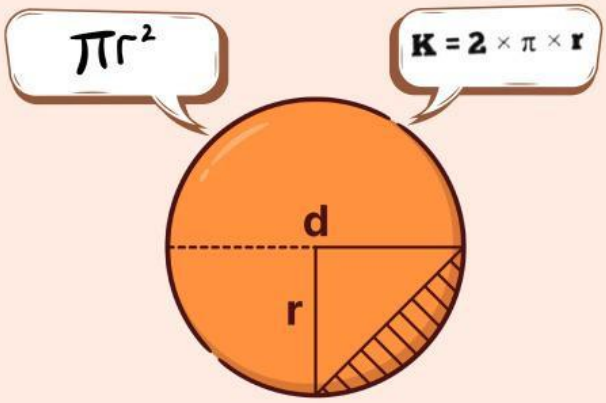

Tujuan pembelajaran

melalui model pembelajaran CORE dengan pendekatan pembelajaran mendalam, siswa mampu menjelaskan dan mengidentifikasi unsur-unsur pada lingkaran

Kelompok : _____

Anggota : _____

_____

_____

_____

_____

LIVEWORKSHEETS

UNSUR-UNSUR LINGKARAN

Perhatikan gambar lingkaran berikut. Pasangkan unsur-unsur lingkaran dengan manarik garis.

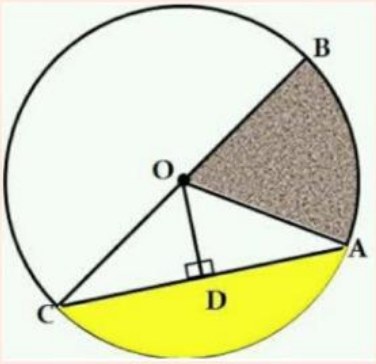

Titik O	☐	☐	Juring
Garis CB	☐	☐	Apotema
Garis OD	☐	☐	Busur
Garis OA	☐	☐	Jari-jari
Garis CA	☐	☐	Diameter
Garis BA	☐	☐	Titik Pusat
Daerah berwarna kuning	☐	☐	Titik pusat
Daerah berwarna abu	☐	☐	Tali Busur

LIVEWORKSHEETS

Jelaskan dengan kalimatmu sendiri bagaimana hubungan jari-jari dan diameter lingkaran? Tuliskan juga simbol jari-jari dan diamter lingkaran.

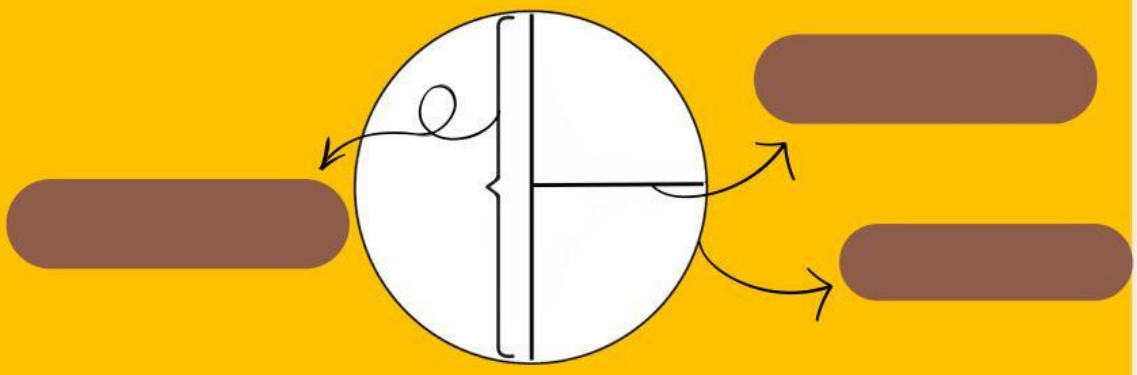

Dari gambar lingkaran di atas, tentukan manakah yang merupakan jari-jari, diameter, dan tali busur.

A. Jari-jari

B. Diameter

C. Tali Busur

LIVEWORKSHEETS