## SOAL MATEMATIKA KELAS 4 SD KURIKULUM MERDEKA

**Nama** :

**Bab** : **Bangun Datar**

**Sub Bab** : **Bangun Datar Segitiga**

**Keterangan** : **Lembar 4**

**Kerjakanlah soal-soal di bawah ini dengan cermat dan tepat!**

1) Bangun segitiga mempunyai sisi berjumlah ....
   a. Satu
   b. Dua
   c. Tiga
   d. Empat

2) Berdasarkan panjang sisi-sisinya, segitiga dibedakan menjadi 3 yaitu ....
   a. Siku-siku, tumpul dan lancip
   b. Siku-siku, sama sisi, dan sama kaki
   c. Sama sisi, sama kaki dan sembarang
   d. Sama sisi, lancip dan siku-siku

3) Segitiga yang semua sisinya memiliki panjang yang sama dinamakan segitiga
   a. Siku-siku
   b. Sama kaki
   c. Sama sisi
   d. Lancip

4) Segitiga yang salah satunya sudutnya memiliki ukuran $90^0$ dinamakan segitiga ....
   a. Lancip
   b. Tumpul
   c. Sama kaki
   d. Siku-siku

5) Segitiga yang semua sudutnya kurang dari $90^0$ dinamakan segitiga ....
   a. Lancip
   b. Siku-siku
   c. Tumpul
   d. Kecil

6) Segitiga yang panjang sisi-sisinya tidak ada yang sama dinamakan segitiga ....
   a. Sama kaki
   b. Sama sisi
   c. Lancip
   d. Sembarang

7) Segitiga yang semua sudutnya lebih besar dari $90^0$ dinamakan segitiga ....
   a. Lancip
   b. Tumpul
   c. Siku-siku
   d. Besar

8) Segitiga yang hanya memiliki dua sisi yang panjangnya sama dinamakan segitiga ....
   a. Sama kaki
   b. Sama sisi
   c. Sama panjang
   d. Sama sudut

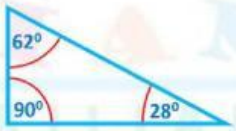


9) Berdasarkan besar sudutnya, segitiga di atas dinamakan segitiga ....
   a. Tumpul
   b. Lancip
   c. Sembarang
   d. Siku-siku

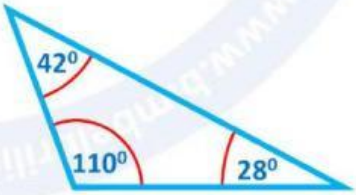


10) Berdasarkan besar sudutnya, segitiga di atas dinamakan segitiga ....
   a. Tumpul
   b. Lancip
   c. Siku-siku
   d. Sama kaki

LIVEWORKSHEETS

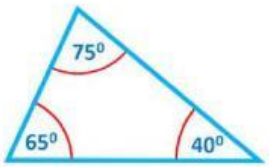


11) Berdasarkan besar sudutnya, segitiga di atas dinamakan segitiga ....
a. Tumpul
b. Lancip
c. Siku-siku
d. Sama sisi

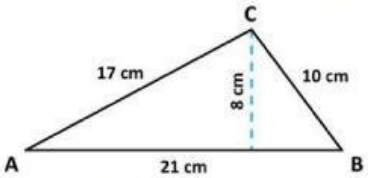


12) Berdasarkan panjang sisinya, segitiga di atas dinamakan segitiga ....
a. Siku-siku
b. Sama sisi
c. Sama kaki
d. Sembarang

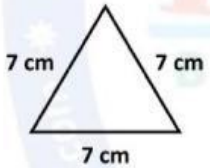


13) Berdasarkan panjang sisinya, segitiga di atas dinamakan segitiga ....
a. Siku-siku
b. Sama sisi
c. Sama kaki
d. Sembarang

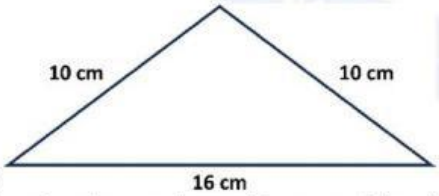


14) Berdasarkan panjang sisinya, segitiga di atas dinamakan segitiga ....
a. Siku-siku
b. Sama sisi
c. Sama kaki
d. Sembarang

15) Berikut ini yang merupakan sifat dari segitiga sama sisi adalah ....
a. Mempunyai sisi yang tidak sama panjang
b. Semua sisinya sama panjang
c. Mempunyai sudut yang berbeda-beda
d. Salah satu sudutnya adalah tumpul

16) Berikut ini yang merupakan sifat dari segitiga siku-siku adalah ....
a. Salah satu sudutnya besarnya lebih dari $90^0$
b. Semua sudutnya besarnya lebih kecil dari $90^0$
c. Semua sudutnya besarnya $90^0$
d. Salah satu sudutnya besarnya $90^0$

17) Berikut ini yang merupakan sifat dari segitiga sama kaki adalah ....
a. Semua sisinya mempunyai panjang yang berbeda
b. Memiliki dua sisi yang panjangnya sama
c. Mempunyai sudut besarnya $90^0$
d. Semua sisinya mempunyai panjang yang sama

18) Berikut ini yang merupakan sifat dari segitiga tumpul, *kecuali* ....
a. Semua sudutnya kurang dari $90^0$
b. Memiliki 3 sisi
c. Memiliki 3 titik sudut
d. Salah satu sudut besarnya lebih dari $90^0$

19) Berikut ini yang merupakan sifat dari segitiga sembarang, *kecuali* ....
a. Memiliki 3 sisi
b. Semua sisinya mempunyai panjang yang berbeda
c. Memiliki 3 titik sudut
d. Memiliki 2 sisi yang panjangnya sama

20) Berikut ini yang merupakan sifat dari segitiga lancip, *kecuali* ....
a. Semua sudutnya kurang dari $90^0$
b. Memiliki 3 sisi
c. Memiliki 3 titik sudut
d. Salah satu sudut bersarnya $90^0$

LIVEWORKSHEETS

**Perhartikan Gambar berikut ini untuk mengisi soal nomor 21 sampai 25!**

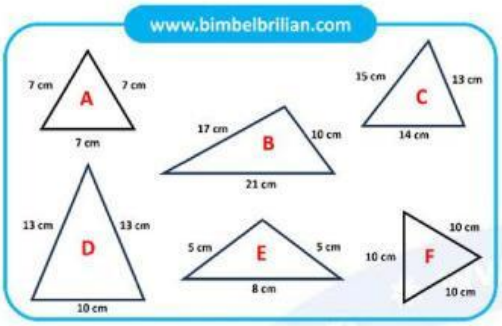


21) Segitiga yang termasuk segitiga sama kaki adalah ....
   a. Segitiga A dan B
   b. Segitiga B dan C
   c. Segitiga C dan D
   d. Segitiga D dan E

22) Segitiga B termasuk segitiga sembarang karena ....
   a. Salah satu sisinya memiliki panjang 21 cm
   b. Salah satu sisinya memiliki panjang 17 cm
   c. Semua sisinya memiliki panjang yang berbeda
   d. Ada dua sisi yang panjangnya berbeda

23) Segitiga yang termasuk segitiga sama sisi adalah ....
   a. Segitiga A dan B
   b. Segitiga C dan D
   c. Segitiga B dan F
   d. Segitiga A dan F

24) Segitiga D termasuk segitiga sama kaki karena ....
   a. Ada dua sisi yang panjangnya sama
   b. Ada tiga sisi yang panjangnya sama
   c. Semua sisinya memiliki panjang yang sama
   d. Memiliki sisi yang panjangnya berbeda semua

25) Segitiga yang tidak termasuk segitiga sembarang adalah ....
   a. Segitiga A, B, C, dan D
   b. Segitiga A, C, D, dan E
   c. Segitiga A, D, E, dan F
   d. Segitiga B, C, D, dan F

**Perhartikan Gambar berikut ini untuk mengisi soal nomor 26 sampai 30!**

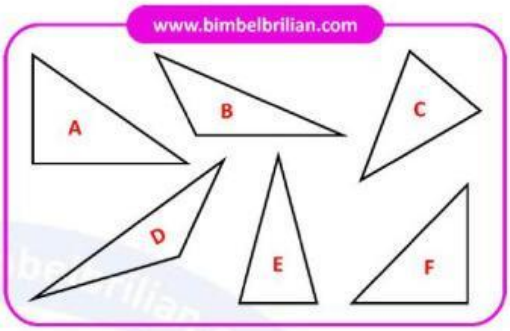


26) Segitiga yang termasuk segitiga siku-siku adalah ....
   a. Segitiga A dan B
   b. Segitiga B dan F
   c. Segitiga A dan F
   d. Segitiga C dan D

27) Segitiga C termasuk segitiga lancip karena ....
   a. Semua sudutnya adalah $90^0$
   b. Salah satu sudutnya memiliki besar $90^0$
   c. Semua sudutnya kurang dari $90^0$
   d. Semua sudutnya lebih dari $90^0$

28) Segitiga yang termasuk segitiga tumpul adalah ....
   a. Segitiga B dan D
   b. Segitiga C dan D
   c. Segitiga A dan C
   d. Segitiga E dan F

29) Segitiga F termasuk segitiga siku-siku karena ....
   a. Semua sudutnya adalah $90^0$
   b. Salah satu sudutnya memiliki besar $90^0$
   c. Semua sudutnya kurang dari $90^0$
   d. Semua sudutnya lebih dari $90^0$

30) Segitiga yang tidak termasuk segitiga lancip adalah ....
   a. Segitiga A, B, C, dan D
   b. Segitiga B, C, D, dan E
   c. Segitiga B, D, E, dan F
   d. Segitiga A, B, D, dan F

| Jumlah Jawaban Benar: | Nilai: |
|---|---|

LIVEWORKSHEETS