Lembar Kerja Peserta Didik

JENIS-JENIS SEGITIGA

Sumber Bacaan Peserta Didik : Matematika Erlangga Hal 269 – 270 (Kumer)

A. Nama-nama Bagian Segitiga

Perhatikan gambar segitiga berikut!

Tempelkan/pindahkan sesuai dengan namanya!

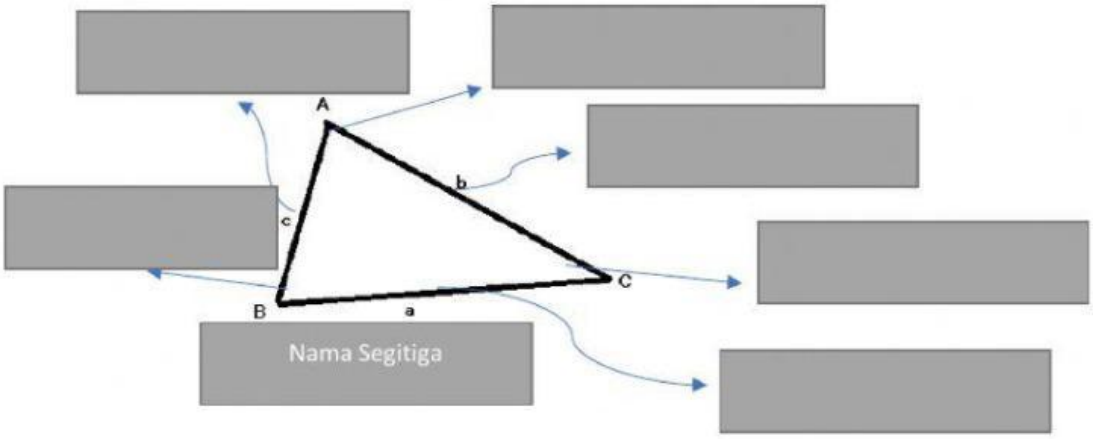

ΔABC | Sisi AB | Sisi BC

∠ABC | Sisi AC | ∠ACB | ∠BAC

B. Jenis Segitiga Dilihat dari Sudutnya

Tariklah garis dari kotak sebelah kiri ke kotak sebelah kanan ! (jodohkanlah dengan cara menarik garis)

Segitiga dengan ukuran salah satu sudutnya lebih dari 90^0 adalah	Segitiga Siku-siku
Segitiga dengan ukuran salah satu sudutnya 90^0 adalah	Segitiga Lancip
Segitiga dengan besar ketiga sudutnya kurang dari 90^0 adalah	Segitiga Tumpul

LIVEWORKSHEETS
LIVEWORKSHEETS

C. Jenis Segitiga Dilihat dari Panjang Sisinya

Berdasarkan panjang sisinya, jenis segitiga ada 3, yaitu :

1. Segitiga sama kaki

2. Segitiga sama sisi

3. Segitiga sembarang

Dari gambar berikut tentukan jenis segitiganya!



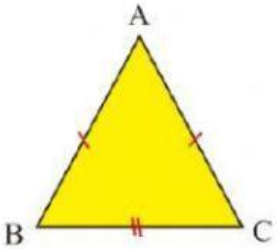

Nama Anggota Kelompok :

1. .....
2. .....
3. .....
4. .....
5. .....

By.maysmp2bmy

LIVEWORKSHEETS
LIVEWORKSHEETS