Colégio COPACABANA

ENSINO FUNDAMENTAL II
TURMA: 6º ANO A e B

"Jesus é o exemplo da nossa educação!"

Sistema de Ensino pH

DESDE 1985

Aluno (a): _____

Professor(a):Aline de Paula

Atividade de História

1) Relacione os conceitos abaixo com as devidas descrições:

Tempo Cronológico	Tempo em que os fatos ocorrem na História;
Tempo Histórico	Tempo medido em calendários, relógios;

2) Escolha a opção correta para completar as frases:

a) Um calendário _____ é aquele que considera o nascer do sol para contagem de dias, nele um ano tem 365 dias;

b) Um calendário _____ é aquele que considera as fases da lua para contagem de tempo, por exemplo, um mês só inicia no primeiro dia da fase da lua crescente.

c) Um calendário _____ é aquele que leva em consideração os movimentos do sol e da lua;

3) Selecione a alternativa incorreta para os calendários de acordo com as imagens:

Calendário Cristão

Nascimento de Cristo;
Fuga de Maomé para Medina;
Criação do Mundo;

Calendário Muçulmano

Nascimento de Cristo;
Fuga de Maomé para Medina;
Criação do Mundo;

Calendário Judaico

Marco nascimento de Cristo;
Fuga de Maomé para Medina;
Criação do Mundo;

LIVEWORKSHEETS

4) Com base no nosso calendário Cristão e na linha do tempo esquemática da página 153 do seu material PH, arraste e solte os anos abaixo, de acordo com o seu calendário correspondente nas linhas tracejadas de vermelho:

622 d.C

3760 a.C

5781 d.C

1442 d.C

Calendário Judaico



Calendário Cristão

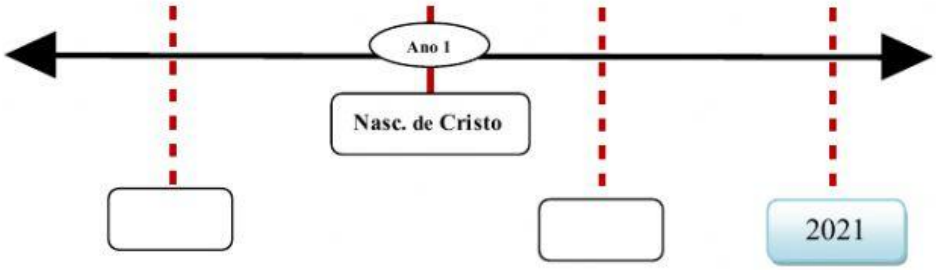

Calendário Muçulmano

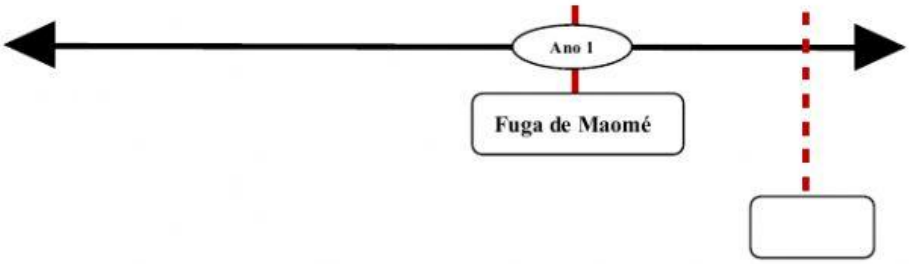

O Tempo de Deus é perfeito!

LIVEWORKSHEETS