Lembar Kerja Peserta Didik

LKPD

Ilmu Pengetahuan Alam

Nama : .....

Kelas : .....

LIVEWORKSHEETS

Petunjuk Mengerjakan

1. **Tuliskan Nama dan Kelas.**
2. **Perhatikan tabel warna putih di atas.**
3. **Lihat gambar-gambar pada tabel warna hijau di bawah.**
4. **Pencet / klik salah satu gambar pada tabel hijau.**
5. **Setelah itu, pindahkan gambar ke tabel putih yang sesuai.**

Macam - macam ekosistem

Ekosistem sawah	Ekosistem laut	Ekosistem Hutan	Ekosistem Gurun



LIVEWORKSHEETS

Makhluk Hidup Dan Benda Mati

Klasifikasikan makhluk hidup dan benda mati di bawah ini Beri tanda MH (Makhluk Hidup) dan BM (Benda Mati)

LIVEWORKSHEETS

Hubungkan gambar di bawah ini dengan kalimat yang sesuai

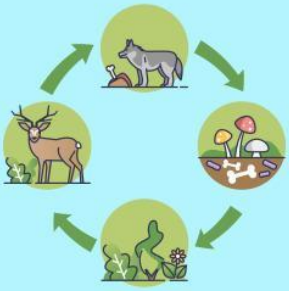

- Individu
- Biosfer
- Ekosistem
- Bioma
- Populasi
- Komunitas

LIVEWORKSHEETS

Identifikasilah gambar macam - macam ekosistem di bawah ini kemudian pilih gambar dan sesuaikan dengan golongan nya masing - masing yaitu ekosistem alami atau ekosistem buatan

ekosistem alami









ekosistem buatan

LIVEWORKSHEETS