ESCOLA MUNICIPAL LYRA MACHADO GOMES E SOUZA

Jaraguá, 23 de março de 2021.

Professora: **Adriana de Camargo**

Aluno (a): _____

Ano/Série: 3º Turma:Única Turno: Matutino

AVALIAÇÃO DE CIÊNCIAS - 1º BIMESTRE

O SOM É UMA ONDA E PARA SE PROPAGAR PRECISA DE UM SUPORTE MATERIAL. NO CASO MAIS HABITUAL O SUPORTE É O AR.

1-Ligue o animal ao som que ele produz.

2-Marque somente as figuras que representam o som.

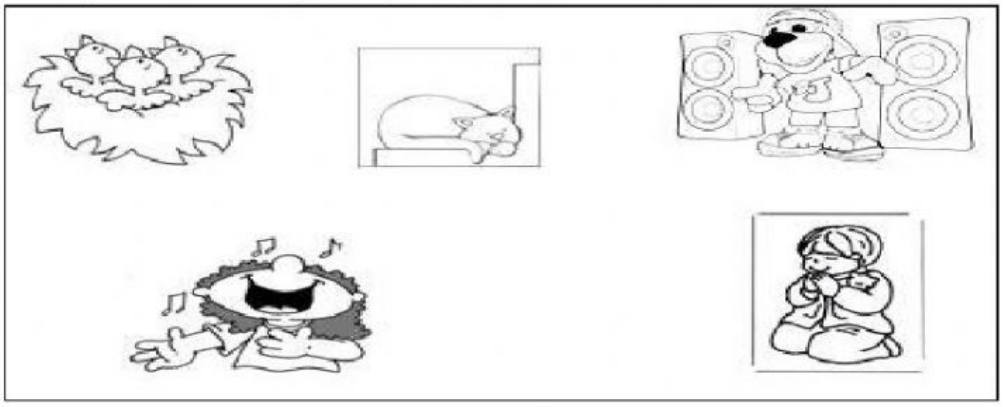

LIVEWORKSHEETS

3-Marque somente as figuras que representam o silêncio.

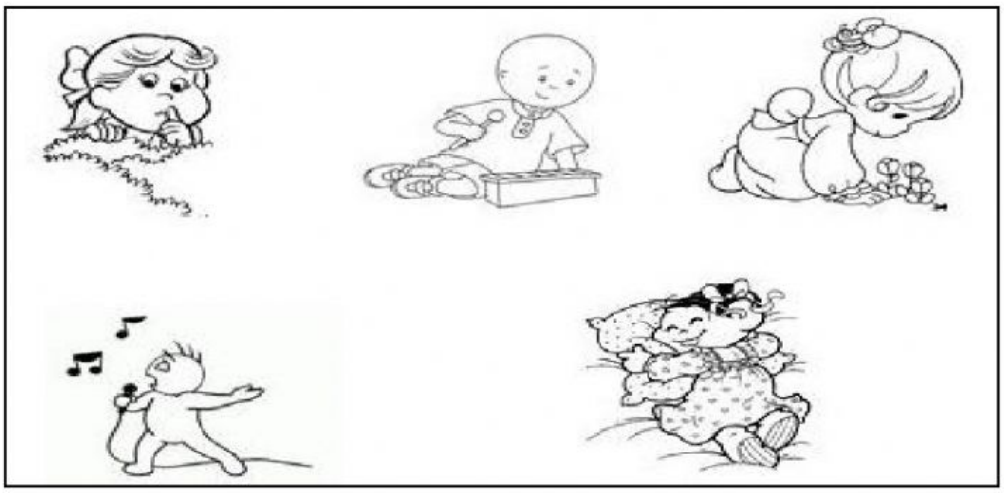

OS TRÊS MEIOS DE PROPAGAÇÃO DA LUZ: TRANSPARENTE, TRANSLÚCIDO E OPACO.

- **Meios transparentes** – permitem ver com nitidez através deles (Ex.:vidro comum, ar)

- **Meios translúcidos** – permitem a visualização dos objectos mas sem nitidez. (Ex.:vidro fosco, papel de seda)

- **Meios opacos** – não permitem a visualização dos objectos (Ex.: madeira, cimento.)



LIVEWORKSHEETS

4-Assinale com X as imagens que representam fontes luminosas.



5-Os materiais que não se deixam atravessar pela luz são:

☐ transparentes ☐ opacos ☐ translúcidos

6- Marque um X na figura que mostra um objeto translúcido.

( )

( )



( )

LIVEWORKSHEETS