Математик Т22

Мянга дотор тоог хасах

Сурагчийн нэр: ..... Эхэлсэн: ..... он ..... сар ..... өдөр

Охин 1000 төгрөгтэй байв. 700 төгрөгөөр харандаа, 150 төгрөгөөр дэвтрийн хавтас авав. Охинд хэдэн төгрөг үлдсэн бэ?

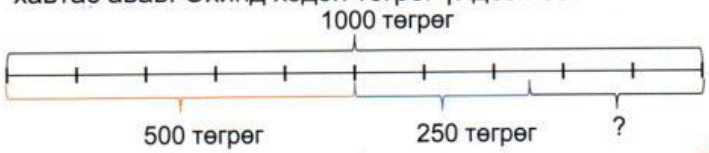

Бодолт

1 0 0 0 төгрөг
− 5 0 0 төгрөг
5 0 0 нийт төгрөг

10а
5 0 0 төгрөг
− 1 5 0 төгрөг
3 5 0 төгрөг (охинд үлдсэн)

1 Дэлгүүрт 364 дэвтэр, 137 үзэг байв. Дэвтэр үзгээс хэдээр олон бэ?

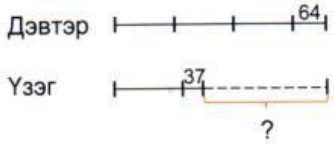

2 Нэгдүгээр анги 275 сурагчтай, хоёрдугаар анги 196 сурагчтай, гуравдугаар анги 373 сурагчтай. Ангиудын сурагчдын зөрөөг олоорой.



3 Дэргүүрт 264 харандаа, 128 ном байв. Харандаа болон номын зөрөөг олоорой.

Зураглал

4 Зураглалд тохирох бодлого зохиож бичээрэй.

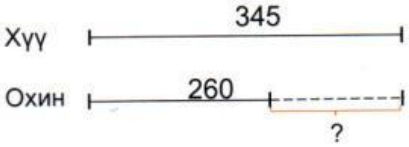

5 Зураглалд тохирох бичиглэл хийгээрэй.



Дууссан: .....сар .....өдөр

Даалгавар	1	2	3	4	5
Өөрийн үнэлгээ					

LIVEWORKSHEETS