LEMBAR KERJA PESERTA DIDIK

Nama:

Kelas :

Simak Video Berikut Ini!

Setelah menyimak video di atas, kerjakan soal-soal dibawah ini!

LIVEWORKSHEETS

LIVEWORKSHEETS

Pasangkan bangun di bawah ini yang sesuai dengan cara menarik garis!

Prisma

Limas

Kubus

Balok

LIVEWORKSHEETS

LIVEWORKSHEETS

Isilah unsur-unsur KUBUS di bawah ini dengan benar!

Banyak rusuk Kubus adalah...

Banyak sisi Kubus adalah...

Banyak titik sudut Kubus adalah...

Isilah unsur-unsur BALOK di bawah ini dengan benar!

Banyak rusuk Balok adalah...

Banyak sisi Balok adalah...

Banyak titik sudut Balok adalah....

LIVEWORKSHEETS

LIVEWORKSHEETS

Perhatikan gambar berikut! Ceklislah jawaban yang tepat

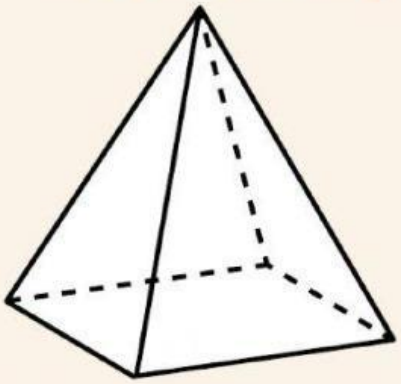

Nama bangun di samping adalah.....

A. Prisma

B. Limas

Banyak rusuk adalah.....

A. 5 C. 12

B. 8

Banyak titik sudut adalah.....

A. 5 C. 12

B. 8

Banyak sisi adalah.....

A. 5 C. 12

B. 8

LIVEWORKSHEETS

LIVEWORKSHEETS

Perhatikan gambar berikut!

Nama bangun di samping adalah.....

A. Prisma Segitiga

B. Prisma Segiempat

C. Prisma segilima

D. Prisma Segienam

Banyak rusuk adalah.....

A. 5

B. 6

C. 9

Banyak titik sudut adalah.....

A. 5

B. 6

C. 9

Banyak sisi adalah.....

A. 5

B. 6

C. 9

LIVEWORKSHEETS

LIVEWORKSHEETS

Yang termasuk diagonal ruang kubus di bawah ini adalah....

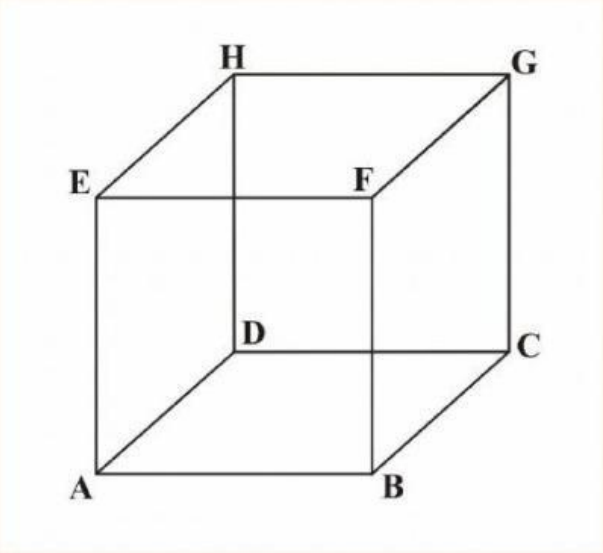

AF, BE, CH, DG, BG, CF, DE, AH termasuk unsur balok.....

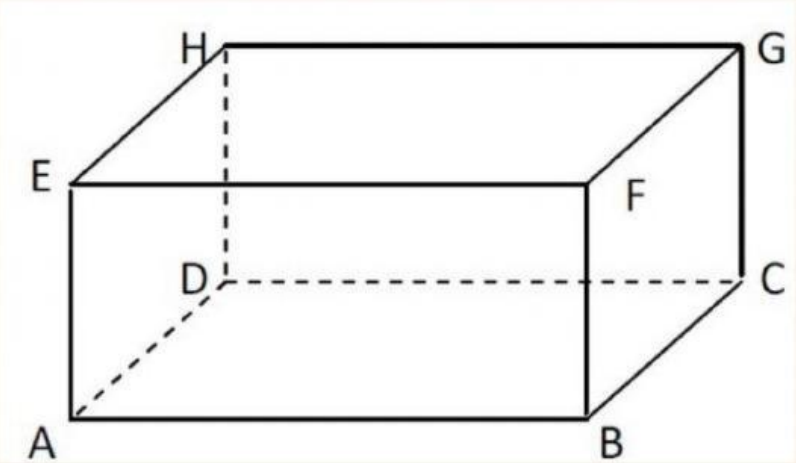

LIVEWORKSHEETS

LIVEWORKSHEETS

Pasangkan ke jawaban yang benar!

Bangun Ruang

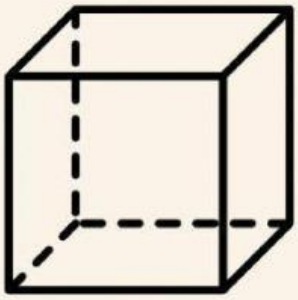

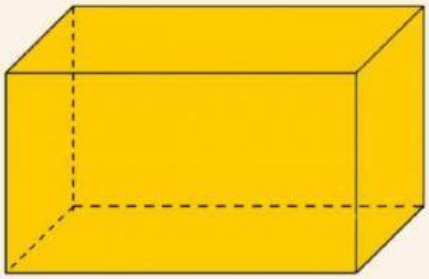

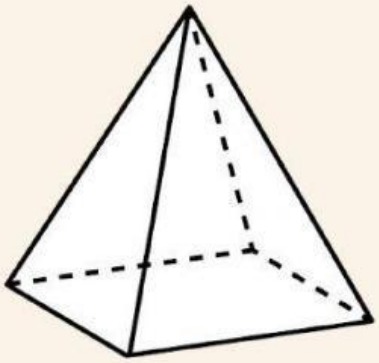

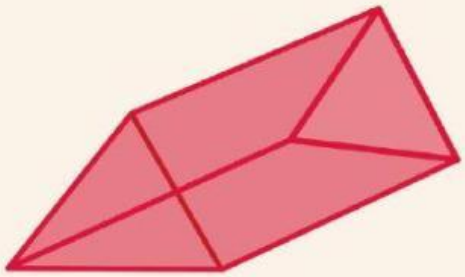

Jaring-Jaring

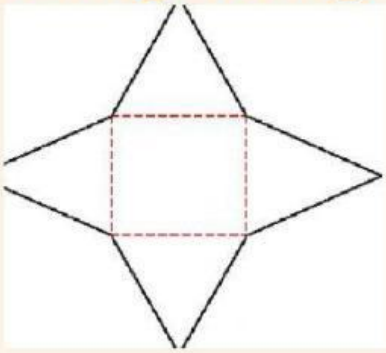

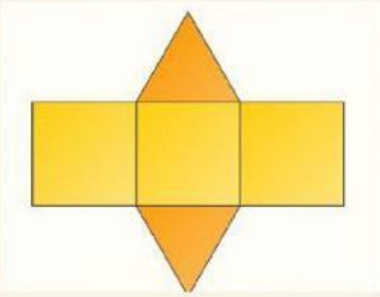

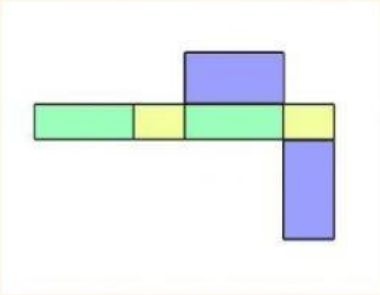

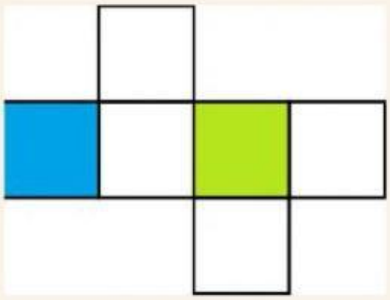

LIVEWORKSHEETS

LIVEWORKSHEETS

Geser dan pindahkan rumus di bawah pada tempat yang sesuai

Luas Permukaan Kubus

Luas Permukaan Balok

Volume Kubus

Volume Balok

s^3

$6 \times s^2$

$p \times l \times t$

$2 \times (p.l + p.t + l.t)$

LIVEWORKSHEETS

LIVEWORKSHEETS

Geser dan pindahkan rumus di bawah pada tempat yang sesuai

Luas Permukaan Prisma Δ

Luas Permukaan Limas Δ

Volume Prisma Δ

Volume Limas Δ

L alas + L ΔI + L ΔII + L ΔIII

⅓ × La × t

Luas alas × t

t × (Keliling Alas) + (2 × LaΔ)

LIVEWORKSHEETS

LIVEWORKSHEETS