7 клас
Частина 5

ГЕОГРАФІЯ

Дата _____

Варіант 1

Прізвище, ім'я _____

Самостійна робота 10

Завдання на здійснення пошуку та опрацювання інформації (ГР 2)

Обери варіант відповіді із чотирьох запропонованих
(1 б. за кожне правильно виконане завдання 1–4).

1. **Якою течією, що проходить уздовж Антарктиди, можна здійснити навколосвітню подорож?**
   - **А** Перуанською;
   - **Б** Антарктичною;
   - **В** Західних Вітрів;
   - **Г** Фолклендською.
2. **Яким морем дісталися до узбережжя Антарктиди Р. Амундсен та Р. Скотт?**
   - **А** Ведделла;
   - **Б** Беллінсгаузена;
   - **В** Співдружності;
   - **Г** Росса.
3. **Який тип клімату не поширений на території Антарктиди?**
   - **А** Помірний;
   - **Б** арктичний;
   - **В** антарктичний;
   - **Г** субантарктичний.
4. **Найвища точка Антарктиди розташована...**
   - **А** в горах Вернадського;
   - **Б** в горах Елсуерта;
   - **В** в Трансантарктичних горах;
   - **Г** на Полярному плато.

Завдання на усвідомлення закономірностей природи (ГР 3)

Виконай завдання
(4 б. за кожне правильно виконане завдання 5, 6).

5. **Укажи унікальні природні особливості (4–5) Антарктиди, які відрізняють її від інших материків.** _____

LIVEWORKSHEETS

6. Познач на контурній карті Антарктиди такі географічні об'єкти: моря Співдружності, Ведделла, Беллінсгаузена, Лазарева, Амундсена; Антарктичний півострів. Проклади стрілками маршрути подорожей Руала Амундсена та Роберта Скотта.

Контурна карта Антарктиди

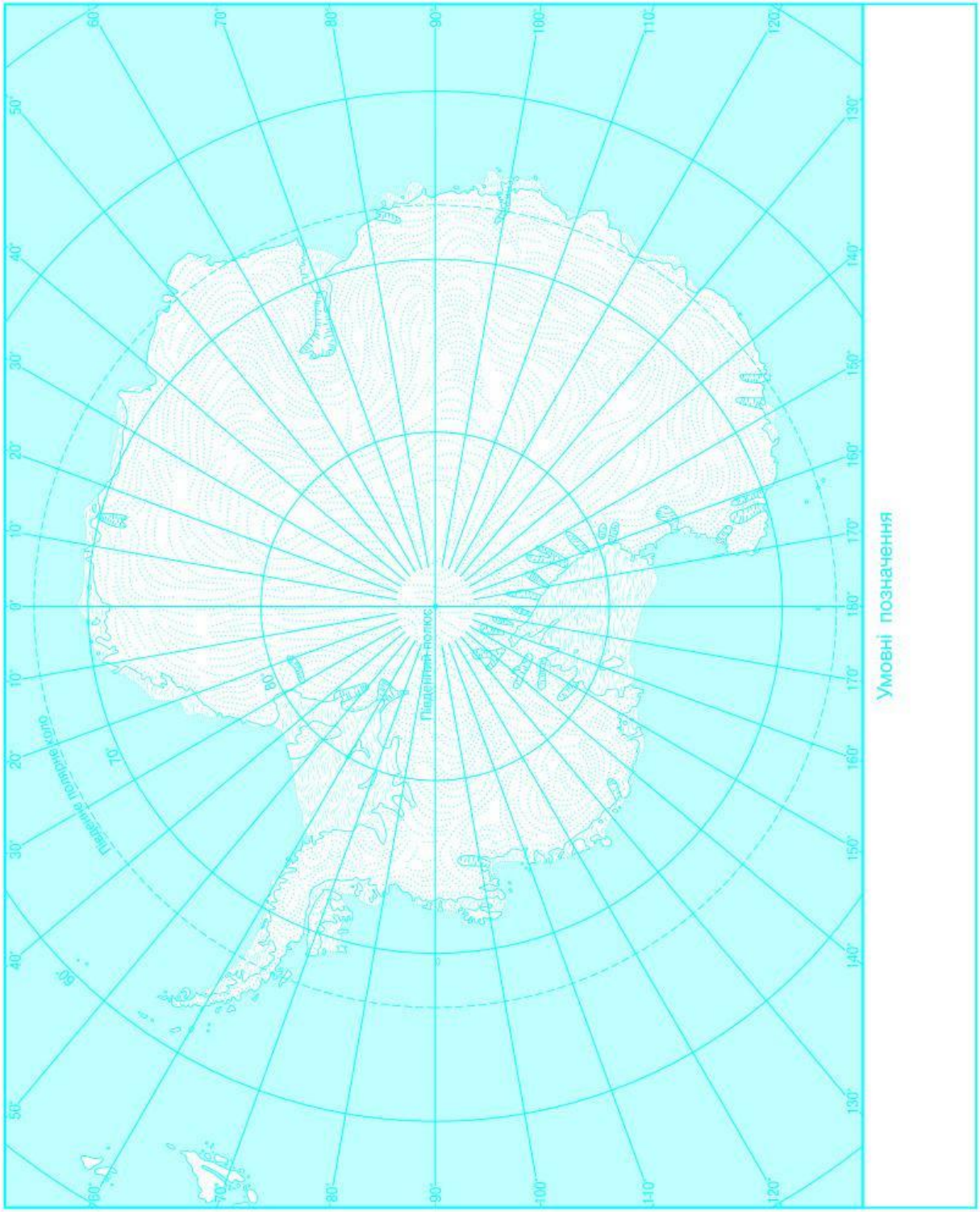

LIVEWORKSHEETS

7 клас Частина 5

ГЕОГРАФІЯ

Дата _____

Варіант 2

Прізвище, ім'я _____

Самостійна робота 10

Завдання на здійснення пошуку та опрацювання інформації (ГР 2)

Обери варіант відповіді із чотирьох запропонованих
(1 б. за кожне правильно виконане завдання 1–4).

1. Географічний полюс, розташований у межах Антарктиди, має координати:
   - **А** 90° пн. ш. 0° д.;
   - **Б** 90° пд. ш. 0° д.;
   - **В** 0° ш. 90° зх. д.;
   - **Г** 0° ш. 90° сх. д.
2. Більшу частину Антарктиди займає...
   - **А** молода складчаста область;
   - **Б** давня складчаста область;
   - **В** молода платформа;
   - **Г** давня (докембрійська) платформа.
3. У якій з навколосвітніх експедицій Дж. Кук ставив за мету досягти узбережжя Антарктиди?
   - **А** У першій;
   - **Б** у другій;
   - **В** у третій;
   - **Г** у четвертій.
4. Антарктиду та Південну Америку розмежовує...
   - **А** Берингова протока;
   - **Б** Магелланова протока;
   - **В** протока Дрейка;
   - **Г** протока Кука.

Завдання на усвідомлення закономірностей природи (ГР 3)

Виконай завдання
(4 б. за кожне правильно виконане завдання 5, 6).

5. Укажи унікальні природні особливості (4–5) Антарктиди, які відрізняють її від інших материків. _____

LIVEWORKSHEETS

6. Познач на контурній карті Антарктиди такі географічні об'єкти: море Росса; гори Елсуерта, Вернадського, Трансантарктичні; вулкан Еребус, а також наукові станції «Амундсен — Скотт», «Академік Вернадський».

Контурна карта Антарктиди

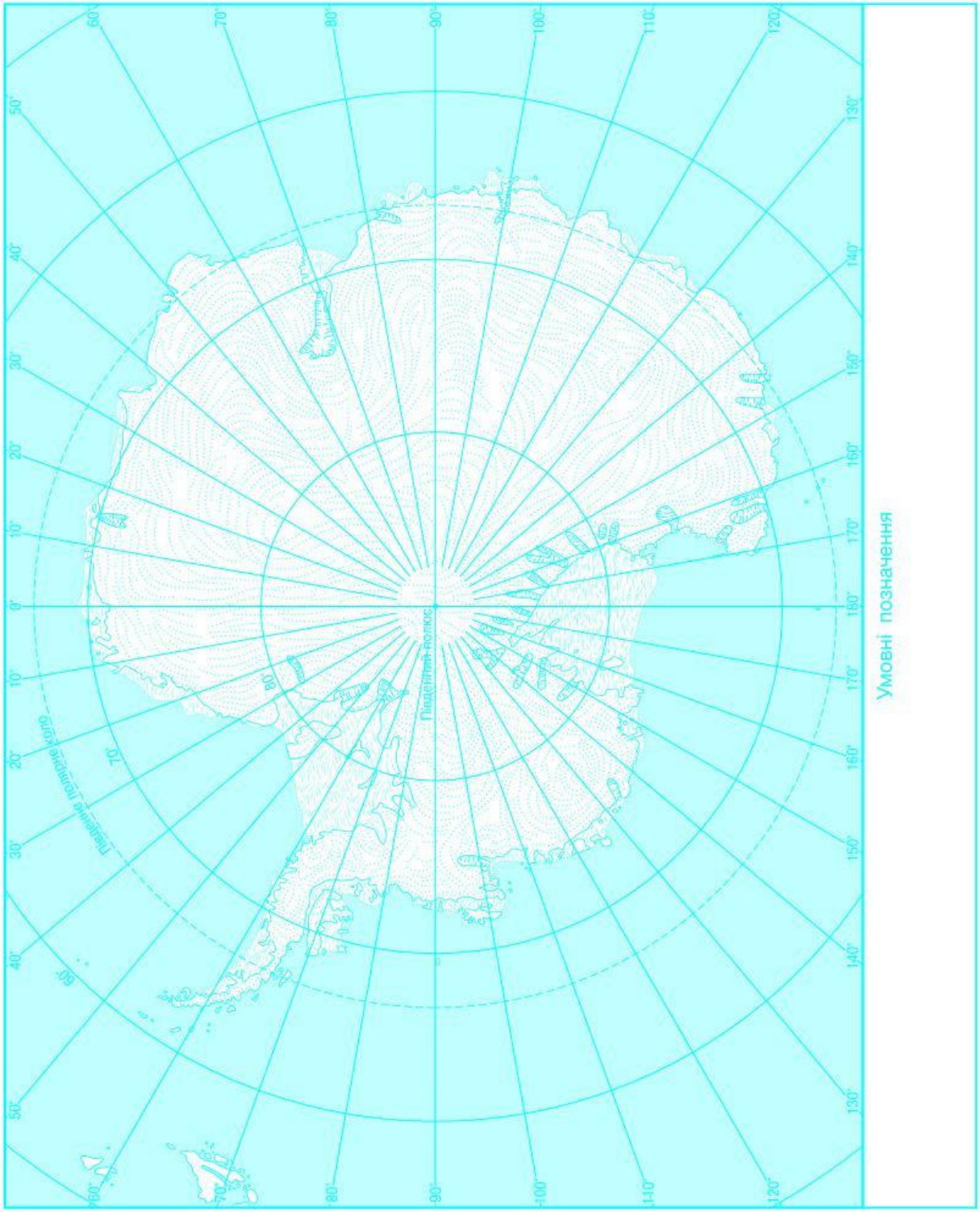

LIVEWORKSHEETS

7 клас
Частина 5

ГЕОГРАФІЯ

Варіант 1

Дата _____

Прізвище, ім'я _____

Самостійна робота 11

Завдання на здійснення пошуку та опрацювання інформації (ГР 2)

Обери варіант відповіді із чотирьох запропонованих
(1 б. за кожне правильно виконане завдання 1–6).

1. Який океан не омиває берегів Північної Америки?
   - **А** Тихий;
   - **Б** Атлантичний;
   - **В** Північний Льодовитий;
   - **Г** Індійський.
2. «Море без берегів» біля Північної Америки:
   - **А** Карибське;
   - **Б** Берингове;
   - **В** Саргасове;
   - **Г** Бофорта.
3. Гори Кордильєри утворилися на межі двох літосферних плит: Північноамериканської та...
   - **А** Африканської;
   - **Б** Тихоокеанської;
   - **В** Наска;
   - **Г** Дрейка.
4. Давніми горами є...
   - **А** Кордильєри;
   - **Б** Скелясті гори;
   - **В** Берегові хребти;
   - **Г** Аппалачі.
5. Профіль, що характеризує особливості рельєфу Північної Америки:
   - **А** 1;
   - **Б** 2;
   - **В** 3;
   - **Г** 4.

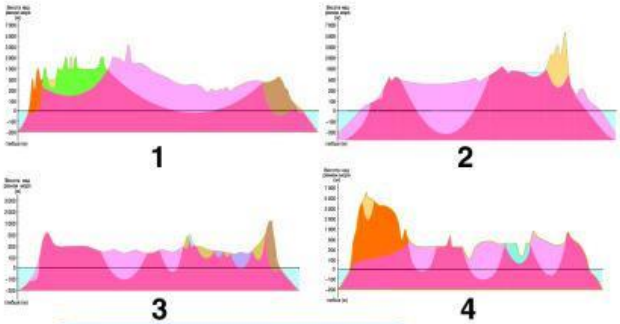

6. На світлині зображено...
   - **А** гору Маккінлі;
   - **Б** вулкан Орисаба;
   - **В** Великий каньйон;
   - **Г** Великі рівнини.

LIVEWORKSHEETS

Виконай завдання
(2 б. за правильно виконане завдання 7,
4 б. за правильно виконане завдання 8).

7. **Установи відповідність між іменами дослідників Північної Америки та їхніми досягненнями.**

1 Васко Нуньєс де Бальбоа
2 Джон Дейвіс
3 Джон Кабот
4 Александр Маккензі

А досліджував Алеутські острови
Б один із першовідкривачів Північної Америки
В перетнув Панамський перешийок
Г перетнув Північну Америку зі сходу на захід
Д відкрив протоки між островами Гренландія та Баффінова Земля

1	2	3	4

8. **Познач на контурній карті Північної Америки такі географічні об'єкти: низовини Примексиканська, Приатлантична; рівнини Центральні та Великі; Лаврентійська височина; гори Кордильєри, Скелясті, Аппалачі.**

Контурна карта Північної Америки

LIVEWORKSHEETS

7 клас
Частина 5

Дата _____

ГЕОГРАФІЯ

Варіант 2

Прізвище, ім'я _____

Самостійна робота 11

Завдання на здійснення пошуку та опрацювання інформації (ГР 2)

Обери варіант відповіді із чотирьох запропонованих
(1 б. за кожне правильно виконане завдання 1–6).

1. Яка крайня точка Північної Америки розміщена на території Панами?
   - **А** Мерчисон;
   - **Б** Мар'ято;
   - **В** Принца Уельського;
   - **Г** Сент-Чарльз.
2. Затока, яку називають *льодяним мішком*:
   - **А** Гудзонова;
   - **Б** Аляска;
   - **В** Каліфорнійська;
   - **Г** Мексиканська.
3. У якій частині Північної Америки розташована її найвища точка?
   - **А** У північній;
   - **Б** у південній;
   - **В** у західній;
   - **Г** у східній.
4. Яка рівнина / які рівнини Північної Америки утворена / утворені переважно річковими наносами?
   - **А** Лаврентійська височина;
   - **Б** Центральні рівнини;
   - **В** Великі рівнини;
   - **Г** Міссісіпська низовина.
5. Профіль, що характеризує особливості рельєфу Північної Америки:
   - **А** 1;
   - **Б** 2;
   - **В** 3;
   - **Г** 4.

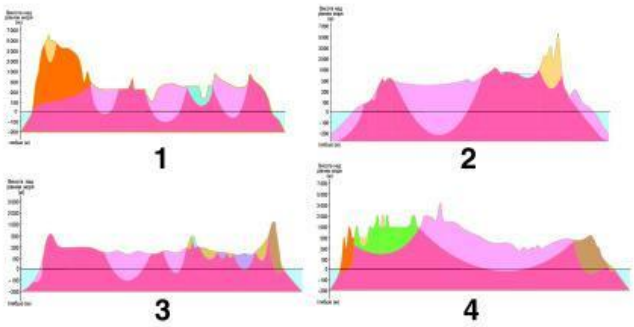

6. На космічному знімку зображено острів...
   - **А** Гренландія;
   - **Б** Ньюфаундленд;
   - **В** Гаїті;
   - **Г** Куба.

LIVEWORKSHEETS

Виконай завдання
(2 б. за правильно виконане завдання 7,
4 б. за правильно виконане завдання 8).

7. **Установи відповідність між іменами дослідників Північної Америки та їхніми досягненнями.**

1 Вільям Баффін
2 Жак Картьє
3 Генрі Гудзон
4 Васко Нуньєс де Бальбоа

А відкриття протоки між островами Гренландія та Баффінова Земля
Б нанесення на карту річки Святого Лаврентія
В дослідження великої субарктичної затоки
Г перетин Панамського перешийка
Д пошук північно-західного проходу з Атлантичного океану до Тихого

1	2	3	4

8. **Познач на контурній карті Північної Америки такі географічні об'єкти: затоки Гудзонова, Мексиканська, Каліфорнійська; півострови Лабрадор, Флорида, Аляска; острови Ньюфаундленд, Канадський Арктичний архіпелаг.**

Контурна карта Північної Америки

LIVEWORKSHEETS