บทที่ 1 สถิติ (2)

<u>คำชี้แจง</u> ให้นักเรียนเลือกคำตอบที่ถูกต้องที่สุด

1)

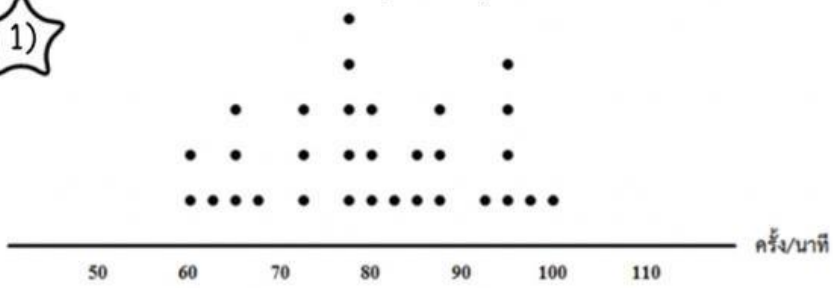

2)

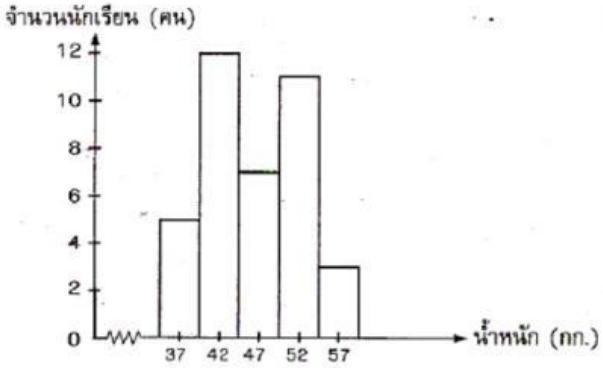

3)

0	1 1 2 2 3 4 4 4 5 8 9
1	
2	0 3 3 4 5 5 6 7 7 8 8 9 9
3	0 0 1 1 1 1 1 2 4 5 7
4	0 4 8 9
5	2 6 7 7 8
6	3

LIVEWORKSHEETS

บทที่ 1 สถิติ (2)

<u>คำชี้แจง</u> ให้นักเรียนพิจารณาข้อมูลต่อไปนี้ แล้วตอบคำถาม

การสำรวจการใช้เวลาออกกำลังกาย (นาที) ของนักเรียนชั้นมัธยมศึกษาปีที่ 2 เป็นดังนี้

ต้น	ใบ
1	0 0 3 5 5 6 7 8
2	0 5 5 8 9
3	0 0 3 5 5 5 5 6 8
4	1 1 5 6 7

1) นักเรียนชั้นมัธยมศึกษาปีที่ 2 ห้องนี้ มีทั้งหมดกี่คน

2) นักเรียนออกกำลังกายได้มากที่สุดกี่นาที

3) นักเรียนที่ออกกำลังกายได้มากที่สุดใช้เวลาต่างจากนักเรียนที่ออกกำลังกายได้น้อยที่สุดกี่นาที

4) นักเรียนส่วนมากใช้เวลาในการออกกำลังกายกี่นาที

5) นักเรียนที่ใช้เวลาในการออกกำลังกายตั้งแต่ 30 นาทีขึ้นไป มีทั้งหมดกี่คน

LIVEWORKSHEETS

บทที่ 1 สถิติ (2)

<u>คำชี้แจง</u> ให้นักเรียนพิจารณาข้อมูลต่อไปนี้ แล้วตอบคำถาม

1, 2, 2, 4, 5, 7, 9, 10

1) ค่าเฉลี่ยเลขคณิตคือเท่าใด

2) มัธยฐานคือเท่าใด

3) ฐานนิยมคือเท่าใด

4) ค่ากลางของข้อมูล (ค่าเฉลี่ยเลขคณิต, มัธยฐาน, ฐานนิยม จำเป็นต้องมีค่าเท่ากันเสมอหรือไม่

LIVEWORKSHEETS

บทที่ 2 ความเท่ากันทุกประการ

<u>คำชี้แจง</u> ให้นักเรียนเลือกเติมคำตอบลงในช่องว่างให้ถูกต้อง

	ถ้า รูป A ≅ รูป B แล้ว รูป B ≅ รูป A
	ถ้ารูป A ≅ รูป B และ รูป B ≅ รูป C จะได้ว่า รูป A ≅ รูป C
	รูป A ≅ รูป A

$\triangle MKS \cong \triangle VIP$ ให้นักเรียนระบุด้านคู่ที่สมนัยกันและมุมคู่ที่สมนัยกัน

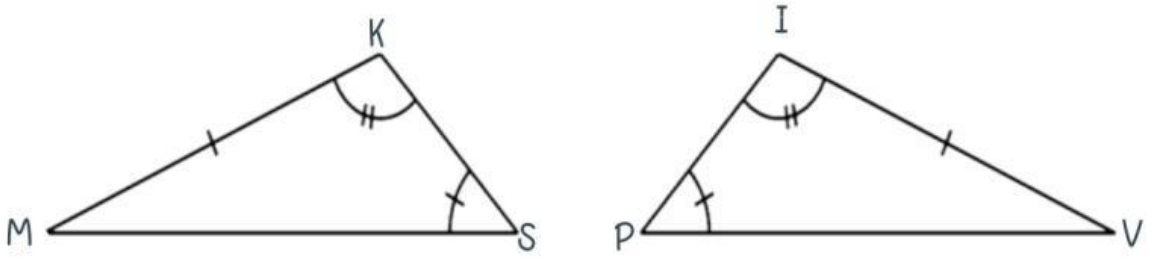

ด้านคู่ที่สมนัยกัน คือ $\overline{MK} \sim$ ☐ , $\overline{KS} \sim$ ☐ และ $\overline{SM} \sim$ ☐

มุมคู่ที่สมนัยกัน คือ $\hat{M} \sim$ ☐ , $\hat{K} \sim$ ☐ และ $\hat{S} \sim$ ☐

ขอให้ทุกคนโชคดี...ในการสอบ

LIVEWORKSHEETS