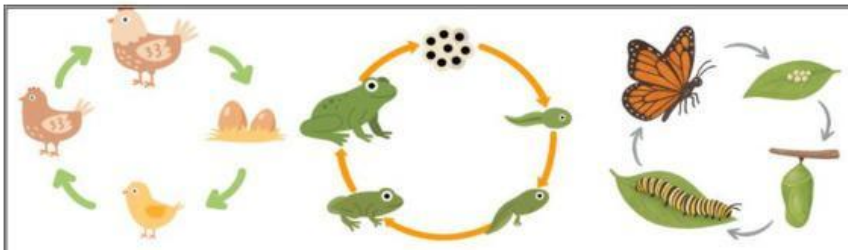

دورة حياة الحيوانات

١	اختاري الإجـــــابة الصحيحة مما يلي:			
	المراحل التي يمر بها المخلوق الحي في حياته			
	دورة الحياة	دورة الخلية	التحول	التكاثر
٢	المراحل التي تمر بها الحشرات والبرمائيات و التب يختلف بعضها عن بعض			
	دورة الحياة	دورة الخلية	التحول	التكاثر
٣	يسمى صغير الضفدع بـ			
	بيضة	أبا ذنيبة	العذراء	الشرنقة
٤	الترتيب الصحيح لدورة حياة الخنفساء			
	عذراء-يرقة-بيضة-خنفساء مكتملة النمو	بيضة-يرقة-عذراء-خنفساء مكتملة النمو	بيضة-عذراء-يرقة-خنفساء مكتملة النمو	خنفساء مكتملة النمو-بيضة-يرقة-عذراء
٥	تغلف الحشرة في دورة حياتها بشرنقة صلبة في مرحلة			
	البيضة	اليرقة	العذراء	الحشرة المكتملة النمو
٦	تتشابه الطيور والأسماك والزواحف في أنها			
	تتنفس بالرئتين	تشبه ابويها عند الولادة	لها ارجل	تبدأ دورة حياتها بالبيضة
٧	يُبَيِّنُ المُخَطَّطُ أَدْناهُ مَراحِلَ دَورَةِ حَياةِ حَشَرَةِ الخُنْفساءِ، فأيُّ المَراحِلِ أدْناهُ تُناسِبُ ملءَ الفراغِ(؟) 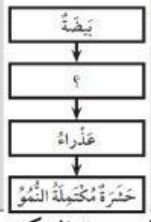			
	البيضة	اليرقة	العذراء	الحشرة المكتملة النمو
٨	ما المرحلة المفقودة في دورة حياة الضفدع			
	البيضة	اليرقة	ابوذنيبة	الضفدع الكبير
٩	الحيوان الذي يشبه السحلية في دورة حياته(تلميح السحلية زواحف) 😊			
	الذباب	السلحفاة	الماعز	السمكة
١٠	أَنْظُرُ إِلَى الشَّكْلِ أَدْنَاهُ الَّـذِي يُوَضِّحُ دَوْرَةَ حَيَاةِ الضِّفْدَعِ: 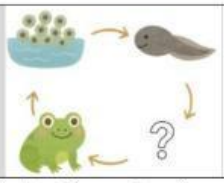			
	بيضة	الضفدع الصغير	الضفدع مكتمل النمو	ابوذنيبة

أمل فقيري

LIVEWORKSHEETS

١١	تَتَّصِفُ صِغَارُ السَّلَاحِفِ وَالدَّجَاجِ بِأَنَّهَا:			
	تَبْدَأُ حَيَاتَهَا بِالْبَيْضَةِ.	تَعْتَنِي بِنَفْسِهَا.	تَسْتَطِيعُ الْعَيْشَ عَلَى الْيَابِسَةِ وَفِي الْمَاءِ.	يُغَطِّي أَجْسَامَهَا الرِّيشُ

ما المراحل المفقودة في دورة حياة الفراشة

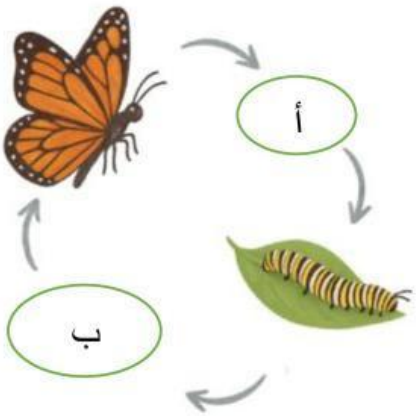

السؤال الثاني: ضع علامة (✓) أمام العبارة الصحيحة، وعلامة (✗) أمام العبارة الخاطئة؟		✓✗
١	تمر الخنفساء بدورة حياة تتكون من مراحل مختلفة تسمى التحول	
٢	البَرَّمَائِيَّاتُ وَبَعْضُ الحَشَرَاتِ تَمُرُّ بِمَرْحَلَةِ التَّحَوُّلِ؛ إِذْ تَبْدَأُ دَوْرَةُ حَيَاتِهَا بِالبَيْضَةِ.	
٣	تَتَشَابَهُ الزَّوَاحِفُ وَالْأَسْمَاكُ وَالطُّيُورُ فِي دَوْرَاتِ حَيَاتِهَا؛ فَهِيَ تَتَكَاثَرُ بِالْبَيْضِ.	
٤	لا تمر الثدييات والطيور بمراحل التحول التي تمر بها الزواحف والحشرات	

أمل فقيري

LIVEWORKSHEETS