Kurikulum Merdeka | MERDEKA BELAJAR | Merdeka Mengajar

LKPD

Lembar Kerja Peserta Didik

Oprasi Hitung Perkalian

Nama : _____

Kelas : _____

3

PENYUSUN :

NAILA FAIZATUR ROSYIDA

34302400007

3A

LIVEWORKSHEETS

Nama : Kelas :

Perkalian Soal Cerita !

Petunjuk : Bacalah soal cerita, lalu hitung dan jawab lah dengan tepat !



Badut memberi 6 balon ke anak. Setiap anak mendapat 4 balon. Berapa balon yang diberikan badut ?
Jawab :

..... x ..... = ...



Naila mempunyai 3 kelinci. Setiap hari kelinci Naila makan 5 wortel. Ada berapa wortel yang di butuhkan setiap harinya ?
Jawab :

..... x ..... = ...



Rio memelihara 4 ayam. Hari ini ke - 5 ayam Rio bertelur, masing - masing bertelur 4 butir. Berapa jumlah telur - telur ayam Rio ?
Jawab :

..... x ..... = ...

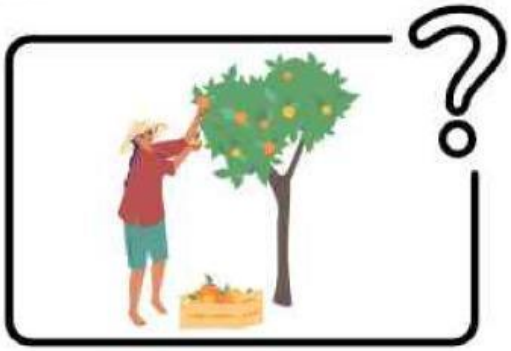

Ibu memetik jeruk mendapat 5 kantong. Masing - masing kantong berisi 9 jeruk, berapa jumlah jeruk yang dibawa ibu ?
Jawab :

..... x ..... = ...

LIVEWORKSHEETS

Nama : **Kelas :**

Perkalian Soal Cerita !

Petunjuk : Bacalah soal cerita, lalu hitung dan jawab lah dengan tepat !

Ibu membeli 3 bungkus tahu. Setiap bungkus berisi 5 buah tahu. Berapa banyak tahu yang dibeli ibu ?
Cara Penyelesaian :
Bungkus tahu yang dibeli ibu = 3 bungkus
Isi masing - masing bungkus tahu = 5 tahu
Maka operasi matematika yang dilakukan

adalah ..... x ..... = ...
Jadi tahu yang dibeli ibu berjumlah .... buah.

Andi membeli 3 utas tali rafia berwarna merah, yang masing - masing panjangnya 6 cm. Andi juga membeli 4 utas rafia berwarna biru yang masing - masing panjangnya 5 cm. Berapakah cm panjang tali yang dibeli Andi ?
Cara Penyelesaian :

- Tali berwarna merah **3** utas dengan panjang masing2 **6** cm, maka operasi perhitungannya adalah ..... x ..... = ... cm
- Tali berwarna biru **4** utas dengan panjang masing2 **5** cm, maka operasi perhitungannya adalah ..... x ..... = ... cm

Jadi jika kedua panjang tali merah dan biru di jumlah, maka panjang keseluruhan tali yang dibeli oleh Andi adalah ..... + ... = ... cm



Ayah memiliki 10 keranjang apel. Setiap keranjang berisi 10 buah apel. Berapakah jumlah apel yang dimiliki ayah ?
Cara Penyelesaian :
Jumlah keranjang apel milik ayah : **10** keranjang
Jumlah apel ditiap keranjang : **10** buah
Maka operasi perhitungan yang dilakukan adalah

..... x ..... = ...
Jadi ayah memiliki ..... buah apel dari seluruh keranjang miliknya

LIVEWORKSHEETS

Nama :

Kelas :

KERJAKAN HASIL PERKALIAN BERIKUT DENGAN PENJUMLAHAN BERULANG !

4 x 8	=	8 + 8 + 8 + 8	=	32
...	=	4 + 4 + 4 + 4 + 4 + 4	=	24
5 x 7	=	...	=	35
...	=	5 + 5 + 5 + 5 + 5 + 5	=	...
5 x 3	=	...	=	...
2 x 10	=	10 + 10	=	...

LIVEWORKSHEETS