LEMBAR KERJA PESERTA DIDIK (E-LKPD)

Oleh : Yayan Hilmawan, S.Pd
SDN 2 Wanaraja Kab. Banjarnegara

Muatan Pelajaran : Matematika
Pokok Bahasan : Bangun Datar
Kelas / Semester : IV / II

PROGRAM BELAJAR DARI RUMAH (BDR)

Nama Siswa :
Kelas :
No. Absen :

Bangun Datar

A. *Pengertian Bangun Datar*

Bangun datar merupakan sebuah bidang datar yang dibatasi oleh garis lurus ataupun garis lengkung. Jenis bangun datar bermacam-macam, antara lain persegi, persegi panjang, segitiga, jajar genjang, trapesium, layang-layang, belah ketupat, dan lingkaran.

Perhatikan gambar berikut!

B. *Video Bangun Datar*

Agar lebih jelas mengenal bangun datar yuk simak video dibawah ini!

LIVEWORKSHEETS

C. Dengarkan suara berikut....

Tuliskan jawaban kalian dibagian ini!

D. Drop Down

Pilihlah nama bangun datar dibawah ini yang sesuai dengan gambar!





E. Pilihan Ganda

1. Apakah nama bangun datar dibawah ini?



a. persegi
b. lingkaran
c. jajar genjang
d. belah ketupat

2. Luas bangun datar dibawah ini adalah ..... cm^2

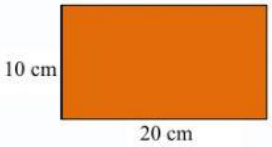

a. 60 cm^2
b. 100 cm^2
c. 200 cm^2
d. 400 cm^2

F. Kotak Centang / check list

Berilah tanda centang (√) pada pernyataan yang benar berdasarkan gambar bangun datar dibawah ini!

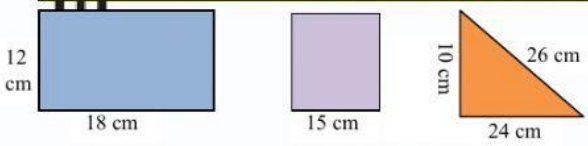

A B C

LIVEWORKSHEETS

- bangun datar A memiliki keliling 60 cm
- bangun datar B memiliki keliling 30 cm
- bangun datar C memiliki keliling 60 cm
- keliling bangun A, B, dan C adalah sama besar yaitu 60 cm

G. Menjodohkan

Pasangkan gambar benda dengan nama bangun datar dibawah ini dengan menarik garis agar sesuai!

lingkaran

Belah ketupat

persegi

segitiga

layang - layang

persegi panjang

trapesium

Jajar genjang

LIVEWORKSHEETS

H. Drag and Drop

Tarik dan pindahkan rumus luas yang sesuai gambar disamping pada kolom yg berwana kuning!

Bangun Datar	Rumus Luas
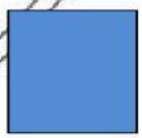	
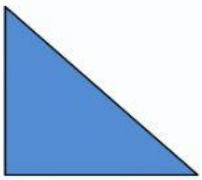	

L = s x s

L = p x l

$L = \pi r^2$

$L = \frac{a \times t}{2}$

LIVEWORKSHEETS