แบบทดสอบเก็บคะแนน เรื่องวงกลม(1)

คำชี้แจง : จงเลือกคำตอบที่ถูกต้องที่สุดเพียงข้อเดียว

1. จากรูป จงหาขนาดของมุม ACB

1) 20°
2) 25°
3) 30°
4) 40°

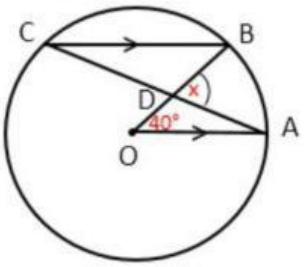

2. จากรูป จงหาค่า X

1) 20°
2) 40°
3) 50°
4) 60°

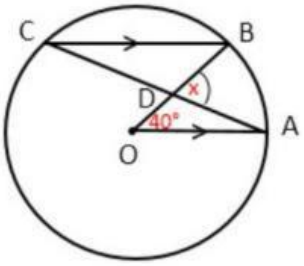

3. จากรูป จงหาค่า X

1) 10°
2) 17°
3) 20°
4) 28°

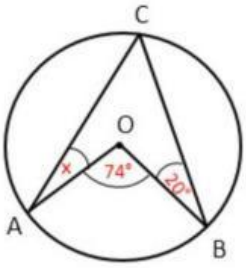

4. จากรูป จงหาขนาดของมุม ABC

1) 50°
2) 60°
3) 90°
4) 100°

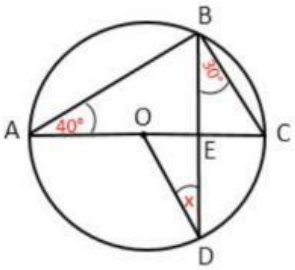

5. จากรูป จงหาขนาดของมุม ABE

1) 50°
2) 60°
3) 90°
4) 100°

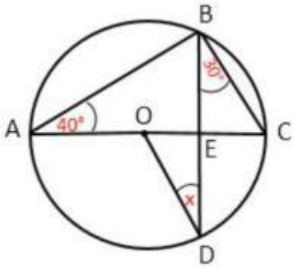

6. จากรูป จงหาขนาดของมุม DOC

1) 50°
2) 60°
3) 90°
4) 100°

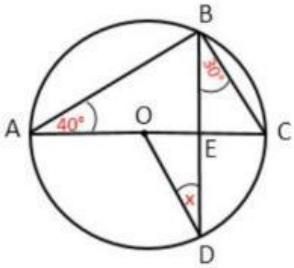

7. จากรูป จงหาค่า X

1) 20°
2) 25°
3) 27°
4) 30°

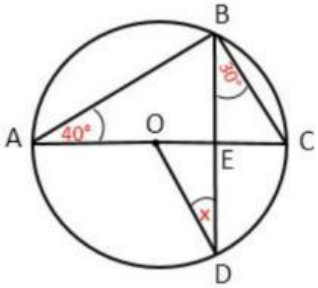

8. จากรูป จงหาค่า X

1) 25°
2) 30°
3) 35°
4) 40°

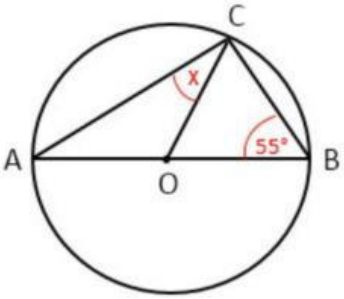

LIVEWORKSHEETS

9. จากรูป จงหาค่า X

1) 44°
2) 54°
3) 62°
4) 70°

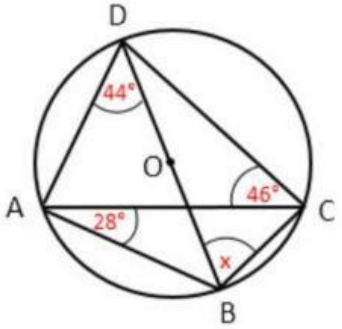

10. จากรูป จงหาขนาดของมุม ABC

1) 72°
2) 94°
3) 100°
4) 108°

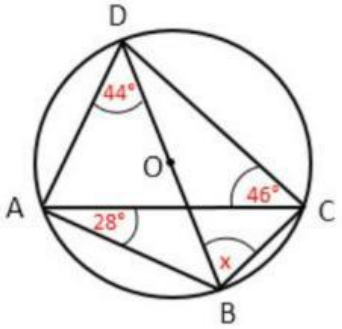

11. จากรูป จงหาขนาดของมุม ABD

1) 46°
2) 54°
3) 62°
4) 70°

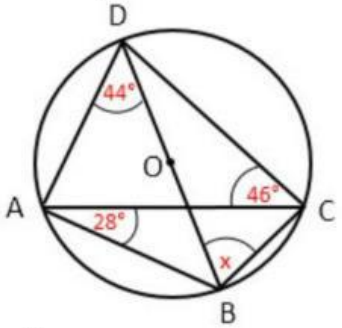

12. จากรูป จงหาค่า X

1) 70°
2) 75°
3) 80°
4) 85°

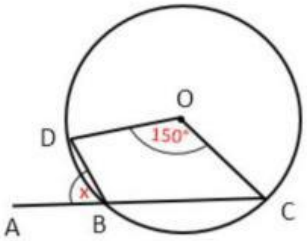

13. จากรูป จงหาขนาดของมุม DBC

1) 96°
2) 100°
3) 105°
4) 112°

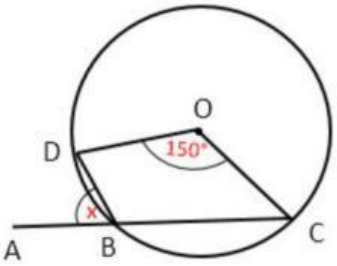

14. จากรูป จงหาค่า X

1) 48°
2) 52°
3) 55°
4) 60°

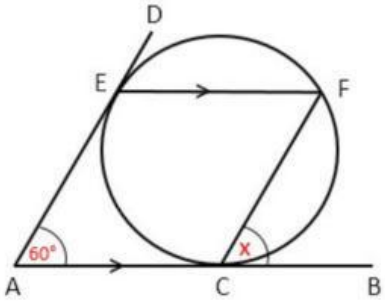

15. จากรูป จงหาค่า X

1) 60°
2) 62°
3) 65°
4) 72°

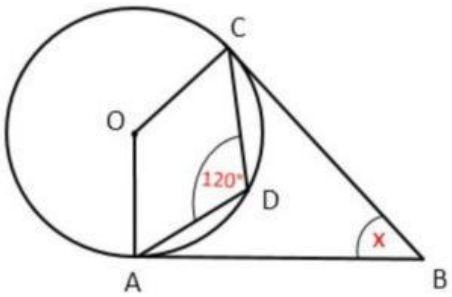

LIVEWORKSHEETS