PENEMU

CARI TAHU PECAHAN

- Perhatikan gambar berikut ini!
- Berikan tanda centang pada gambar yang menunjukkan contoh pecahan
- Tariklah salah satu bilangan pecahan dari pilihan di bawah ke gambar pecahan yang tepat!

1

2

3

4



5

6



$\frac{3}{5}$ $\frac{1}{2}$ $\frac{3}{4}$ $\frac{1}{5}$ $\frac{2}{6}$ $\frac{2}{3}$

LIVEWORKSHEETS

PENEMU

PECAHAN SENILAI

- Carilah gambar pecahan yang besarnya sama dengan pecahan contoh!
- Tarik gambar yang sama pada kotak A, B, dan C!
- Tuliskan nama bilangan pecahan yang ditunjukkan gambar!
- Lengkapilah titik-titik di bawahnya untuk menghitung pecahan senilai!

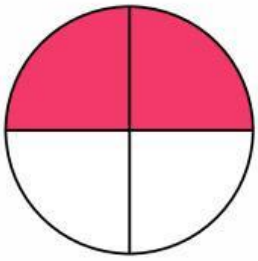

$\frac{2}{4}$

A	B	C
= ___	= ___	= ___

$\frac{2}{4}$ ÷2 ÷2 = ___	$\frac{2}{4}$ x 2 x 2 = ___	$\frac{2}{4}$ x 3 x 3 = ___

Pecahan yang besarnya dapat disebut **pecahan senilai**

Jadi, pecahan $\frac{\square}{\square}$ senilai dengan $\frac{\square}{\square}$ $\frac{\square}{\square}$ $\frac{\square}{\square}$

karena

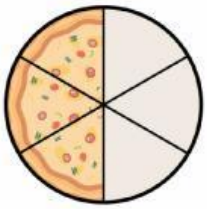

LIVEWORKSHEETS