แบบฝึกหัด
ความเท่ากันทุกประการแบบ มุม-ด้าน-มุม

ให้นักเรียนเลือกข้อความจับคู่ให้ถูกต้อง

1.

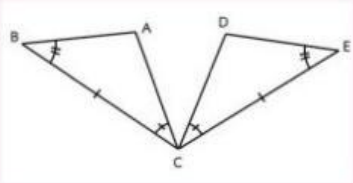

1) $\overline{BC}$ = ( )
2) $A\hat{B}C$ = ( )
3) $D\hat{C}E$ = ( )
4) △ABC ( )

ตัวเลือก

$\overline{CE}$ | $A\hat{C}B$ | △CDE | $C\hat{E}D$

2.

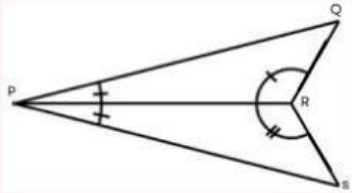

1) $\overline{PR}$ ( )
2) $P\hat{R}Q$ = ( )
3) $Q\hat{P}R$ = ( )
4) △QPR ( )

ตัวเลือก

△RPS | $R\hat{P}S$ | $P\hat{R}S$ | เป็นด้านร่วม

3.

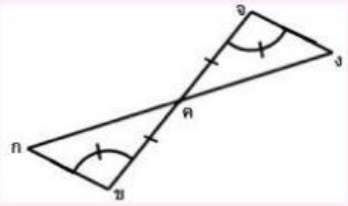

1) $\overline{จค}$ = ( )
2) กขค = ( )
3) กคข = จคง ( )
4) △กคข ( )

ตัวเลือก

เป็นมุมตรงข้าม | คจง | $\overline{ขค}$ | △จคง

4.

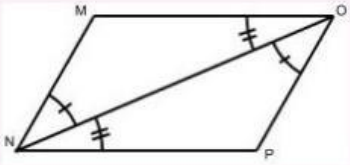

1) $\overline{NO}$ ( )
2) $M\hat{N}O$ = ( )
3) $N\hat{O}M$ = ( )
4) △NOP ( )

ตัวเลือก

เป็นด้านร่วม | △MON | $N\hat{O}P$ | $O\hat{N}P$

5.

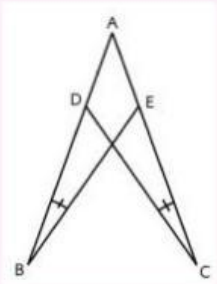

1) $\overline{AC}$ = ( )
2) $B\hat{A}C$ ( )
3) $A\hat{B}E$ = ( )
4) △DCA ( )

ตัวเลือก

$D\hat{C}A$ | △ABE | $\overline{AB}$ | เป็นมุมร่วม

ชื่อ.....ชั้น.....เลขที่.....

LIVEWORKSHEETS