Họ tên:.....

Toán

1 Xem hình rồi nói và viết phép nhân (theo mẫu):

Mẫu:

5 được lấy 3 lần

5 x 3 = 15

a)

4 được lấy ..... lần

b)

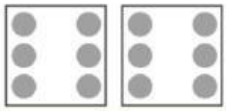

..... được lấy ..... lần

Điền dấu phép tính: 4 ◯ 5 = 20 | 6 ◯ 2 = 12

2 Nối phép nhân thích hợp với mỗi tranh vẽ:



5 x 2



6 x 3

4 x 3

LIVEWORKSHEETS

3 Chuyển tổng các số hạng bằng nhau thành phép nhân (theo mẫu):

Mẫu: 7 + 7 + 7 = 21
7 x 3 = 21

a) 2 + 2 + 2 = 6

? x ? = ?

b) 10 + 10 + 10 + 10 = 40

? x ? = ?

c) 9 + 9 = 18

? x ? = ?

d) 5 + 5 + 5 + 5 + 5 + 5 = 30

? x ? = ?

4 a) Quan sát tia số, viết số thích hợp vào chỗ chấm:

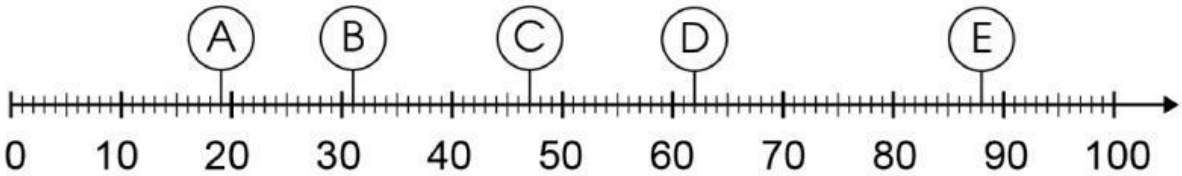

A: ..?....; B: ..?....; C: ..?....; D: ..?....; E: ..?....

b) **Số ?**

Số liền trước	Số đã cho	Số liền sau
..?...	40	..?...
..?...	59	..?...
..?...	81	..?...

LIVEWORKSHEETS