ชื่อ.....ชั้น.....เลขที่.....

แบบทดสอบก่อนเรียน

คำชี้แจง : รูปใดบ้างที่แบ่งเป็นส่วนเท่าๆกัน

ข้อที่ 1 ○○○

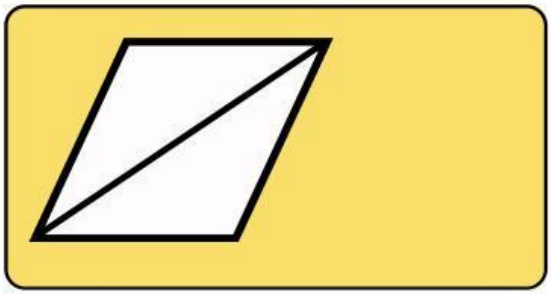

ข้อที่ 2 ○○○

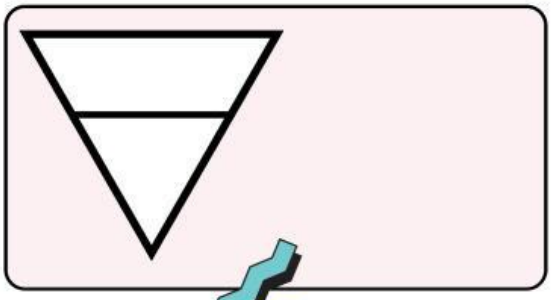

ข้อที่ 3 ○○○

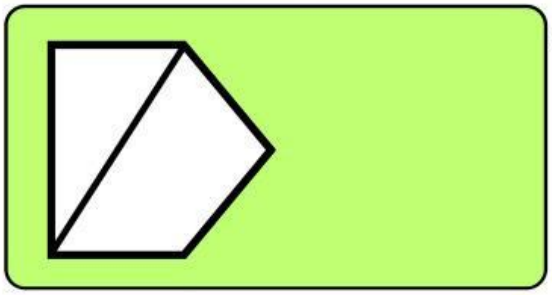

ข้อที่ 4 ○○○

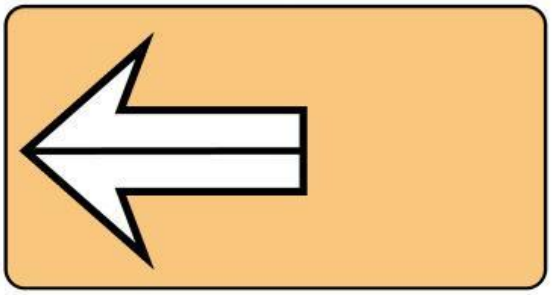

ข้อที่ 5 ○○○

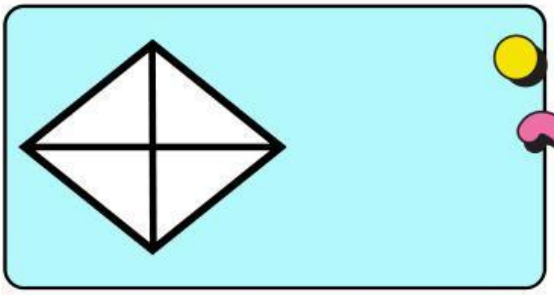

ข้อที่ 6 ○○○

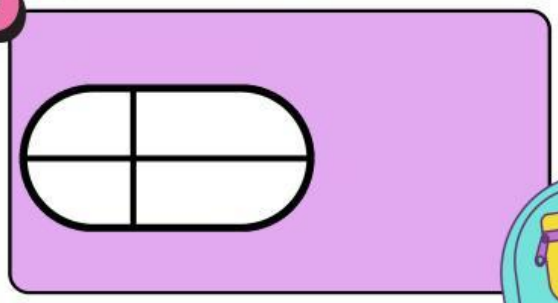

LIVEWORKSHEETS