ชื่อ_____ ชั้น_____ เลขที่_____

ว3.1
ป.5/2

ใบงานวิชาวิทยาศาสตร์ ชั้นประถมศึกษาปีที่ 5
เรื่อง การประมาณค่ามุมเงย

คำชี้แจง: ให้นักเรียนประมาณค่ามุมเงยจากภาพมือที่กำหนดให้ต่อไปนี้

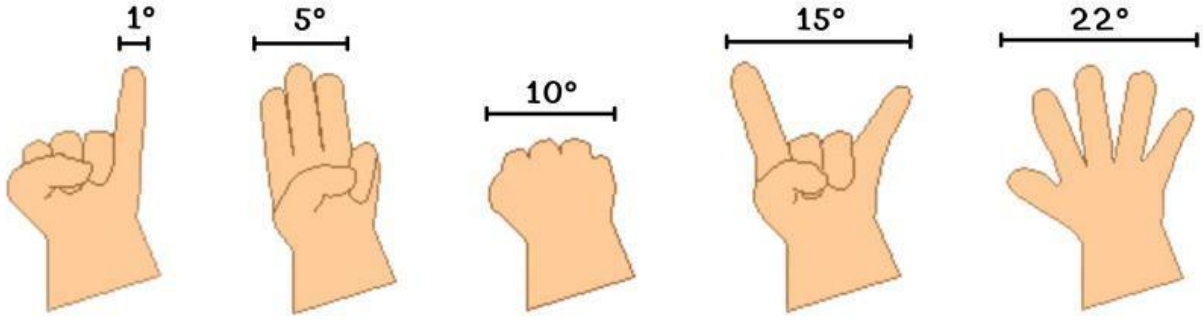

ค่ามุมเงย เท่ากับ _____ องศา



ค่ามุมเงย เท่ากับ _____ องศา

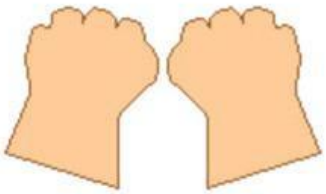

ค่ามุมเงย เท่ากับ _____ องศา



ค่ามุมเงย เท่ากับ _____ องศา



ค่ามุมเงย เท่ากับ _____ องศา



ค่ามุมเงย เท่ากับ _____ องศา

LIVEWORKSHEETS