LKPD
Bilangan Pecahan

UNTUK KELAS V SD

Nama :

No :

Kelas :

LIVEWORKSHEETS

Tujuan Pembelajaran:

Setelah mempelajari bab ini, diharapkan kalian dapat mengurutkan, membandingkan, serta melakukan operasi hitung penjumlahan dan pengurangan bilangan pecahan

Petunjuk mengerjakan:

- Tuliskan nama pada kolom yang tersedia!
- baca dan pahamilah pertanyaan-pertanyaan dari masalah yang disajikan dalam lkpd
- jawablah pertanyaan dalam lkpd
- jika terdapat hal yang tidak dimengerti bertanyalah kepada guru!
- jika telah selesai silahkan dikumpul!

LIVEWORKSHEETS

Menentukan nilai pecahan

Tentukanlah nilai pecahan gambar bagian pizza berikut!



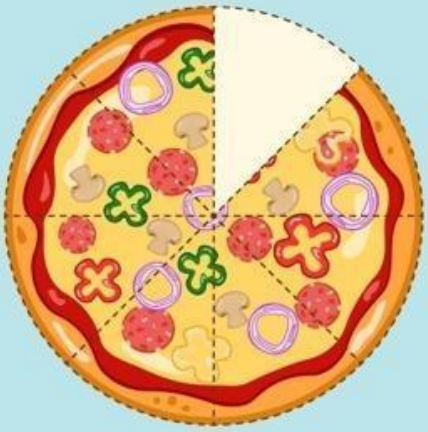

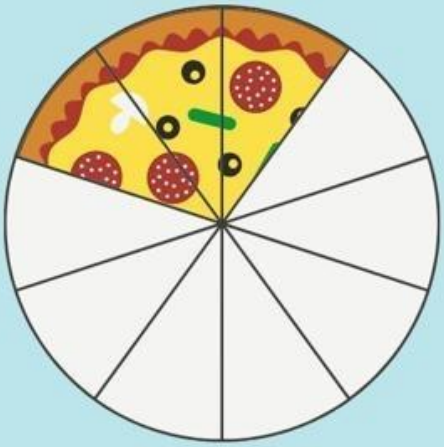

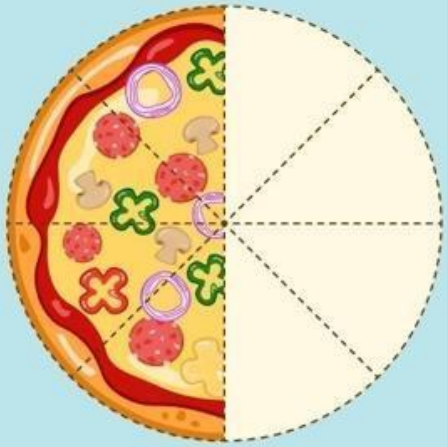

LIVEWORKSHEETS

Mengurutkan Pecahan Sederhana

Urutkan bilangan pecahan berikut dari yang terkecil

$\frac{1}{8}$ $\frac{1}{5}$ $\frac{1}{4}$ $\frac{1}{6}$

→ ☐ → ☐ → ☐ → ☐

$\frac{1}{6}$ $\frac{1}{2}$ $\frac{1}{4}$ $\frac{1}{5}$

→ ☐ → ☐ → ☐ → ☐

$\frac{1}{8}$ $\frac{1}{5}$ $\frac{1}{10}$ $\frac{1}{2}$

→ ☐ → ☐ → ☐ → ☐

Urutkan bilangan pecahan berikut dari yang terbesar

$\frac{2}{5}$ $\frac{1}{5}$ $\frac{4}{5}$ $\frac{3}{5}$

→ ☐ → ☐ → ☐ → ☐

$\frac{6}{8}$ $\frac{4}{8}$ $\frac{7}{8}$ $\frac{1}{8}$

→ ☐ → ☐ → ☐ → ☐

$\frac{5}{9}$ $\frac{3}{9}$ $\frac{7}{9}$ $\frac{8}{9}$

→ ☐ → ☐ → ☐ → ☐

LIVEWORKSHEETS

Membandingkan nilai pecahan

Bandingkan dan berilah tanda <, >, atau = pada pecahan berikut ini!

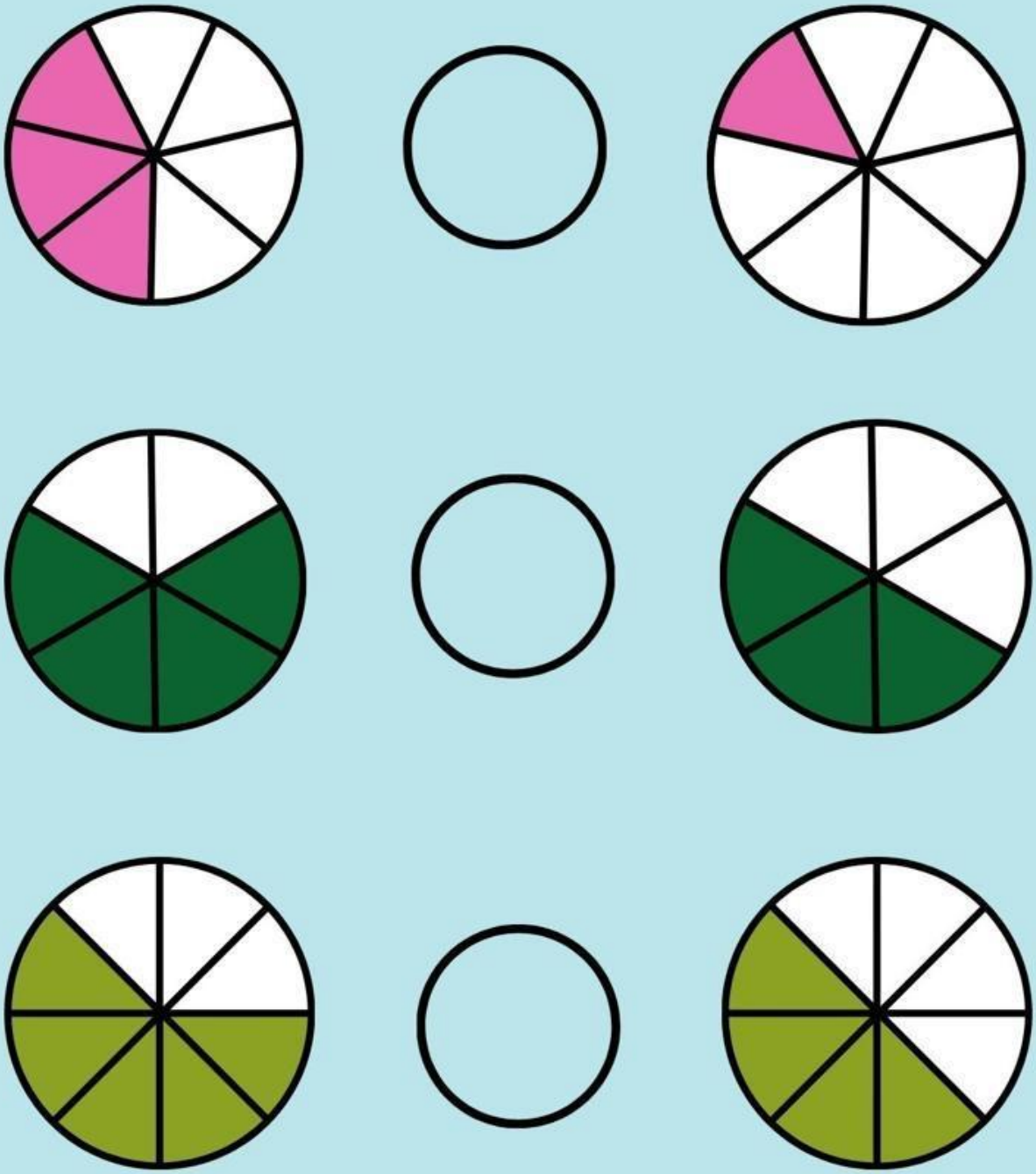

LIVEWORKSHEETS

Menghitung Pecahan Sederhana

Hitunglah jumlah pecahan sederhana berikut ini dengan metode penjumlahan dan pengurangan pecahan pada kotak yang telah disediakan

- $\frac{1}{3} + \frac{3}{3} = \frac{\square}{3}$
- $\frac{1}{5} + \frac{8}{5} = \frac{\square}{5}$
- $\frac{10}{6} - \frac{5}{6} = \frac{\square}{6}$
- $\frac{14}{7} - \frac{3}{7} = \frac{\square}{7}$

LIVEWORKSHEETS